Lembar Kerja Peserta Didik

LKPD

MATEMATIKA

MENGURUTKAN DAN MEMBANDINGKAN BILANGAN

Nama : .....

Kelas : .....

LIVEWORKSHEETS

Mata Kuliah :
Inovasi Pembelajaran Matematika SD Berbasis Digital

Dosen Pengampu:
Masniladevi, S.Pd., M.Pd
Fardatil Aini, M.Pd

Oleh:
Avril Syura Fidiana
(22129125)

Kelas:
22 AT 17

LIVEWORKSHEETS

Capaian Pembelajaran:

Pada akhir fase A, peserta didik menunjukkan pemahaman dan memiliki intuisi ilangan (number sense) pada bilangan cacah sampai 100, mereka dapat membaca, menulis, menentukan nilai tempat, membandingkan, mengurutkan, serta melakukan komposisi (menyusun) dan dekomposisi (mengurai) bilangan. Peserta didik dapat melakukan operasi penjumlahan dan pengurangan menggunakan benda-benda konkret yang banyaknya sampai 20.

Tujuan Pembelajaran:

- **Peserta didik dapat membandingkan bilangan sampai 20**
- **Peserta didik dapat mengurutkan bilangan sampai 20**

Alur Tujuan Pembelajaran:

- **Peserta didik dapat membandingkan bilangan hingga 20, bilangan yang lebih besar, lebih kecil, atau sama dengan benar**
- **Peserta didik dapat mengurutkan angka yang disajikan secara acak (misalnya, 8, 3, 15, 2) menjadi urutan menaik dari 1 hingga 20 atau menurun dari 20 hingga 1 dengan benar**

LIVEWORKSHEETS

Tujuan LKPD:

Peserta didik dapat memahami konsep membandingkan dan mengurutkan bilangan sampai 20

Petunjuk Penggunaan LKPD:

1. Tulislah nama dan kelas ananda pada halaman depan

2. Bacalah langkah-langkah pengerjaan mengerjakan soal. sebelum

3. kerjakan tiap kegiatan sesuai petunjuk yang ada

4. setelah selesai mengerjakan, tekan tombol finish

5. kemudian klik "email my answer to my teacher" untuk mengirim jawaban.

LIVEWORKSHEETS

AYO MENGAMATI!!

MEMBANDINGKAN BILANGAN

10 < 12

19 > 13

19 = 19

< = >

LIVEWORKSHEETS

AYO MENGAMATI!!

Mengurutkan Bilangan

Bantu masinis untuk membawa gerbong yang tepat, yuk! Urutkan gerbong dari angka terkecil hingga terbesar ya. Gunting gerbong, lalu tempel secara berurutan.

13 — 15 — 20

13 20 15

3 — 5 — 9

9 3 5

LIVEWORKSHEETS

AYO BERLATIH!!

Dapatkah kamu membandingkan jumlah benda di masing-masing kelompok? Benda apa yang paling banyak?





Letakkan lingkaran biru pada jawaban yang benar!

Kursi

Meja



LIVEWORKSHEETS

LET'S GO

AYO BERLATIH!!

Urutkanlah harga di bawah dari yang termurah dan pindahkan gambar pada kotak!

1.	2.
3.	4.
5.	6.



LIVEWORKSHEETS

SEMANGAT BELAJAR





LIVEWORKSHEETS