NILAI TEMPAT BILANGAN CACAH

Pilihlah jawaban yang benar nilai tempat pada bilangan cacah berikut ini!

2.987

Ribuan	Ratusan	Puluhan	Satuan

5.672

Ribuan	Ratusan	Puluhan	Satuan

7.938

Ribuan	Ratusan	Puluhan	Satuan

10.879

Ribuan	Ratusan	Puluhan	Satuan

9.039

Ribuan	Ratusan	Puluhan	Satuan

LIVEWORKSHEETS

Menyelesaikan Soal Cerita Penjumlahan Bilangan Cacah

Tulislah jawaban yang benar pada kolom yang tersedia!

Bu Emma adalah seorang pengusaha yang memiliki toko sembako. Dalam sebulan, ia menjual 12.750 kg beras, 6.240 kg gula, dan 4.500 kg tepung terigu. Bulan berikutnya, penjualannya meningkat sebesar 3.500 kg untuk beras, 1.260 kg untuk gula, dan 750 kg untuk tepung terigu. Berapa total penjualan masing-masing bahan pada bulan kedua?

_____

Di perpustakaan sekolah, terdapat 48.573 buku yang terdiri dari berbagai jenis, seperti buku cerita, buku pelajaran, dan buku referensi. Petugas perpustakaan ingin mengetahui nilai tempat dari setiap angka pada bilangan tersebut. Berapa nilai tempat untuk angka 4, 8, 5, 7, dan 3 dalam bilangan 48.573?

_____

LIVEWORKSHEETS

Dua orang petani, Pak Adi dan Pak Beni, memiliki hasil panen padi yang berbeda. Pak Adi berhasil memanen sebanyak 32.650 kg, sementara Pak Beni mendapatkan 29.780 kg. Keduanya berencana menjual hasil panennya ke pasar terdekat. Siapa yang memiliki hasil panen lebih banyak, dan berapa selisih hasil panen mereka?

Seorang peternak memiliki empat jenis ternak: sapi, kambing, ayam, dan bebek. Jumlah sapi ada 3.450 ekor, kambing 1.875 ekor, ayam 12.500 ekor, dan bebek 8.320 ekor. Urutkan jumlah hewan ternak dari yang paling banyak hingga paling sedikit!

Di sebuah stadion, terdapat total 67.498 kursi penonton yang terbagi menjadi beberapa bagian: 60.000 kursi di tribun utama, 7.000 kursi di tribun samping, 400 kursi di tribun VIP, dan sisanya di tribun ekonomi. Tuliskan bilangan 67.498 sebagai hasil penjumlahan dari komponen-komponen tempatnya!

LIVEWORKSHEETS

POLA BILANGAN

Tuliskan jawaban yang benar pada pola bilangan berikut!

1.	121	125	.....	133	.....	.....
2.	135	.....	145	150	.....	.....
3.	111	116	121	.....	.....	.....
4.	140	.....	160	170	.....	.....
5.	153	.....	.....	162	.....	.....
6.	.....	.....	140	142	.....	.....
7.	.....	.....	120	.....	126	129
8.	.....	.....	165	170	.....	.....

LIVEWORKSHEETS

KPK dan FPB

Hitunglah kelipatan bilangan dibawah ini, kemudian isilah titik-titik dengan jawaban yang benar!

1. 3 = ...
2. 4 = ...
3. 5 = ...
4. 6 = ...
5. 7 = ...
6. 8 = ...
7. 9 = ...
8. 11 = ...

LIVEWORKSHEETS

KPK & FPB

Isilah kotak kosong dibawah ini dengan benar serta tentukan KPK dan FPBnya!

1 8 dan 12

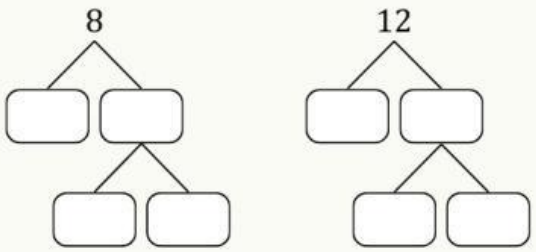

FPB =_____ KPK =_____

2 24 dan 30

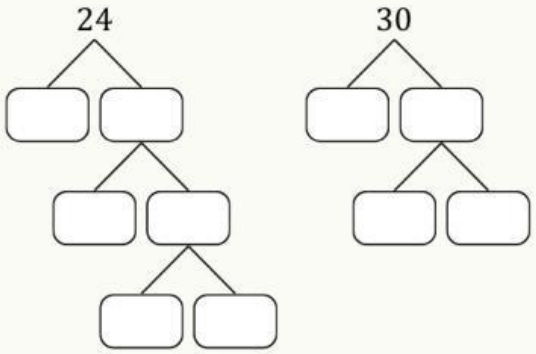

FPB =_____ KPK =_____

3 60 dan 100

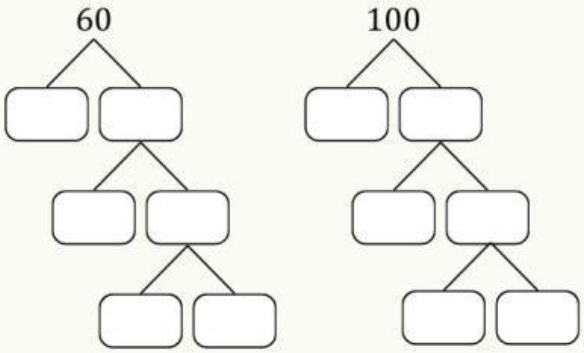

FPB =_____ KPK =_____

4 18 dan 75

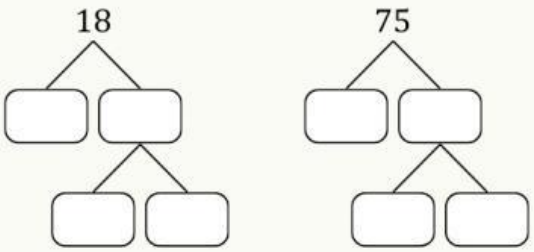

FPB =_____ KPK =_____

5 234 dan 315

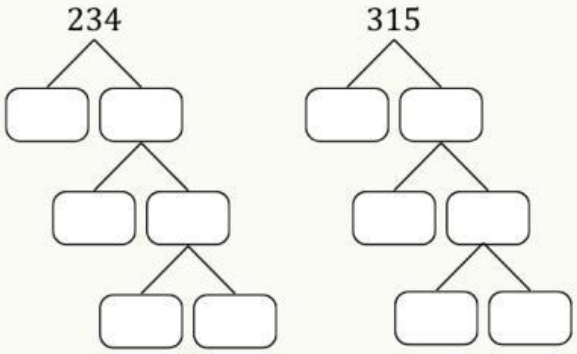

FPB =_____ KPK =_____

6 56 dan 210

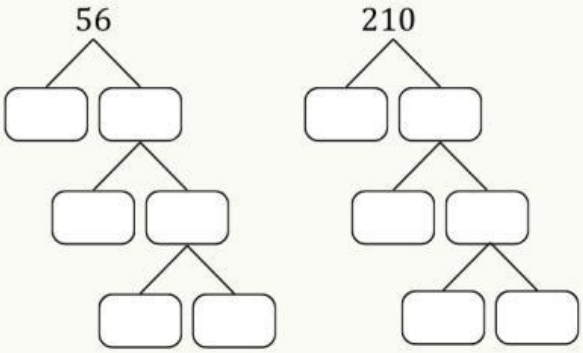

FPB =_____ KPK =_____

LIVEWORKSHEETS

Uraian

Ucapkan jawaban yang benar dari soal dibawah ini !

1. Rina berlatih renang setiap 4 hari sekali, sementara Sinta berlatih setiap 6 hari sekali. Jika mereka mulai berlatih pada hari yang sama, berapa hari kemudian mereka akan berlatih bersama-sama lagi?

2. Pak Budi memiliki dua lampu taman. Lampu pertama menyala setiap 8 detik, sedangkan lampu kedua menyala setiap 12 detik. Jika kedua lampu dinyalakan bersamaan, setelah berapa detik kedua lampu akan menyala bersamaan lagi?

3. Sebuah sekolah memiliki 36 bangku dan 24 meja. Kepala sekolah ingin mengatur bangku dan meja tersebut dalam beberapa baris dengan jumlah yang sama di setiap baris. Berapa jumlah bangku dan meja maksimum yang bisa ditempatkan di setiap baris?

LIVEWORKSHEETS

4. Di sebuah desa, panitia memiliki 30 pohon mangga dan 45 pohon rambutan yang akan ditanam dalam beberapa kelompok. Setiap kelompok harus memiliki jumlah pohon mangga dan rambutan yang sama. Berapa jumlah maksimum pohon mangga dan rambutan di setiap kelompok?

5. Sebuah pabrik memiliki dua mesin. Mesin pertama selesai memproduksi barang setiap 18 menit, sedangkan mesin kedua setiap 24 menit. Jika kedua mesin mulai bekerja pada waktu yang sama, setelah berapa menit kedua mesin akan selesai memproduksi barang bersamaan lagi?

6. Pak Andi memiliki 48 buku matematika dan 72 buku sains yang akan dibagikan kepada murid-muridnya dengan jumlah yang sama di setiap kelompok. Berapa jumlah maksimum buku yang bisa dibagikan di setiap kelompok?

7. Pak Toni memiliki 60 pensil dan 84 penghapus yang ingin dibagikan kepada murid-muridnya dengan jumlah yang sama di setiap kelompok. Berapa jumlah maksimal pensil dan penghapus yang bisa dibagikan di setiap kelompok?

LIVEWORKSHEETS

PECAHAN

Hubungkan pecahan dibawah ini dengan benar!

1.

2. 

3.

4.

5.

$\frac{4}{4}$

$\frac{2}{10}$

$\frac{1}{4}$

$\frac{3}{7}$

$\frac{4}{9}$

LIVEWORKSHEETS

Penjumlahan Pecahan

Hitunglah jumlah pecahan sederhana berikut ini, kemudian tuliskan jawaban yang benar pada kotak yang tersedia!

1. $\frac{4}{5} + \frac{2}{3} = \frac{\square}{\square}$

2. $\frac{2}{3} - \frac{1}{7} = \frac{\square}{\square}$

3. $\frac{3}{7} + \frac{1}{4} = \frac{\square}{\square}$

4. $\frac{12}{4} - \frac{5}{4} = \frac{\square}{\square}$

5. $\frac{2}{9} + \frac{6}{7} = \frac{\square}{\square}$

6. $\frac{14}{7} - \frac{3}{7} = \frac{\square}{\square}$

7. $\frac{5}{6} + \frac{3}{6} = \frac{\square}{\square}$

8. $\frac{4}{5} - \frac{2}{7} = \frac{\square}{\square}$

9. $\frac{9}{10} + \frac{5}{10} = \frac{\square}{\square}$

10. $\frac{8}{9} - \frac{2}{3} = \frac{\square}{\square}$

LIVEWORKSHEETS

Tulislah jawaban yang benar pada kolom kosong!

Sinta membuat kue dengan resep yang membutuhkan $1\frac{1}{2}$ gelas gula. Dia menambahkan $\frac{2}{3}$ gelas gula lagi. Berapa gelas gula yang digunakan Sinta?

Dalam suatu perlombaan, Edo menyelesaikan 2/3 dari total lintasan, Tono menyelesaikan 3/5, dan Rina menyelesaikan 4/6. Urutkan dari yang paling cepat hingga paling lambat berdasarkan bagian lintasan yang telah diselesaikan.

LIVEWORKSHEETS

Ani memiliki $\frac{3}{4}$ potong kue, sedangkan Budi memiliki $\frac{5}{6}$ potong kue. Siapa yang memiliki lebih banyak kue?

Dewi memiliki $\frac{2}{5}$ liter jus, dan dia menambahkan lagi $\frac{3}{8}$ liter. Berapa total jus yang Dewi miliki sekarang?

Pak Budi memiliki $\frac{5}{6}$ liter air. Ia menggunakan $\frac{1}{6}$ liter untuk menyiram tanaman. Berapa liter air yang tersisa?

LIVEWORKSHEETS

Keliling Bangun Datar

Hitunglah keliling bangun datar di bawah, kemudian pilih jawaban yang paling benar!

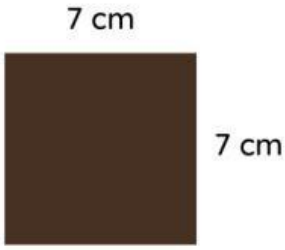

Keliling =

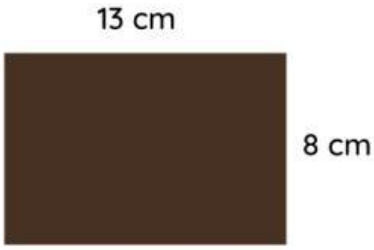

Keliling =

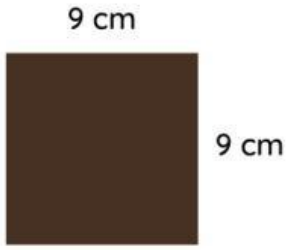

Keliling =

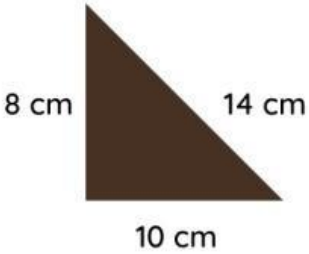

Luas

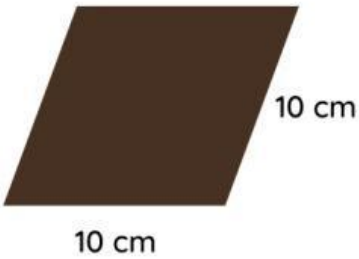

Keliling =

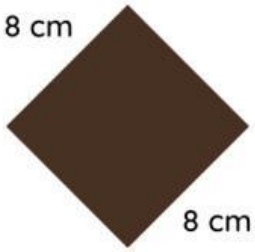

Luas=

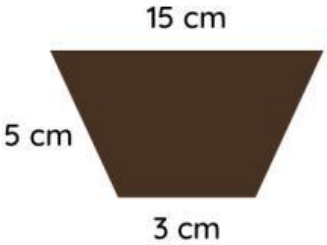

Keliling =

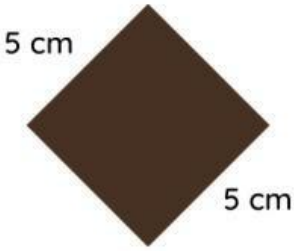

Luas=

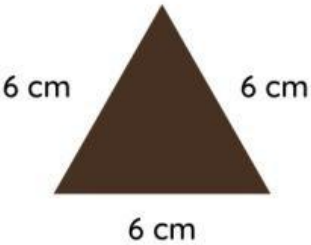

Luas=

LIVEWORKSHEETS

Macam-Macam Bangun Datar

Temukan 6 nama-nama bangun datar pada tabel di bawah ini. Mendatar, menurun atau miring. Kemudian berilah tanda menggunakan garis.

S	A	M	Y	P	Z	A	J	U	X	T	X	D	L	R
X	K	G	O	N	T	R	W	T	P	R	N	T	I	A
G	Y	V	I	F	D	E	H	E	L	A	A	U	N	Z
S	A	Y	C	T	K	H	R	P	N	P	O	T	G	B
A	E	D	R	V	I	S	X	A	A	E	F	A	K	W
F	J	R	H	G	E	G	P	U	U	S	W	C	A	O
I	S	Y	O	G	L	L	E	Y	Y	I	U	S	R	Z
O	W	Z	I	L	L	A	A	S	J	U	N	A	A	V
U	V	I	Z	P	F	H	A	R	T	M	M	U	N	O
P	E	R	S	E	G	I	P	A	N	J	A	N	G	H

LIVEWORKSHEETS

LISTENING

Dengarkan soal berikut, kemudian tulis jawaban yang benar!

1. [redacted]

1. [redacted]

1. [redacted]

1. [redacted]

1. [redacted]

LIVEWORKSHEETS