الفصل ٧

اختبار منتصف الفصل

الدروس من ٧-١ إلى ٧-٤

صنفها إلى: زاوية حادة، أو قائمة، أو مستقيمة، أو منفرجة. (الدرس ٧ – ١)

١

٢

٣ **اختيارٌ منْ متعدّدٍ:** أي زاوية مما يأتي متتامّة مع الزاوية ∠ س ع ل في الشكل أدناه؟ (الدرس ٧ – ٢)

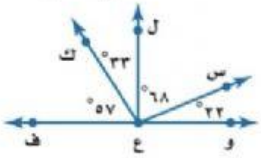

أ) ∠ و ع س

ب) ∠ ف ع س

جـ) ∠ ل ع ك

د) ∠ ك ع ف

استعملِ القطاعاتِ الدائريةَ المجاورةَ، التي تبيّنُ العناصرَ الموجودةَ في جسمِ الإنسانِ، للإجابةِ عنِ الأسئلةِ ٥–٧: (الدرس ٧ – ٣)

٥ ما العنصرُ الَّذِي له النسبةُ المئويةُ الأكبرُ في جسمِ الإنسانِ؟

٦ ما النسبةُ المئويةُ التي تمثِّلُ عنصرَ الكربونِ في جسمِ الإنسانِ؟

٧ قارنْ بينَ النسبةِ المئويةِ لعنصرِ الكربونِ والنسبةِ المئويةِ للعناصرِ الأخرى (غيرِ الأكسجينِ).

جبر: أوجد قيمة س في كلٍّ من السؤالين الآتيين: (الدرس ٧ – ٤)

٨
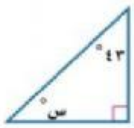

٩
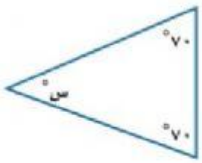

١٠ **اختيارٌ منْ متعدّدٍ:** في المثلث س ص ع، إذا علمت أن ق ∠ س = ٦٢°، ق ∠ ع = ٤٤°، فإن ق ∠ ص يساوي: (الدرس ٧ – ٤)

أ) ٩٠°

ب) ٧٤°

جـ) ٦٤°

د) ٤٢°

LIVEWORKSHEETS