1. **Para saberes os sólidos geométricos que são Poliedros clica no vídeo seguinte:**

2. **Clica em cima dos sólidos representados na figura seguinte para saberes o tipo de poliedro que são.**

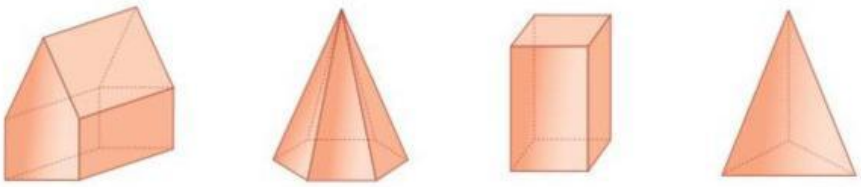

3. **O Pedro, para construir um poliedro, recortou os polígonos representados na figura.**



Qual dos poliedros seguintes o Pedro vai construir, usando os seis polígonos?

LIVEWORKSHEETS

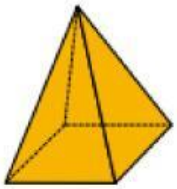

Poliedro A

Poliedro B

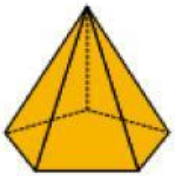

Poliedro C

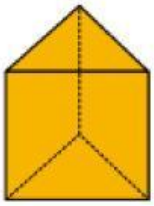

Poliedro D

3. **Na figura, observas a planificação de alguns poliedros.**

(A)

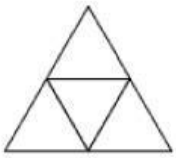

(B)

(C)

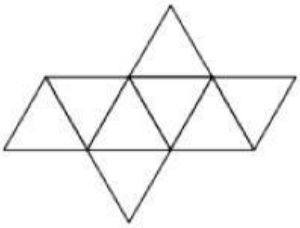

(D)

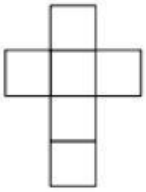

3.1. **Clica no micro enquanto dizes a letra da planificação que corresponde a um poliedro que não é nem um prisma nem uma pirâmide.**

3.2. **Das planificações dadas algumas podem corresponder a sólidos platónicos. Para saberes quais e como se designam/nome de sólidos platónicos clica seguinte *link*:**

LIVEWORKSHEETS