Wonderfully Made

Matematika

Penjumlahan dan Pengurangan

A. Hitunglah banyak balok di bawah ini! (6 poin)

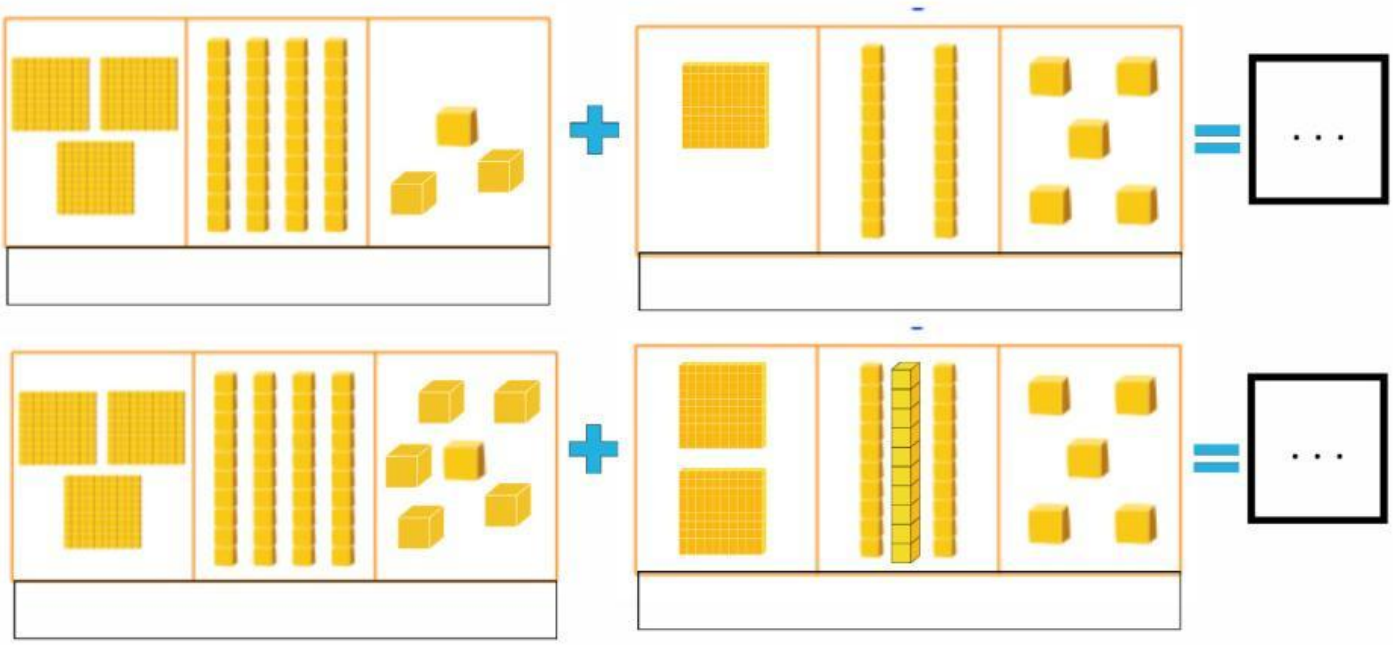

B. Hitunglah banyak balok di bawah ini! (4 poin)

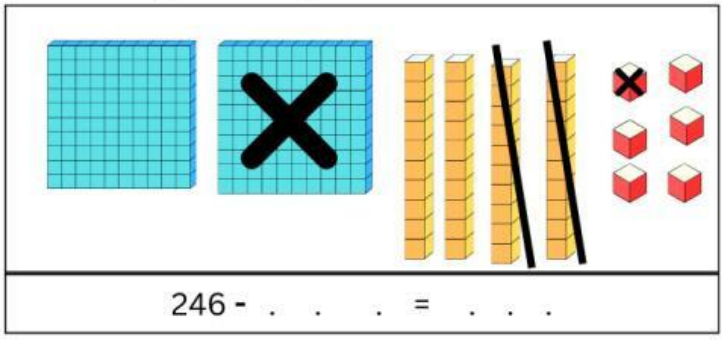

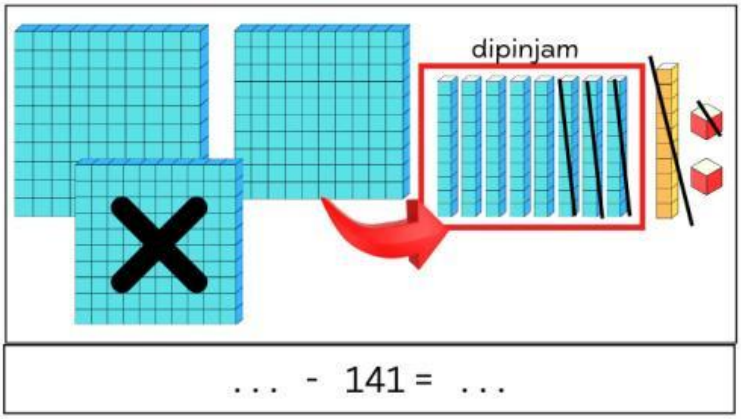

C. Bacalah soal cerita di bawah dengan seksama dan jawablah pertanyaan dengan tepat (6 poin)

Andi membeli 2 kaleng kelereng yang masing-masing berisi 175 dan 87 kelerang. Berapa jumlah seluruh kelereng?
Jawab:

Jadi,

Di sebuah toko, ada 500 buah apel. Kemudian, 175 buah apel terjual. Berapa banyak apel yang tersisa di toko tersebut?
Jawab:

Jadi,

LIVEWORKSHEETS