Kurikulum
Merdeka

LKPD

Lembar Kerja Peserta Didik

Nama : .....

Kelas : .....

LIVEWORKSHEETS

LIHAT VIDEO PEMBELAJARAN BERIKUT



LIVEWORKSHEETS

GRADIEN GARIS

A.Menentukan Gradien dari Grafik garis lurus

pasangkan jawaban berikut dengan cara menarik tanda panah ke jawaban yang tepat

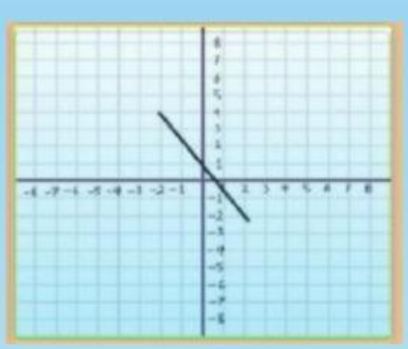

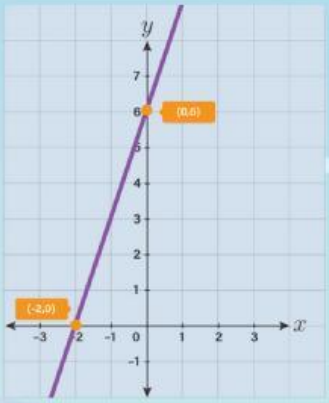

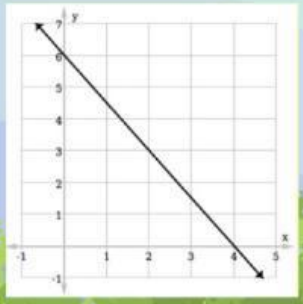

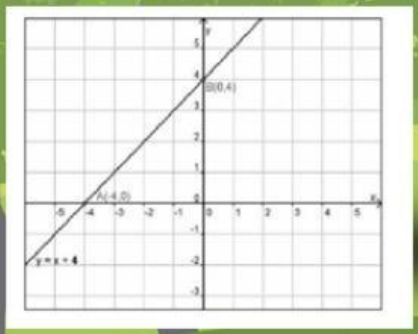

-1

$\frac{3}{2}$

-3

$-\frac{3}{2}$

LIVEWORKSHEETS

GRADIEN GARIS

B.Menentukan Gradien dari Dua Titik

1. **mentukan gradien garis yang melalui dua titik berikut**
   pilihlah jawab yang paling benar

(-3, -1) dan (3, 5)

a. 1 c. $-\frac{6}{7}$

b. -5 d. 2

(5, -3) dan (-2, 3)

a. 1 c. $-\frac{6}{7}$

b. -5 d. 2

(1, 4) dan (3, -6)

a. 1 c. $-\frac{6}{7}$

b. -5 d. 2

(-1, 2) dan (-4, -4)

a. 1 c. $-\frac{6}{7}$

b. -5 d. 2

LIVEWORKSHEETS

GRADIEN GARIS

C. Menentukan gradien garis dari suatu persamaan garis lurus

tulislah jawaban pada kolom yang telah disediakan

$y = 2x + 3$

$y = 5x + 39$

$3x + 5y - 19 = 0$

$3y - 4x = 12$

LIVEWORKSHEETS