lembar kerja peserta didik

LKPD

MATEMATIKA SD KELAS 2 FASE A

Kelompok :
Anggota :1.
2.
3.
Kelas :
Sekolah :

LIVEWORKSHEETS

LKPD

Instansi :SDN 18 padang selatan
Tahun Penyusunan :2024
Jenjang Sekolah :sekolah dasar
Mata Pelajaran : matematika
Kelas /Fase :2/A
Bab : 8 bagian B
Waktu : 40 menit

Tujuan LKPD:

1. dapat membantu peserta didik dalam menyajikan data hasil pengukuran dalam bentuk diagram gambar
2. dapat membantu peserta didik untuk lebih aktif dalam pembelajran
3. untuk mengukur sampai mana pemahaman peserta didik terhadap pembelajaran

LIVEWORKSHEETS

PETUNJUK PENGERJAAN!

1. isilah identitas pada tempat yang telah di sediakan
2. baca dan pahami pertanyaan-pertanyaan dari masalah yang disajikan dalam lkpd tersebut, kemudian pikirkan jawabannya
3. silahkan diskusikan jawabannya dengan kelompok terhadap tugas yang di berikan lalu di catat dan isikan pada tempat yang telah di sediakan
4. jika terdapat masalah yang tidak dapat di selesaikan,tanyakan kepada guru
5. tugas dikerjakan selama 40 menit

LIVEWORKSHEETS

MEMBACA DAN MEMBUAT DIAGRAM GAMBAR

perhatikan diagran gambar berikut!

Desa	Jumlah Penduduk
sukamaju	
Sukatani	
suramadu	

keterangan :
mewakili 10 orang

LIVEWORKSHEETS

jawablah dengan tepat!

1) Berapa jumlah penduduk desa sukatani ?
Jawab :……
2) Berapa jumlah penduduk desa sukamaju ?
Jawab :……
3) Berapa jumlah penduduk desa suramadu?
Jawab :……
4) Berapa jumlh seluruh penduduk tiga desa tersebut ?
Jawab :……
5) Berapa selisih antara penduduk desa sukamaju dengan suramadu ?
Jawab :……

LIVEWORKSHEETS

Diagram Buah Kesukaan

1. ADA 4 ORANG ANAK YANG MENYUKAI BUAH APEL
2. ADA 7 ORANG ANAK YANG MENYUKAI BUAH JERUK
3. ADA 3 ORANG ANAK YANG MENYUKAI BUAH MANGA
4. ADA 6 ORANG ANAK YANG MENYUKAI BUAH SEMANGKA



LIVEWORKSHEETS

Simpulan

(Tuliskan apakah tujuannya tercapai atau tidak, jika belum tercapai sertakan alasannya)

Hasil simpulan

Teks paragraf Anda

LIVEWORKSHEETS