3 Isikan ruangan kosong di bawah dengan jawapan yang betul tentang kedudukan bandar berikut berdasarkan latitud dan longitud yang diberi. TP 3 Buku Teks m.s. 19

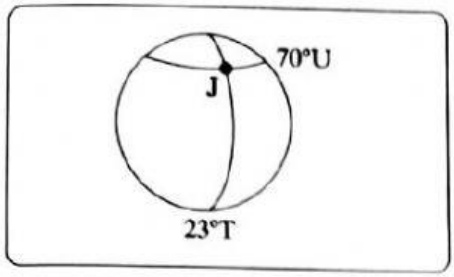


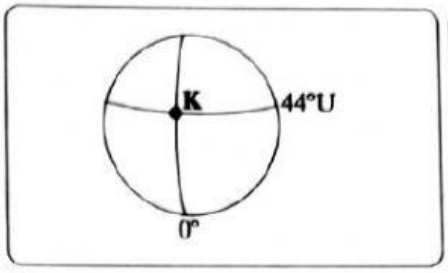


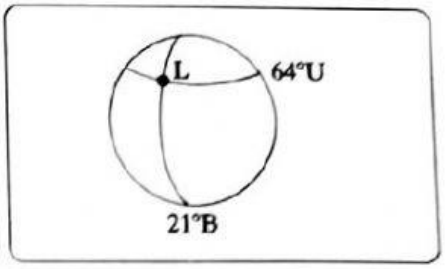


Bandar J :

Bandar K :

Bandar L :

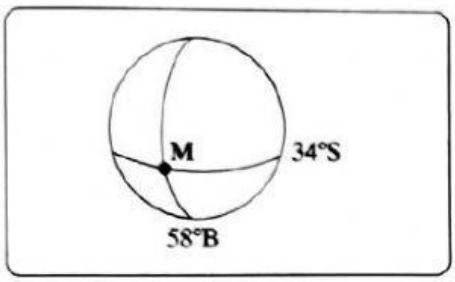


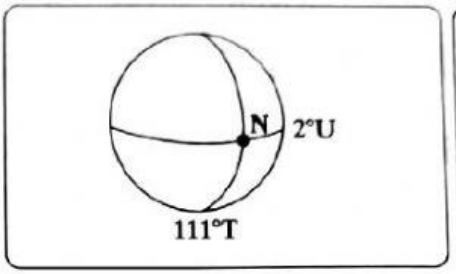


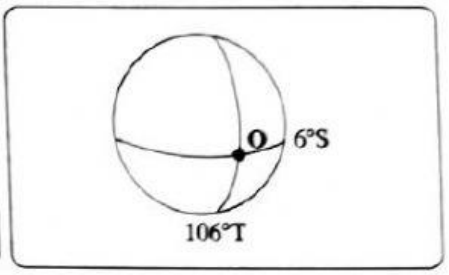


Bandar M :

Bandar N :

Bandar O :

4 Rajah di bawah menunjukkan peta latitud dan longitud. TP 4 Buku Teks m.s. 19

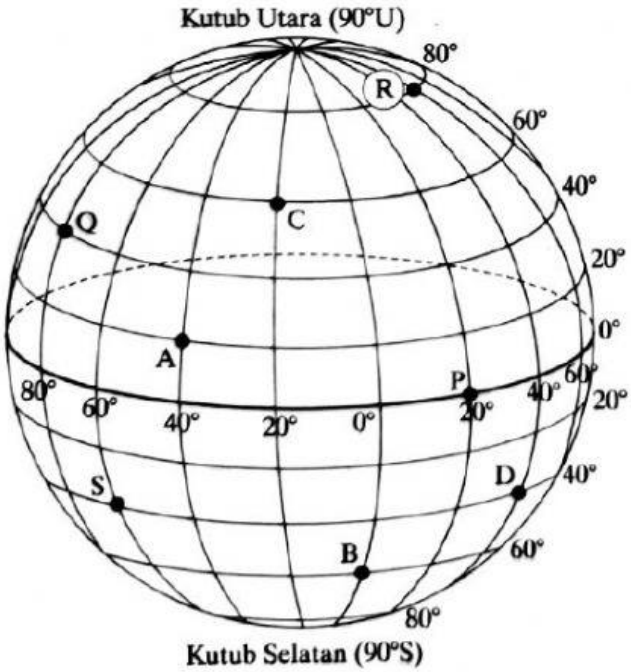


(a) Tuliskan kedudukan A, B, C, dan D pada glob.

| Tempat | Latitud | Longitud | Kedudukan |
|---|---|---|---|
| A | | | |
| B | | | |
| C | | | |
| D | | | |

(b) Berdasarkan rajah glob, nyatakan tempat berikut:

(i) Latitud 40°S; Longitud 60°B :

(ii) Latitud 80°U; Longitud 60°T :

(iii) Latitud 0°; Longitud 20°T :

(iv) Latitud 40°U; Longitud 80°B :

TP 3 Belum menguasai ☐ Menguasai ☐

TP 4 Belum menguasai ☐ Menguasai ☐

© Alaf Sanjung Sdn. Bhd. (516756-V)



扫描仪能于 创建
LIVEWORKSHEETS

# MODUL PP Praktis ke Arah PT3

Kuiz

## Bahagian

Soalan 1 berdasarkan Rajah 1.

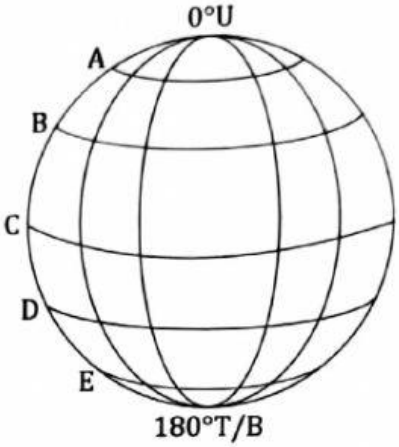


Rajah 1

**1** (*a*) Apakah garisan latitud?

_____

[1 *markah*]

(*b*) Namakan garisan latitud utama berikut.

A: _____

B: _____

C: _____

D: _____

E: _____

[5 *markah*]

(*c*) Nyatakan nilai garisan latitud utama berikut.

A: _____

B: _____

C: _____

[3 *markah*]

(*d*) Apakah garisan latitud yang terpanjang?

_____

[1 *markah*]



扫描全能王 创建
LIVEWORKSHEETS