LEMBAR KERJA PESERTA DIDIK

LKPD

MATEMATIKA



NAMA :

KELAS :

LIVEWORKSHEETS

NAMA KELOMPOK

1.
2.
3.
4.
5.

MATERI

MATEMATIKA: PENGUKURAN PANJANG DAN BERAT

TUJUAN LKPD

1.MELALUI MENGERJAKAN LKPD PESERTA DIDIK PAHAM MENGUKUR PANJANG BENDA MENGGUNAKAN SATUAN BAKU DAN HUBUNGAN ANTAR SATUAN BAKU PANJANG

2.MELALUI MENGERJAKAN LKPD PESERTA DIDIK PAHAM MENGENAI PENGUKURAN BERAT BENDA DAN HUBUNGAN ANTAR SATUAN BAKU BERAT

LIVEWORKSHEETS

PETUNJUK PENGERJAAN

1. BERDOALAH SEBELUM MENGERJAKAN LKPD INI
2. ISIKAN DATA DIRI DENGAN BENAR
3. ISIKAN DATA KELOMPOK DENGAN BENAR
4. BACALAH PETUNJUK PENGERJAAN DENGAN CERMAT
5. BACALAH PERINTAH PENGERJAAN DENGAN CERMAT
6. TANYAKAN HAL YANG KURANG PAHAM KEPADA GURU
7. SUNGGUH- SUNGGUHLAH DALAM MENGERJAKAN LKPD
8. GUNAKAN WAKTU DENGAN SEBAIK BAIKNYA DALAM MENGERJAKAN LKPD

SELAMAT MENGERJAKAN

LIVEWORKSHEETS

PENGUKURAN PANJANG

AYO MENENTUKAN!

PERHATIKAN GAMBAR SEBUAH PENSIL DAN PENGGARIS BERIKUT INI !

TENTUKANLAH BERAPA CENTIMETER UKURAN PANJANG PENSIL PADA GAMBAR DI BAWAH INI!

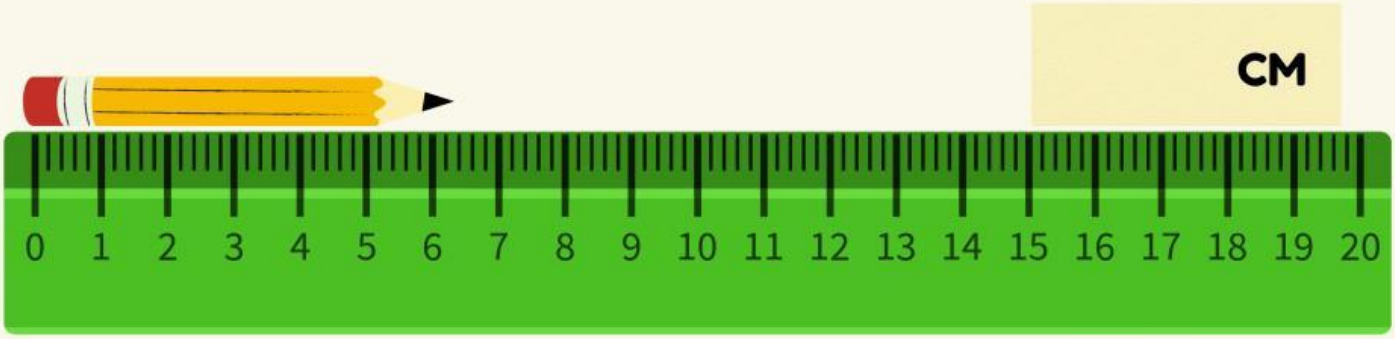

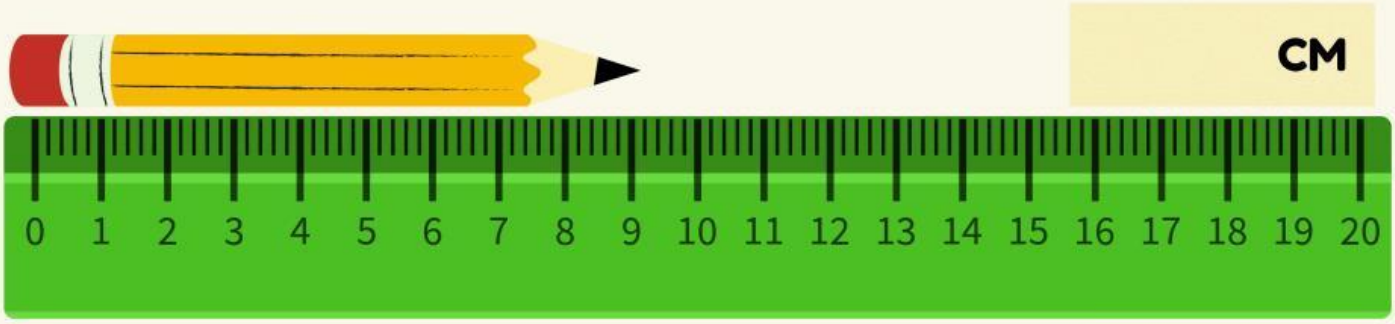

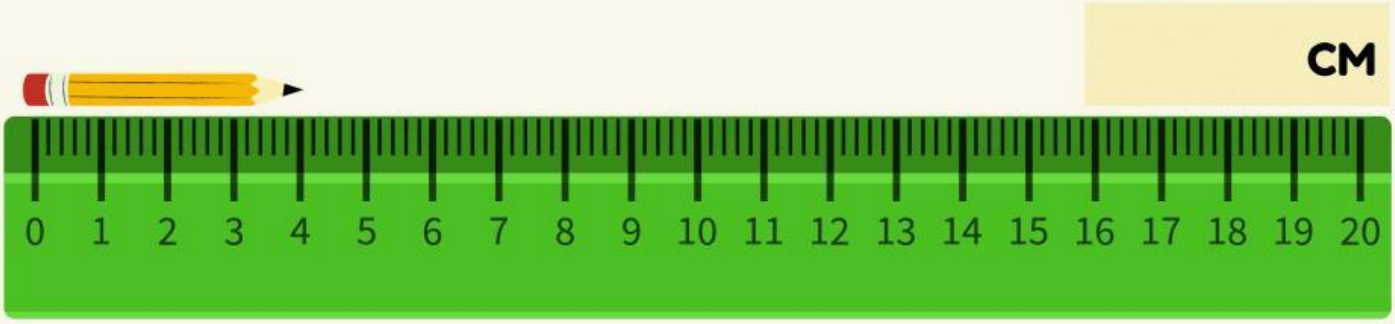

LIVEWORKSHEETS

PENGUKURAN PANJANG

AYO MEMASANGKAN!

PERHATIKAN GAMBAR BEBERAPA ALAT UKUR BERIKUT INI !

PASANGKANLAH ALAT UKUR BERIKUT DENGAN TEKS YANG TEPAT!

SITI DIMINTA UNTUK MENGUKUR PANJANG PULPEN.ALAT UKUR YANG SESUAI YANG DI GUNAKAN SITI IALAH

IBU INGIN MENJAHIT BAJU .SEBELUM MEMOTONG KAIN IBU MENGUKUR PANJANG KAIN MENGGUNAKAN

PAMAN INGIN MENJUAL TANAHNYA. SEBELUM DI JUAL PAMAN INGIN MENGUKUR TANAH NYA MENGGUNAKAN



LIVEWORKSHEETS

PENGUKURAN BERAT

AYO MENGUBAH!

PERHATIKAN GAMBAR BUAH YANG SEDANG BERADA DALAM TIMBANGAN!

BUAH- BUAHAN TERSEBUT DI TIMBANG MENGGUNAKAN SATUAN BAKU KG, UBAHLAH HASIL TIMBANGAN DARI BUAH-BUAHAN TERSEBUT DARI SATUAN KG KE SATUAN G DENGAN TEPAT!

_____GRAM

_____GRAM

_____GRAM

_____GRAM

LIVEWORKSHEETS