1.Запись «А (2)» читается: «Точка А с _____ два».

2.На координатном луче изображены точки. Определите координату точки В:

○ 0,3
○ 1,7
○ 0,9
○ 1,1

3.На координатном луче изображены точки. Какая из точек имеет координату 1,1?



Ответ: _____

4.Определите координаты данных точек:

-A
-D
-B
-C
0,3- A
0,9- A
1,1- A
1,7- A

5.Запишите точки: M(0,6), F(0,225), R(2,25), A(0,48), B(4,08), C(0,428) в порядке возрастания их координат.
Ответ: _____

LIVEWORKSHEETS

6.Из точек A(0,258), B(2,125), C(2,6), D(10,3) выберите те, координаты которых больше, чем 2,5:

- ☐ A
- ☐ B
- ☐ C
- ☐ D

7.Запишите показания термометра, используя десятичные дроби:



Ответ: _____

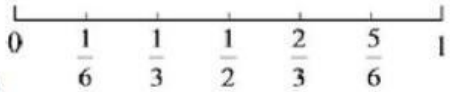

8.

Числу 0,5 соответствует обыкновенная дробь $\frac{2}{3}$.

- ○ Верное утверждение
- ○ Неверное утверждение

9.Какие десятичные дроби можно отметить на координатном луче между числами 0,12 и 0,13?

- ☐ 0,1
- ☐ 0,129
- ☐ 0,121
- ☐ 0,135

10.Точка A имеет координату 7,14. Каким свойством обладают координаты точек, расположенных к началу отсчета ближе, чем точка A:

- ○ $x > 7$
- ○ $x < 7{,}14$
- ○ $x < 7$
- ○ $x > 7{,}14$

LIVEWORKSHEETS