Sistem Pernafasan Manusia

Oleh:

Gesti Ade Sevita (2201080014)

LIVEWORKSHEETS

TABLE OF CONTENT

- LEARNING MATERIAL
- CROSSWORD
- SEARCH FOR WORDS
- MATCHING
- EXERCISE

LIVEWORKSHEETS

LEARNING MATERIAL

Lihat lah video pembelajaran berikut dengan seksama mengenai materi sistem pernafasan pada manusia!

Pelajari materi berikut dengan seksama mengenai materi sistem pernafasan pada manusia!

https//www.

LIVEWORKSHEETS

Elektronik Lembar Kerja
Peserta Didik

e-lkpd

Untuk Siswa SMA Kelas 11

Sistem Pernafasan Manusia

LIVEWORKSHEETS

ORGAN PERNAPASAN MANUSIA

Lengkapilah bagian-bagian sistem pernapasan pada manusia berikut ini!

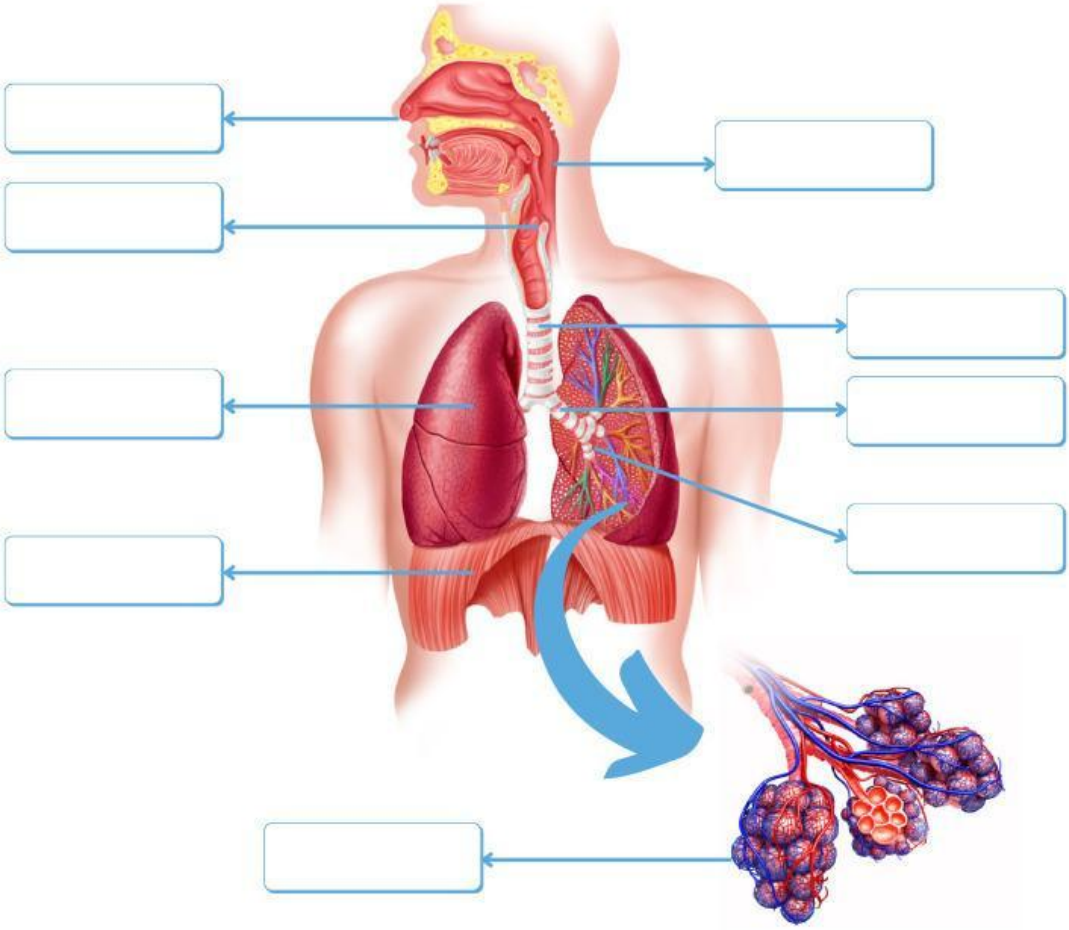

ALVEOLUS	BRONKIOLUS	DIAFRAGMA
HIDUNG	FARING	TRAKEA
LARING	BRONKUS	PARU-PARU

LIVEWORKSHEETS

Teka-teki Silang (Crossword)

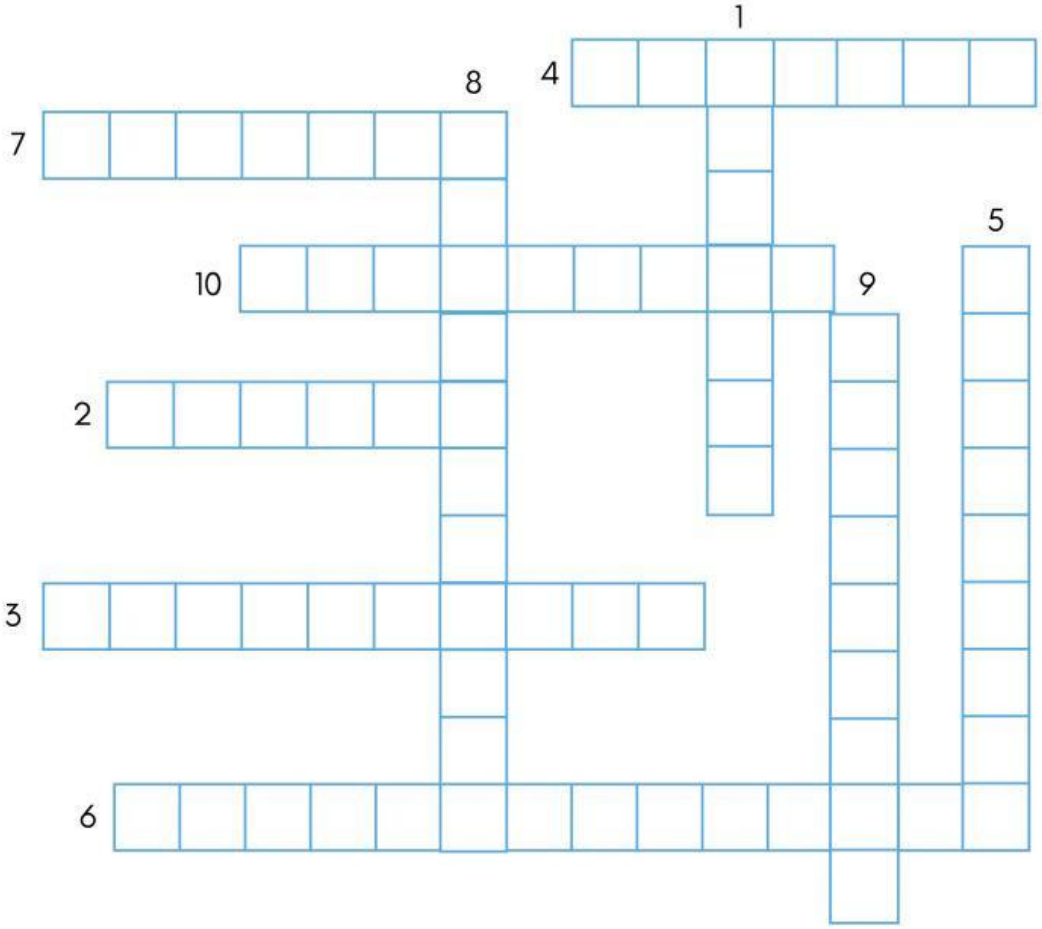

Mendatar

2 Udara masuk pertama kali melalui

3 Cabang batang tenggorokan memiliki cabang-cabang lagi yang disebut

4 Cabang tenggorokan

6 Manusia bernafas mengeluarkan

7 Berfungsi untuk menangkap benda-benda asing yang masuk ke dalam saluran pernapasan

10 Penyakit peradangan pada bronkus yang menghubungkan trakea dengan paru-paru

menurun

1 Manusia bernafas menghirup

5 Penyakit paru-paru akibat infeksi bakteri, virus, atau jamur yang menyerang alveolus di dalam paru-paru

8 Jalan masuk dari hidung menuju paru-paru yang terdapat pita suara

9 Pangkal tenggorokan memiliki tulang rawan yang disebut

LIVEWORKSHEETS

MENCARI KATA

(SEARCH FOR WORDS)

Temukan nama organ pernapasan manusia yang terdapat pada kotak di bawah ini!

R	O	N	G	G	A	H	I	D	U	N	G	H
E	F	R	R	Y	M	F	B	I	E	S	M	I
L	A	R	I	N	G	V	R	A	A	A	P	A
S	R	I	A	D	C	H	O	N	L	E	N	T
A	I	H	F	P	G	E	N	U	V	J	C	R
G	N	S	G	Z	X	O	K	I	E	C	M	A
L	G	C	P	S	L	U	U	N	O	Q	H	K
C	A	M	L	U	R	G	S	A	L	U	A	E
A	S	T	E	A	K	T	O	N	U	L	S	A
B	R	O	N	K	I	O	L	U	S	N	G	E
I	A	T	E	R	M	E	L	O	N	D	K	C
Y	E	R	R	C	P	A	R	U	P	A	R	U

- RONGGA HIDUNG
- FARING
- LARING
- TRAKEA
- BRONKUS
- BRONKIOLUS
- ALVEOLUS
- PARU-PARU

LIVEWORKSHEETS

MATCHING

Sistem Pernafasan Manusia

Hubungkan gambar dan tulisan berikut sesuai dengan jawaban yang benar!

Paru-paru

Hidung

Alveolus

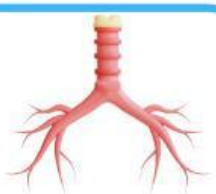

Bronkus

Trakea

- Tempat masuknya udara dari luar
- Cabang tenggorokan menuju paru-paru
- Tersusun dari cincin tulang rawan
- Alat pernafasan utama yang berjumlah sepasang yang berada di kanan dan kiri
- Terjadi pertukaran O2 dan CO2

LIVEWORKSHEETS

EXERCISE

Sistem Pernafasan Manusia

1.

Kegiatan mengambil dan mengeluarkan udara disebut dengan?

Jawab:

2.

Sebutkan 2 jenis pernafasan pada manusia!

Jawab:

LIVEWORKSHEETS

EXERCISE

Sistem Pernafasan Manusia

3.

CO2 akan meninggalkan darah dan O2 akan masuk kedalam darah secara difusi, termasuk dalam fase mekanisme pernafasan?

Jawab:

LIVEWORKSHEETS

EXERCISE

Sistem Pernafasan Manusia

4.

Tekan dan dengarkan audio dengan seksama dan jawablah soal tersebut dengan benar dan tepat!

Jawab:

5.

Bacalah soal dengan seksama lalu jawablah menggunakan audio!

Terdapat tumor ganas pada paru-paru karena rokok dapat menyebabkan penyakit?

Jawab:

LIVEWORKSHEETS