LKPD

LEMBAR KERJA PESERTA DIDIK

EKSPLORASI GEOMETRI BANGUN DATAR MELALUI MAKANAN KHAS DAERAH NASI PINCUK

Kurikulum Merdeka
Sekolah Dasar Kelas 3

Disusun Oleh:
Kelompok 10 UNESA B

LIVEWORKSHEETS

Materi Bangun Datar

- Pengertian Bangun Datar

Definisi bangun datar sebagai bentuk dua dimensi yang memiliki panjang dan lebar, tanpa tinggi.

- Macam-Macam Bangun Datar

Segitiga: Memiliki 3 sisi dan 3 sudut.

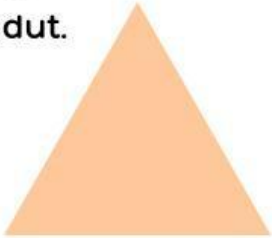

Persegi: Memiliki 4 sisi yang sama panjang dan 4 sudut siku-siku.

Persegi Panjang: Memiliki 4 sisi, dengan dua pasang sisi yang sama panjang.

Lingkaran: Memiliki satu sisi melengkung tanpa sudut.



LIVEWORKSHEETS

LKPD MATEMATIKA

TUJUAN PEMBELAJARAN:

- Melalui kegiatan mengamati bentuk makanan khas, Peserta didik dapat menjelaskan ciri-ciri bentuk bangun datar (segi empat, segitiga, segi banyak) dengan benar.

MATERI

MATERI NASI PECEL PINCUK

Nasi pecel merupakan makanan khas daerah dari Madiun. Nasi pecel ini sangat digemari oleh sebagian banyak orang Jawa. Nasi pecel sendiri memiliki banyak bentuk geometri. seperti, kerupuk yang berbentuk persegi, rempeyek yang berbentuk persegi panjang, toping telur yang berbentuk setengah lingkaran, ote-ote yang berbentuk lingkaran, tempe goreng yang berbentuk jajar genjang, yuk amati bersama nasi pecel yang rasanya enak ini!

LIVEWORKSHEETS

LKPD MATEMATIKA

KELOMPOK:
NAMA ANGGOTA:

-
-
-
-
-
-

TUJUAN PEMBELAJARAN:

- Melalui kegiatan mengamati bentuk makanan khas, Peserta didik dapat menjelaskan ciri-ciri bentuk bangun datar (segi empat, segitiga, segi banyak) dengan benar.

PETUNJUK PENGERJAAN:

- Perhatikan makanan khas berikut ini!
- Carilah jenis dan ciri-ciri bangun datar yang ada pada gambar rumah adat tersebut!
- Gambar dan tuliskan jawabannya pada tabel di bawah ini!

Nasi Pecel Pincuk

Bentuk Bangun Datar	Nama	Jumlah Sisi	Ciri-ciri
	segitiga sama sisi	3	• ketiga sisinya sama panjang • memiliki sudut yang sama besar

LIVEWORKSHEETS

LKPD MATEMATIKA

Bentuk Bangun Datar	Nama	Jumlah Sisi	Ciri-ciri

LIVEWORKSHEETS

LKPD MATEMATIKA

PETUNJUK PENGERJAAN:

- Perhatikan Makanan Khas berikut ini!
- Carilah jenis dan ciri-ciri bangun datar yang ada pada gambar rumah adat tersebut!
- Tuliskanlah pada tabel di bawah ini!

Rawon

Nasi Tumpeng

Bakso

Bentuk Bangun Datar	Nama	Jumlah Sisi	Ciri-ciri

LIVEWORKSHEETS

LKPD MATEMATIKA

Bentuk Bangun Datar	Nama	Jumlah Sisi	Ciri-ciri

By : Kharisma

LIVEWORKSHEETS

LKPD MATEMATIKA

Petunjuk:

Hubungkan gambar makanan khas dengan bangun datarnya!







LIVEWORKSHEETS