ใบงานที่ 1 คำตอบของระบบสมการเชิงเส้นสองตัวแปร

ให้นักเรียนพิจารณากราฟและสมการที่กำหนดให้ว่ามีลักษระของคำตอบแบบใด

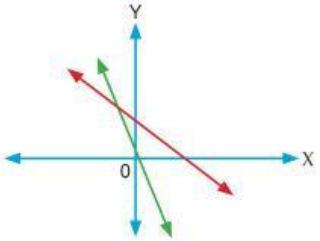

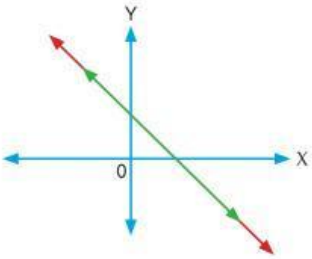

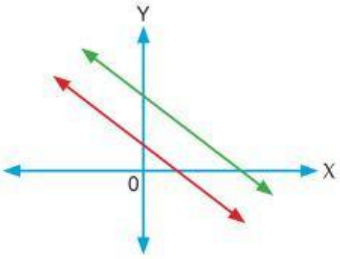

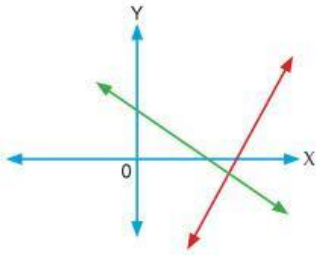

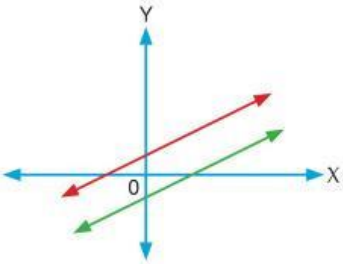

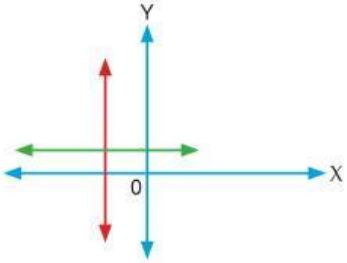

$x + y = 8$ และ $x - y = 2$

$3x + 4y = -5$ และ $2x - 3y = 8$

$x - 2y = 6$ และ $2x - 4y = 8$

$x - y = -6$ และ $x - y = 6$

$x + 2y = 3$ และ $y = 4$

$2x + y = 4$ และ $4x + 2y = 12$

LIVEWORKSHEETS