Porównywanie ułamków dziesiętnych

1 Które z podanych liczb są większe od liczby w ramce?

a) 0,3 0,32 0,28 0,4 0,03 0,321 0,271

b) 1,241 1,31 2,24 1,2 1,3 1,24 1,25

2 Na mapie zaznaczono najwyższe szczyty kontynentów. Wypisz nazwy szczytów od najwyższego do najniższego.

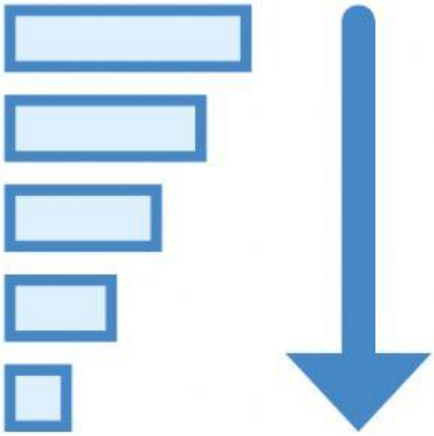

LIVEWORKSHEETS

3 Na osi liczbowej zaznaczono następujące liczby:

4,8 5,5 6,01 4,95 6,13 5,25

Dopasuj litery do odpowiednich liczb.

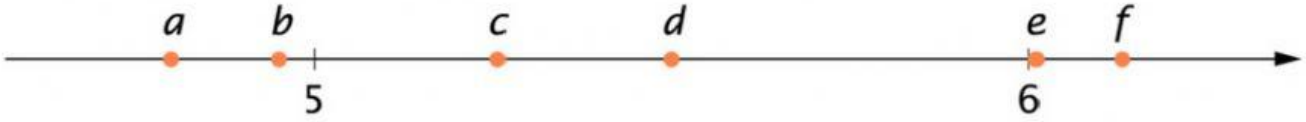

a **c** **e**

b **d** **f**

4 Uporządkuj ułamki dziesiętne od najmniejszego do największego, a poznasz angielską nazwę ułamka dziesiętnego.

$A \rightarrow 0{,}2$ $C \rightarrow 0{,}107$ $D \rightarrow 0{,}02$

$E \rightarrow 0{,}027$ $I \rightarrow 0{,}12$ $L \rightarrow 0{,}7$ $M \rightarrow 0{,}127$



LIVEWORKSHEETS