Aktivitas 9: menyelesaikan masalah menggunakan aturan kekongruenan segitiga

PROJECT TIME!

Kerjakan aktivitas di bawah ini pada link berikut:

Buktikan masing masing pasang segitiga di bawah merupakan segitiga yang saling kongruen, menggunakan aturan kekongruenan segitiga. Pasangkan sisi dan sudut yang saling bersesuaian lalu tentukan aturan kekongruenan mana yang digunakan

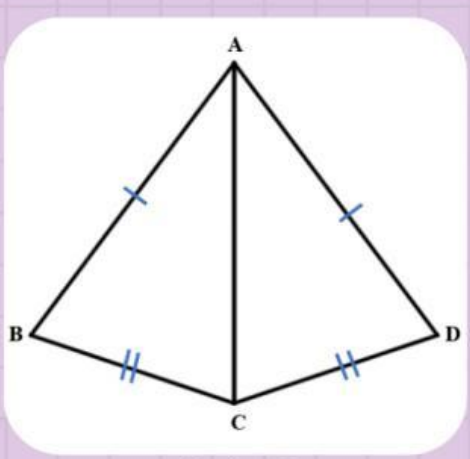

Gambar 32

PASANGAN SISI / SUDUT YG BERSESUAIAN

AB = _____

BC = _____

AC = _____

ATURAN KEKONGRUENAN YANG SESUAI

_____



Gambar 33

PASANGAN SISI / SUDUT YG BERSESUAIAN

AB = _____

BC = _____

ABC = _____

ATURAN KEKONGRUENAN YANG SESUAI

_____

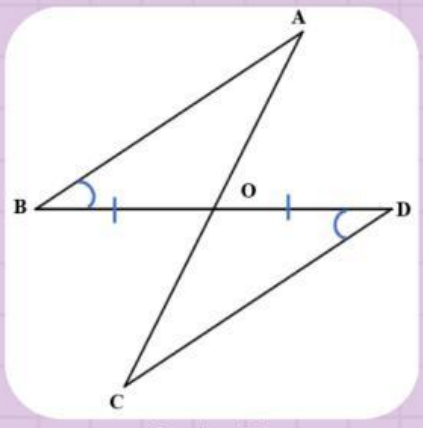

Gambar 34

PASANGAN SISI / SUDUT YG BERSESUAIAN

ABO = _____

BO = _____

AOB = _____

ATURAN KEKONGRUENAN YANG SESUAI

_____

AC
AD
BC
CD
CD
DO
BCD
CDO
COD
Sd.S.Sd
S.Sd.S
S.S.S
S.Sd.S

LIVEWORKSHEETS