LEMBAR KERJA PESERTA DIDIK

Kelas VII Semester Ganjil TA 2024 - 2025



Nama : _____

Kelas : _____

LIVEWORKSHEETS

LEMBAR KERJA PESERTA DIDIK

STATISTIKA

Kompetensi Inti

3. *Memahami pengetahuan (faktual, konseptual, dan prosedural) berdasarkan rasa ingin tahunya tentang ilmu pengetahuan, teknologi, seni, budaya terkait fenomena dan kejadian tampak mata.*
4. *Mencoba, mengolah, dan menyaji dalam ranah konkret (menggunakan, mengurai, merangkai, memodifikasi, dan membuat) dan ranah abstrak (menulis, membaca, menghitung, menggambar, dan mengarang) sesuai dengan yang dipelajari di sekolah dan sumber lain yang sama dalam sudut pandang/teori.*

Kompetensi Dasar

3.12 *Menganalisis hubungan antara data dengan cara penyejiannya (table, diagram garis, diagram batang, dan diagram lingkaran).*

4.12 *Menyajikan dan menafsirkan data dalam bentuk table, diagram garis, diagram batang, dan diagram lingkaran.*

LIVEWORKSHEETS

Tujuan Pembelajaran

1. Siswa memahami konsep dasar dan teknik penyajian data (tabel, diagram garis, batang, dan lingkaran) serta mampu menganalisis hubungan antar data.
2. Siswa menyajikan dan menafsirkan data dengan cara yang tepat, mengembangkan kemampuan berpikir kritis dan kreatif, serta mengaitkan teori dengan fenomena nyata.

Petunjuk Pengerjaan

1. Isilah data diri dengan benar.
2. Bacalah dengan teliti soal yang diberikan.
3. Berilah tanda (x) pada jawaban yang benar.
4. Kerjakan soal yang lebih mudah terlebih dahulu.
5. Silahkan membaca dan mencari berbagai referensi untuk menyelesaikan LKPD ini.
6. Selamat mengerjakan!

Materi Pembelajaran



LIVEWORKSHEETS

Soal

1. *Perhatikan tabel berikut!*

Kelas	Banyak Siswa	
	Laki-Laki	Perempuan
7A	14	18
7B	15	16
7C	11	18
7D	12	16
7E	15	18
7F	17	19
Jumlah	84	105

Jumlah siswa terbanyak ada di kelas ...

a. 7A
b. 7B
c. 7E
d. 7F

2. *Perhatikan diagram berikut!*

Penjualan ayam tertinggi terjadi pada bulan ...

a. Januari
b. Februari
c. Maret
d. April

LIVEWORKSHEETS

3. *Perhatikan diagram berikut!*

Suhu badan Diva terendah terjadi pada hari ...

a. Senin
b. Selasa
c. Sabtu
d. Minggu

4. *Perhatikan diagram berikut!*

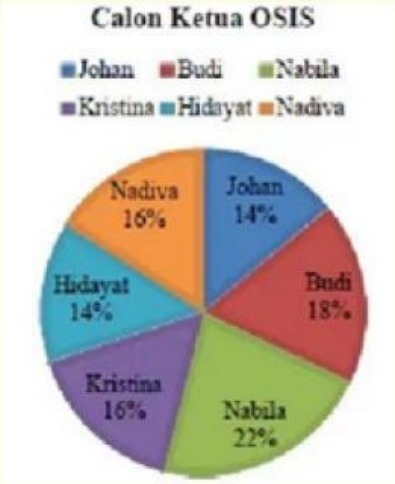

Jika suara terbanyak menjadi ketua OSIS, maka yang menjadi ketua OSIS adalah ...

a. Johan
b. Hidayat
c. Nabila
d. Nadiva

-Selamat Mengerjakan-

LIVEWORKSHEETS