Nama:

Kelas:

Sel Tumbuhan VS Sel Hewan

Sebelum ananda mengerjakan soal formatif, silahkan klik untuk membaca dan menonton materinya ya!

Ringkasan Materi

https://generasibiologi.com/2017/08/perbedaan-sel-hewan-dan-sel-tumbuhan-beserta-gambarnya-fungsinya.html

https://generasibiologi.com/2017/07/sel-hewan-dan-sel-tumbuhan-beserta-fungsinya.html

https://generasibiologi.com/2017/07/sel-hewan-dan-sel-tumbuhan-beserta-fungsinya.html

https://generasibiologi.com/2017/07/sel-hewan-dan-sel-tumbuhan-beserta-fungsinya.html

Soal Formatif 1: Pilihlah jawaban yang benar!

Formatif 1

Urutkan struktur organisasi kehidupan berikut mulai dari yang sederhana sampai dengan yang kompleks!

1 → 2 → 3 → 4 → 5

LIVEWORKSHEETS

Soal Formatif 2: Menjodohkan. Tarik garis nama organel sel dengan fungsinya dengan benar!

Formatif 2

Nukleus	Tempat terjadinya fotosentetis
Kloroplas	Tempat sintesis protein
Ribosom	Mengatur semua kegiatan sel

Soal Formatif 3: Tulishlah jawaban yang benar pada kotak yang tersedia!

Formatif 3

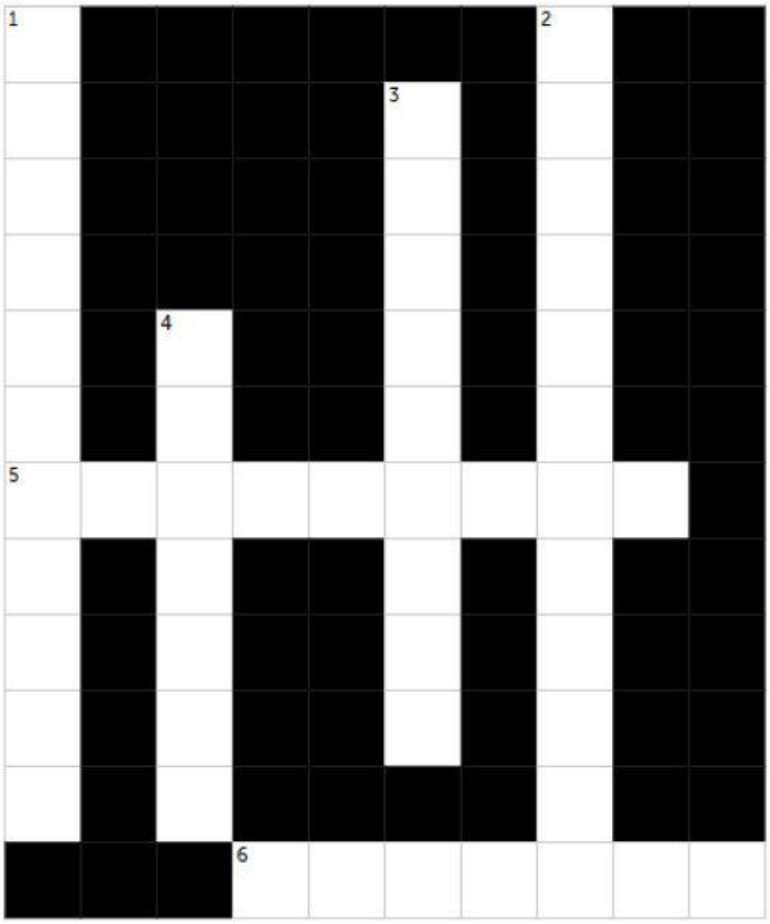

Mendatar

5. Struktur yang sangat penting di dalam inti sel.
6. organel tempat sintesis protein

Menurun

1. Disebut sebagai "pembangkit tenaga" sel karena perannya dalam menghasilkan energi.
2. Semacam "jalan raya" di dalam sel yang memberikan bentuk, dukungan, dan membantu berbagai aktivitas seluler
3. Membentuk dan mengatur susunan mikrotubulus dalam sel.
4. Berfungsi sebagai tempat penyimpanan dan pencernaan.

LIVEWORKSHEETS

Soal Formatif 4: Berilah label pada gambar untuk melengkapi keterangannya dengan menarik kotak jawaban ke arah garis gambar!

Formatif 4

SEL TUMBUHAN

Sitoplasma	Dinding sel	Nukleus	Mitokondria
Klorofil	Vakuola	Badan Golgi	Membran sel
Nukleulus	Peroksisom	Ribosom	Retikulum Endoplasma

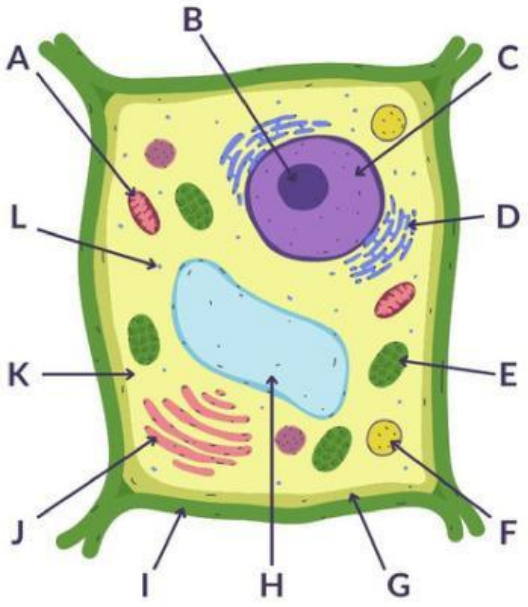

A _____
B _____
C _____
D _____
E _____
F _____
G _____
H _____
I _____
J _____
K _____
L _____

Soal Formatif 5: Tentukan pernyataan dibawah ini BENAR atau SALAH!

1. Sel bakteri termasuk sel prokariotik karena tidak memiliki membran inti sel.
2. Sel hewan memiliki dinding sel
3. Sel hewan dan tumbuhan sama-sama memiliki membran sel

Benar Salah
Benar Salah
Benar Salah

LIVEWORKSHEETS

Soal Formatif 6: Bandingkanlah sel hewan dan tumbuhan berikut ini dengan melengkapi data dalam tabel!

Formatif 5

PERBEDAAN SEL HEWAN DAN SEL TUMBUHAN

Perhatikan gambar sel hewan dan sel tumbuhan berikut ini!

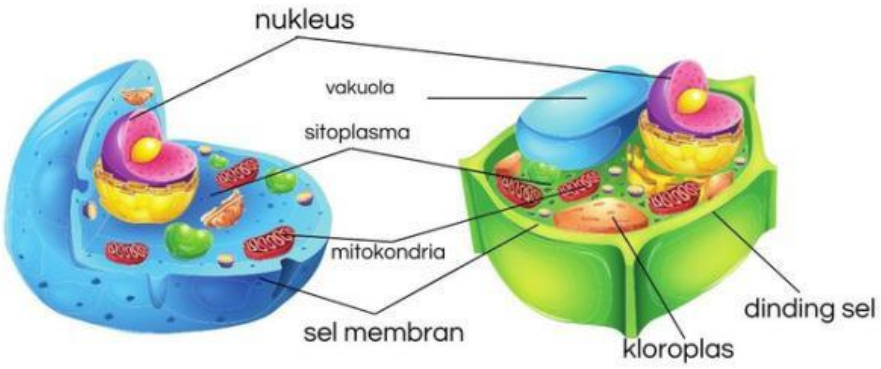

Berdasarkan gambar di atas, kira-kira apa yang membedakan sel hewan dengan sel tumbuhan? Coba kalian isi tabel di bawah ini!

STRUKTUR	SEL HEWAN	SEL TUMBUHAN
Dinding Sel		
Sel Membran		
Nukleus		
Mitokondria		
Vakuola		
Kloroplas		
Sitoplasma		

LIVEWORKSHEETS