Trikampio perimetras

1.

Suskirstyk trikampius į grupes pagal kraštines

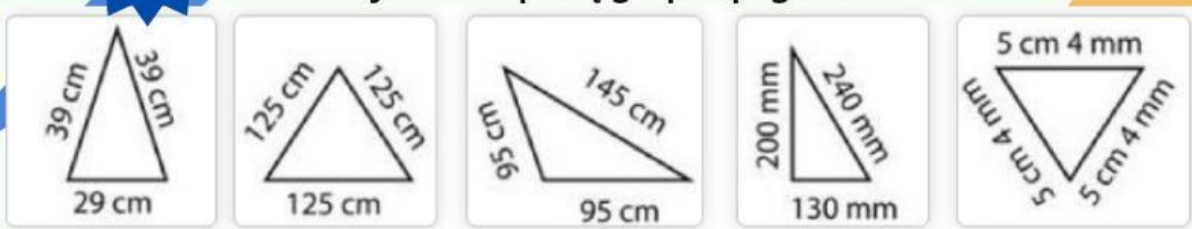

Įvairiakraštis Lygiašonis Lygiakraštis

2.

Pažymėk kokios rūšies yra pavaizduotas trikampis

a)

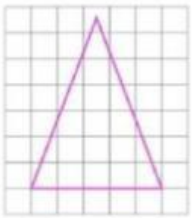

- ☐ Lygiašonis
- ☐ Lygiakraštis
- ☐ Įvairiakraštis

b)

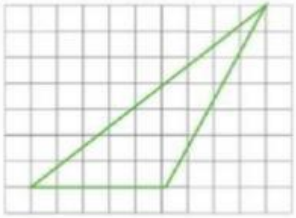

- ☐ Lygiašonis
- ☐ Lygiakraštis
- ☐ Įvairiakraštis

3.

Apskaičiuok pavaizduotų trikampių perimetrą

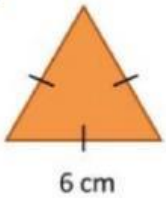

P = cm

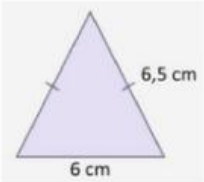

P = cm

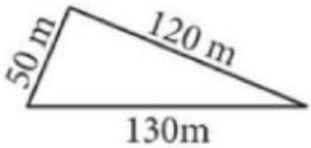

P = m

4.

Lygiašonio trikampio ABC perimetras lygus 15 dm, jo kraštinės AB = BC = 5,7 dm. Raskite kraštinės AC ilgį.

AC = dm

5.

Nurodyk kiekvieno trikampio rūšį ir apskaičiuok perimetrus

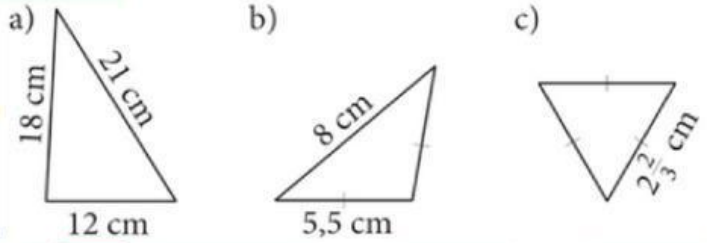

LIVEWORKSHEETS