Όνομα:_____

Επώνυμο:_____

Ημερομηνία:...../...../20.....

ΜΑΘΗΜΑΤΙΚΑ 5η ΕΝΟΤΗΤΑ

Δ΄ ΤΑΞΗ

5ο Κριτήριο αξιολόγησης *Επίδοση:* ....

1. Βάζω √ σωστή απάντηση:

Α. Τετράπλευρο που έχει όλες τις γωνίες ορθές.
α. ρόμβος β. ορθογώνιο γ. παραλληλόγραμμο

Β. Τετράπλευρο που έχει όλες τις πλευρές ίσες.
α. ρόμβος β. ορθογώνιο γ. παραλληλόγραμμο

Γ. Τετράπλευρο με ίσες πλευρές και ορθές γωνίες.
α. ρόμβος β. ορθογώνιο γ. τετράγωνο

/10

2. Σημειώνω Σ για σωστό και Λ για λάθος.

α. Το ορθογώνιο παραλληλόγραμμο έχει 4 ορθές γωνίες.

β. Το 1 τ.εκ. είναι ένα τετράγωνο με περίμετρο 4 εκ.

γ. Αν πολλαπλασιάσω τα μήκη δύο απέναντι πλευρών του ορθογωνίου παραλληλογράμμου, βρίσκω το εμβαδόν του.

δ. Ένα τετράπλευρο που έχει τις απέναντι πλευρές του παράλληλες είναι ρόμβος.

/10

3. Βάζω ✓ στις παράλληλες γραμμές.

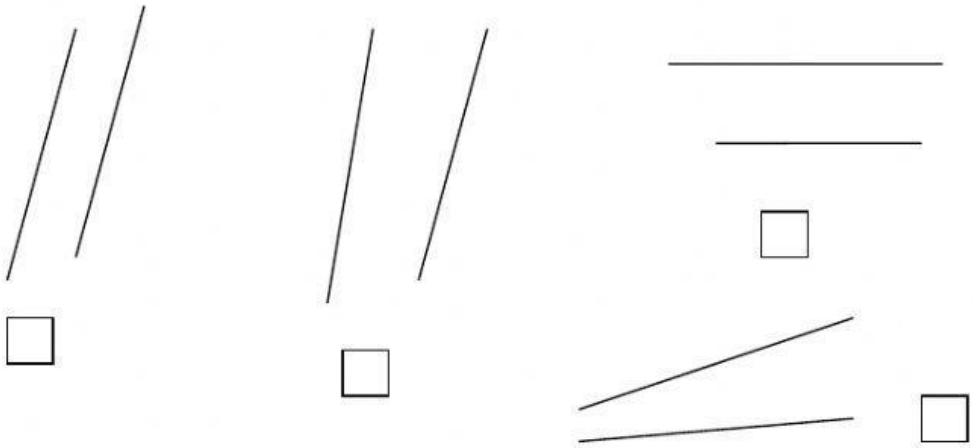

/10

4. Βάζω √ όπου είναι χαραγμένη σωστά απόσταση των σημείων από τις ευθείες.

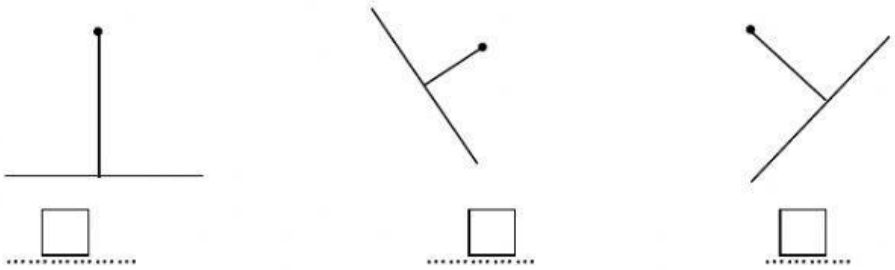

/10

LIVEWORKSHEETS

5. Βρίσκω την περίμετρο των παρακάτω σχημάτων:

Περίμετρος:..... περίμετρος:..... περίμετρος:.....

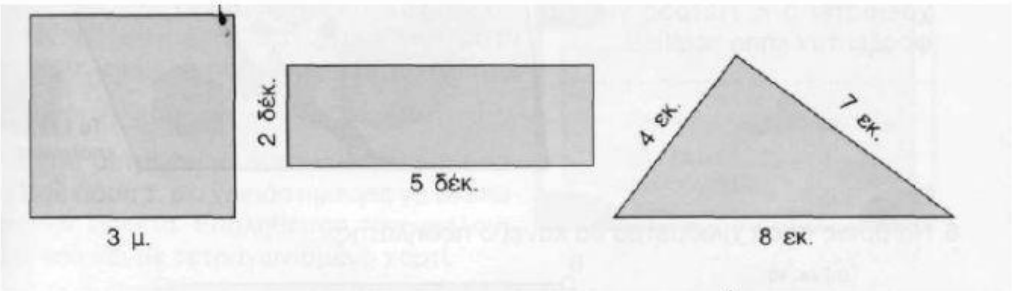

10

6. Ονομάζω τα παρακάτω σχήματα και βάζω √ σε αυτά που έχουν τουλάχιστον έναν άξονα συμμετρίας.

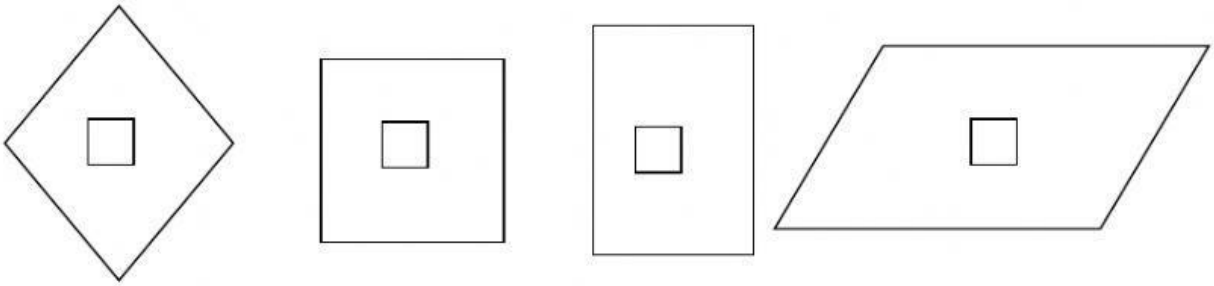

10

7. Συμπληρώνω:

10

1 τετραγωνικό μέτρο = ... τετραγωνικά δέκατα = ... τετραγωνικά εκατοστά

8. Συμπληρώνω ό,τι λείπει:

Παράλληλες είναι οι ευθείες που :.....

Τεμνόμενες είναι οι ευθείες που: .....

Κάθετες είναι οι ευθείες που :.....

.....

10

9. Ένα τετράγωνο έχει περίμετρο 32εκ. Πόσο είναι το εμβαδόν του και πόση η πλευρά του;

Λύση	*Απάντηση*

10

LIVEWORKSHEETS

10. Η πισίνα του κολυμβητηρίου μας έχει μήκος 16 μ. και πλάτος 8 μ. Πόση είναι η περίμετρός της και πόσο το εμβαδόν της;

Λύση	***Απάντηση***

10

1	ΑΡΙΣΤΑ	81-100
2	ΠΟΛΥ ΚΑΛΑ	61-80
3	ΑΡΚΕΤΑ ΚΑΛΑ	45-60

ΚΑΛΗ ΕΠΙΤΥΧΙΑ !!!

LIVEWORKSHEETS