CẤP ĐỘ TỔ CHỨC CỦA THẾ GIỚI SỐNG

.....điểm

1. Xác định các cấp độ tổ chức trong ví dụ dưới đây bằng cách điền vào ô trông.



2. Điền vào chỗ trống các cấp độ tổ chức của thế giới sống.

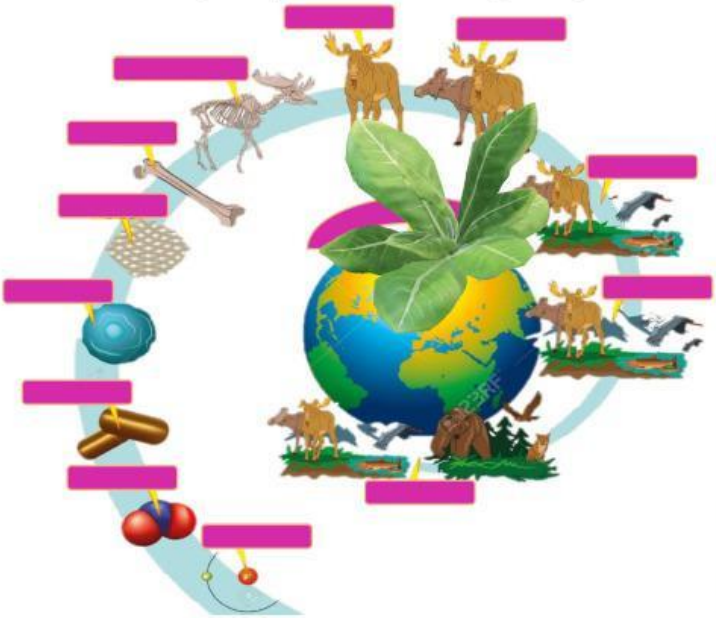

CÁC CẤP ĐỘ TỔ CHỨC CỦA THẾ GIỚI SỐNG

3. Đánh số thứ tự cấp độ tổ chức sống bằng cáh điền số 1, 2, 3, 4 vào vòng tròn. Chỉ ra mối quan hệ giữa các cấp độ tổ chức sống?

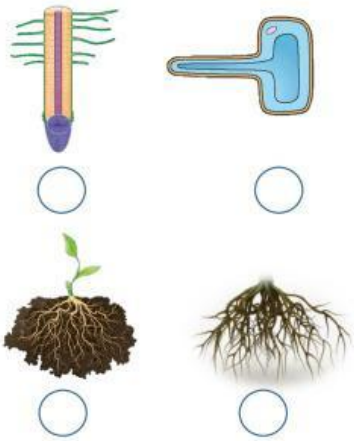

LIVEWORKSHEETS