الفصلُ ٢

# الاختبارُ التراكميُّ

الفصولُ ١-٢

## الجزء ١ اختيار من متعدد

**اخترِ الإجابةَ الصحيحةَ:**

١ بلغَ عددُ زبائنِ أحدِ المتاجرِ يومَ السبتِ ٢١٨ زبونًا، ويومَ الأحدِ كانَ عددُهُم أقلَّ بـ ٢٤ زبونًا، فمَا عددُ زبائنِ المتجرِ يومَ الأحدِ؟

أ) ١٨٨ ج) ٢٣٦

ب) ١٩٤ د) ٢٤٢

٢ أيُّ النقاطِ الممثلةِ علَى خطِّ الأعدادِ أدنَاهُ تمثلُ العددَ ٨ ؟

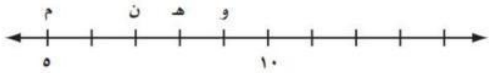


أ) م ج) هـ

ب) ن د) و

٣ أيُّ الأعدادِ التاليةِ يزيدُ عنِ العددِ ٨٣٤٥٦ بمقدارِ ١٠٠

أ) ٨٤٤٥٦ ج) ٩٣٥٥٦

ب) ٨٣٥٥٦ د) ١٨٣٤٥٦

٤ أيُّ الرموزِ التاليةِ يجعلُ الجملةَ العددية ٧٦١٥٣ ● ٧٦١٤٩ صحيحة؟

أ) > ج) =

ب) < د) +

٥ اكتُبِ القيمةَ المنزليةَ للرقمِ ٥ في العددِ ١٨٥٣٧٤٢

أ) ٥٠ ج) ٥٠٠٠٠

ب) ٥٠٠ د) ٥٠٠٠٠٠

٦ يقولُ سامرٌ إنَّ عنوانَ شارعِهِ يحتوِي علَى الرقمِ ٣ في منزلةِ المئاتِ. أيٌّ ممَّا يأتِي يمثلُ عنوانَ الشارعِ؟

أ) ١٣٦٨ ج) ١٤٨٣

ب) ٢٤٣٧ د) ٣٨٦٥

٧ يستخدمُ راكانُ دليلَ التسوقِ لتحديدِ قائمةِ الملابسِ الَّتِي يريدُ شراءَهَا. كمَا هوَ موضحٌ فِي الجدولِ التالِي:

| قائمةُ الملابسِ المفضلةِ لدَى راكانُ | |
|---|---|
| القطعةُ | السعر (ريال) |
| شماغٌ | ١٢٠ |
| ثوبٌ | ٢٤٥ |
| قميص | ٩٣ |
| حذاءٌ رياضيٌّ | ٢١٨ |

إذَا طلبَ راكانُ شراءَ كلِّ تلكَ القطعِ، فكمْ سيدفعُ ثمنًا لهَا تقريبًا؟

أ) ٤٥٥ ج) ٦٨٠

ب) ٦٠٠ د) ٦٧٠

٨ أيٌّ ممَّا يلِي يمثلُ صيغةً أُخرَى لكتابةِ العددِ تسعةِ ملايينَ وثلاث مئةٍ وواحدٍ وثلاثين ألفًا ومئةٍ وثمانيةٍ؟

أ) ٩٣١٣١٨٠ ج) ٩٣٣١١٠٨

ب) ٩٣٣١١٨٠ د) ٩٠٣٣١١٠٨

LIVEWORKSHEETS

٩ يبينُ الجدولُ التالِي بعضًا منْ جبالِ المملكةِ العربيةِ السعوديةِ الَّتِي يزيدُ ارتفاعُهَا عنْ ٢٥٠٠ م عنْ مستَوَى سطحِ البحرِ. استعملْ هذهِ البياناتِ لإيجادِ الفرقِ بينَ ارتفاعِ جبلَي السودةَ والمجازِ.

| أعلى الجبالِ في المملكةِ العربيةِ السعوديةِ | |
|---|---|
| الجبلُ | الارتفاعُ عنْ سطحِ البحرِ (متر) |
| السودةُ | ٣٠١٥ |
| فرواعُ | ٣٠٠٤ |
| المجازُ | ٢٩٠٢ |
| الصهلاءُ | ٢٨٣٧ |

أ) ١٠٠ م
ب) ١٢٠ م
جـ) ١١٣ م
د) ١٧ م

١٠ بلغتْ مبيعاتُ أحدِ المحالِّ التجاريةِ خلالَ أسبوعٍ ٣٦٣٤٥ ريالًا. قرِّبْ هذَا العددَ إلَى أقربِ ألفٍ.

أ) ٣٦٠٠٠
ب) ٣٧٠٠٠
جـ) ٣٦٣٠٠
د) ٣٦٤٠٠

١١ قرِّبِ العددَ ٧٩٥٩ إلى أقربِ مئةٍ.

أ) ٧٠٠
ب) ٨٠٠٠
جـ) ٧٩٠٠
د) ٩٠٠٠

## الجزء ٢ الإجابة القصيرة

**أجبْ عنِ السؤالينِ التاليينِ:**

١٢ ما قيمةُ الرقمِ ٣ في العددِ ٨٠٥٣١٢ ؟

١٣ يبيِّنُ الجدولَ التالِي أطوالَ أقطار بعضِ كواكبِ المجموعةِ الشمسيةِ.

| أطوالُ أقطارِ بعضِ كواكبِ المجموعةِ الشمسيةِ | |
|---|---|
| الكوكبُ | طولُ القطرِ ( الكيلومتر) |
| المشتري | ١٤٢٩٨٤ |
| زحلُ | ١٢٠٢٥٦ |

ما الفرق بين طولي قطري كوكبي زحل والمشتري؟

## الجزء ٣ الإجابة المطولة

**أجبْ عنِ السؤالينِ التاليينِ موضحًا خطواتِ الحلِّ:**

١٤ ما العددُ الذِي يزيدُ بمقدارِ ١٠٠٠ عنْ ٤٥٦٩٨٧ ؟ وضحْ إجابتَكَ.

١٥ اكتُبِ الصيغةَ القياسيةَ للعددِ اثني عشرَ مليونًا ومئتينِ وخمسٍ وثلاثينَ ألفًا ومئةٍ واثنتي عشرةَ؟ وضحْ إجابتَكَ.

LIVEWORKSHEETS

الفَصْلُ ٢

# اختبر نفسك

١ كَيفَ يُمكِنُكَ أَنْ تَسْتخدِمَ الرَّقْمَ ٤ ثَمانِيَ مَرَّاتٍ لِلحُصُولِ عَلَى العَدَدِ ٥٠٠ بِاسْتخدَامِ عَمَلِيَّةِ الجَمْعِ فَقَط؟

٤ + + + + = ٥٠٠

---

٢ فِي السِّبَاقِ الثُّلَاثِي، يَبدَأُ المُتَسَابِقُونَ بِالسِّبَاحَةِ ثُمَّ يَنتَقِلُونَ إِلى سِبَاقِ الدرَّاجَاتِ، وأَخِيرًا الْجَرْي. يُشِيرُ الجَدْولُ أَدْنَاهُ إِلَى نَتَائجِ المُنَافَسَةِ لِكُلٍّ مِن هَادِيْ وَمَمْدُوحٍ وَنَاصِرٍ. لَقَدْ تَمَّ حِسَابُ مَجْمُوعُ الدَّقَائِقِ الَّتي اسْتَغْرَقَهَا هَادِي في المُنَافَسَةِ، إِذَا كانَ الفَائِزُ هُو مَنْ حَقَّقَ أَقَلَ عَدَدٍ مِنْ الدَّقَائِقِ؛ فَمَنْ الَّذي فَازَ بالسِّبَاقِ الثُّلاثِي؟

| نتائج السباق الثلاثي بالدقائق | | | |
|---|---|---|---|
| | هادي | ممدوح | ناصر |
| السباحة | ٣٥ | ٢٥ | ٥٠ |
| سباق الدراجات | ٨٠ | ٩٠ | ٨٥ |
| الجري | ١٣٥ | ١٣٠ | ١٢٠ |
| المجموع: | ٢٥٠ | | |

أ) هَادِي
ب) نَاصِر
جـ) مَمْدُوح
د) لَمْ يَفُزْ أَحَدٌ

٣ أَرَادَ جَمِيلٌ أَنْ يَسْتَخْدِمَ الآلَةَ الحَاسِبَةَ لِجَمعِ ١٤٦٣ وَ ٣١٩ وَأَدْخَلَ خطأً ١٢٦٣ + ٣١٩ مَا الَّذِي يَتَوَجَّبُ عَليهِ فِعْلُهُ لِتَصْحِيحِ خَطَئه؟

أ) يُضِيف ٢٠٠
ب) يَطْرَح ٢
جـ) يُضِيف ٢
د) يَطْرَح ٢٠٠

---

٤ مَا الرَّقَمُ الَّذِي يُسَاوِي ثَمَانِيَ عَشَرَاتٍ مُضَافًا إِليهَا تِسعُ عَشَرَات؟

أ) ١٧
ب) ١٧٠٠
جـ) ١٧٠
د) ١٧٠٠٠

---

٥ القَاعِدَةُ فِي الجَدْولِ أَدْنَاهُ هِي: مَجمُوعُ الأَعْدَادِ فِي كُلِّ صَفٍّ وَكُلِّ عَمُودٍ لَهَا نَفْسُ النَاتِجِ، مَا الرَّقْمُ الَّذِي يَجِبُ وَضعُه فِي الفَرَاغِ وَسَطَ الجَدْوَل؟

| | | |
|---|---|---|
| ٤ | ١١ | ٦ |
| ٩ | | ٥ |
| ٨ | ٣ | ١٠ |

LIVEWORKSHEETS

٦ عِندَ طَرحِ ٢٧٥ مِنَ الأَعْدَادِ التَّالِيَةِ، أيٌّ منها يَكُونُ نَاتِجُه أَكبَرَ مِن ٤٠٠؟

أ) ٦٥٥ ج) ٦٦٦

ب) ٦٢٠ د) ٦٨٠

---

٧ زَارَ مَعرِضَ الكِتَابِ فِي أَحَدِ الأَيَّامِ ٧٥٣ رَجُلًا وَ٦١٤ سَيِّدَةً، وَفِي الْيَومِ التَّالِي زَارَ المَعرِضَ ١٥٥٠ شَخْصًا، مِنْهُم ٨٠٢ من الرجال. كَمْ زَادَ عَدَدُ الزَّائِرَاتِ فِي ذَلِكَ الْيَومِ عَن الْيَومِ السَّابِقِ؟

---

٨ ما العددُ الَّذي إذا أُضيفَ إلى العددِ ٧٩٨٢ أصبحَ النَّاتجُ ٢٥٠٠٠؟

---

٩ يبلغُ مجموعُ الجزرِ السُّعوديَّةِ في الخليجِ العربيِّ والبحرِ الأحمرِ نحوَ ١٢٨٥ جزيرةً مختلفةَ المساحةِ. إذا كانَ الخليجُ العربيُّ يضمُّ نحو ١٣٥ جزيرةً. فكمْ عددُ الجزرِ في البحرِ الأحمرِ تقريبًا ؟

أ) ١١٥٠ ج) ١٢٨٥

ب) ١٣٢٠ د) ١٤٢٠

---

١٠ في عمليَّةِ الجمعِ التَّاليةِ قيمةُ □ = ٦، و △ = ٢



أوجدْ قيمةَ باقي الأشكالِ.

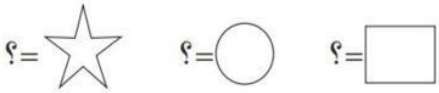


## أتدَّربُ

من خلالِ الإجابةِ عن الأسئلةِ؛ حتى أعزِّزَ ما تعلمتُهُ من مفاهيمَ وما اكتسبتُهُ من مهاراتٍ.

أنا طالبٌ معدٌّ للحياةِ، ومنافسٌ عالميًّا.

LIVEWORKSHEETS