Mari Mengenal

# POLA PEMUKIMAN PENDUDUK DAN POTENSI DESA

## Fase F Mapel Geografi
## SMAN 1 Prabumulih

Oleh : Lin Sururoh, S.Pd., M.Pd

LIVEWORKSHEETS

Nama: _____

Kelas: _____

# Memasangkan Gambar dan Kalimat

Hubungkan gambar dengan kalimat yang sesuai.

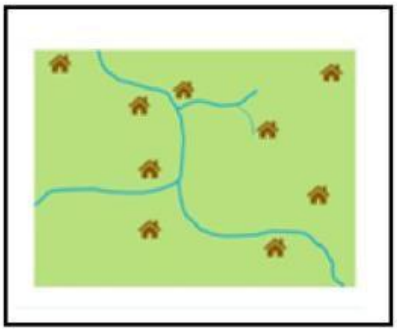

- Pola Pemukiman mengelompok

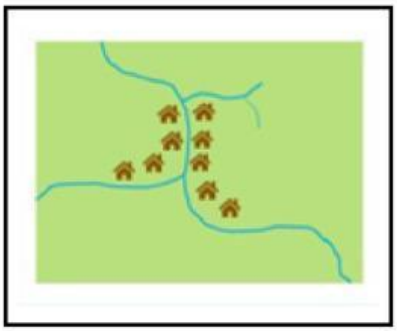

- Pola Pemukiman Memanjang

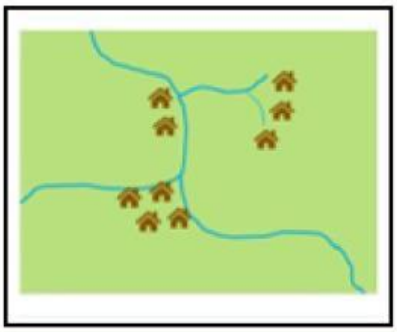

- Pola Pemukiman Menyebar

## Jawab pertanyaan berikut dengan tepat!

4. sesuatu yang dimiliki desa untuk mendukung kehidupan dan penghidupan masyarakat di dalamnya disebut _____.

5. meliputi tanah, air, iklim, tumbuhan dan hewan serta penduduk disebut _____.

LIVEWORKSHEETS