LKPD

Lembar Kerja Peserta Didik

BANGUN RUANG
KELAS VIII

LIVEWORKSHEETS

Materi Pelajaran

Mari menonton video berikut ini

Selanjutnya mari baca materi berikut ini

LIVEWORKSHEETS

Bangun Ruang

Mari perhatikan gambar berikut ini

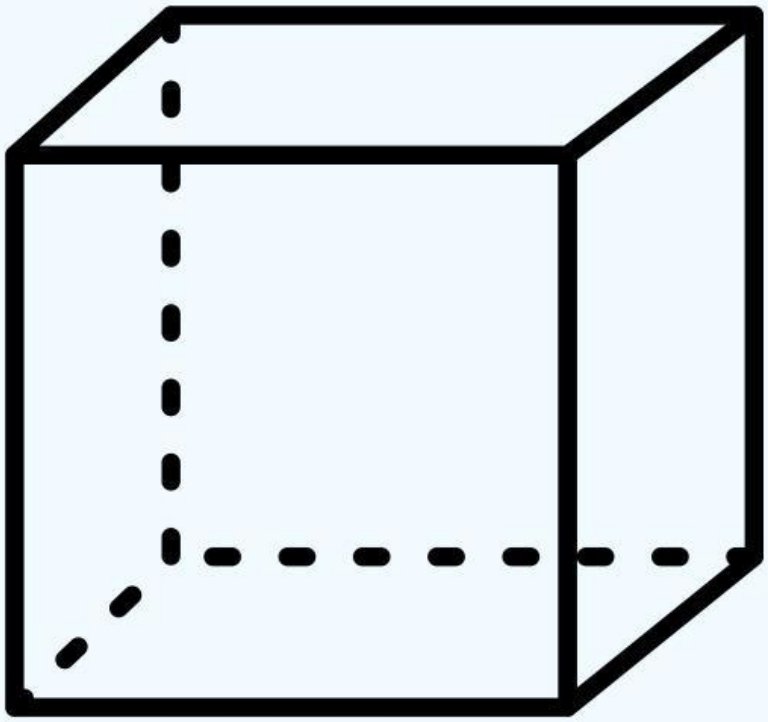

Apakah nama dari bangun ruang ini?

LIVEWORKSHEETS

Bangun Ruang

Bagun ruang apa yang memiliki alas segitiga?

Pilihlah jenis dari bangun ruang berikut ini!

- Limas
- Tabung
- Lingkaran

Pilihlah jenis bangun ruang yang memiliki alas lingkaran!

- Limas
- Tabung
- Kubus

Pindahkan bola ke kerajang melalui jalur yang benar

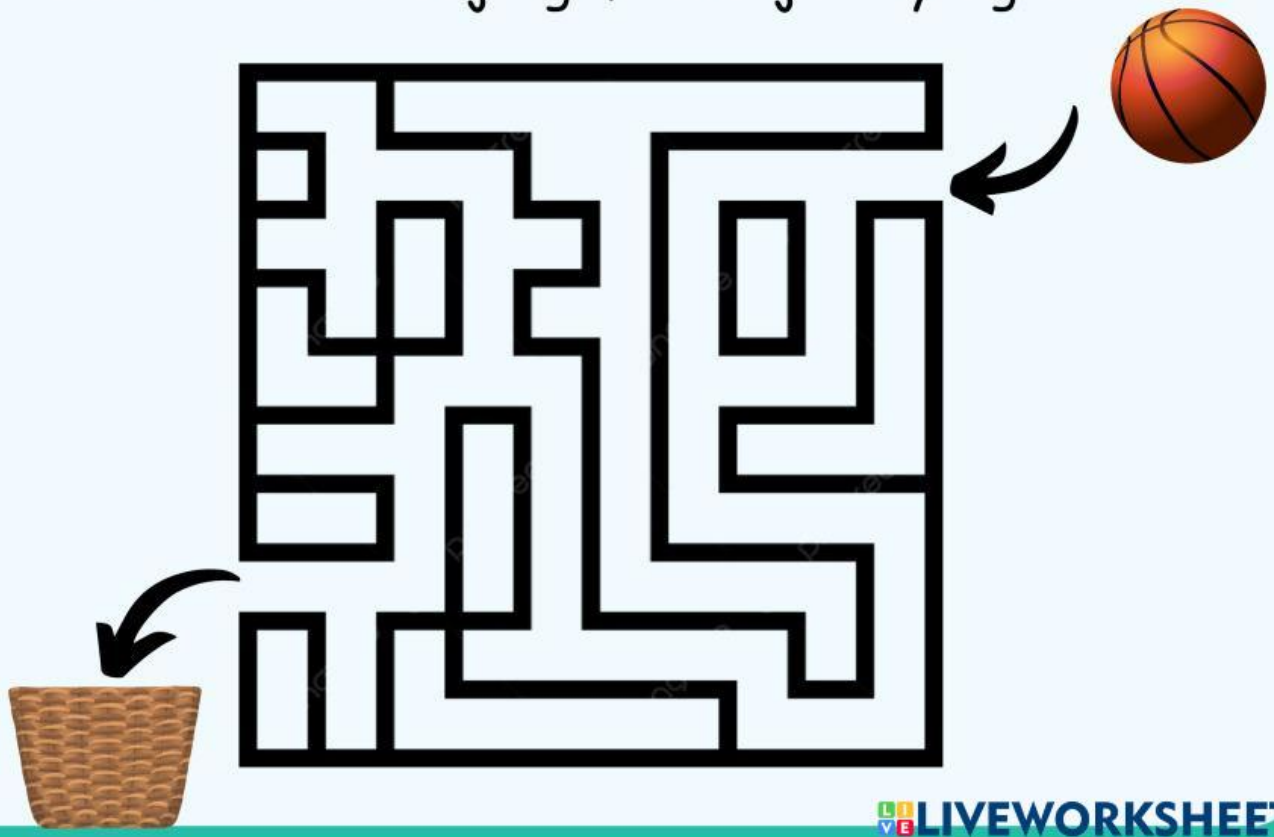

LIVEWORKSHEETS

Bangun Ruang

Bangun ruang yang tidak memiliki titik sudut adalah

Sebutkan :

Klik tombol dibawah ini untuk mendengarkan soal

Pilihlah 3 nama dari bangun ruang

C	B	S	I	L	T
D	H	B	O	L	A
F	S	A	A	U	B
O	Z	L	A	P	U
Q	X	O	C	L	N
Z	H	K	H	K	G

LIVEWORKSHEETS

TEKA-TEKI SILANG

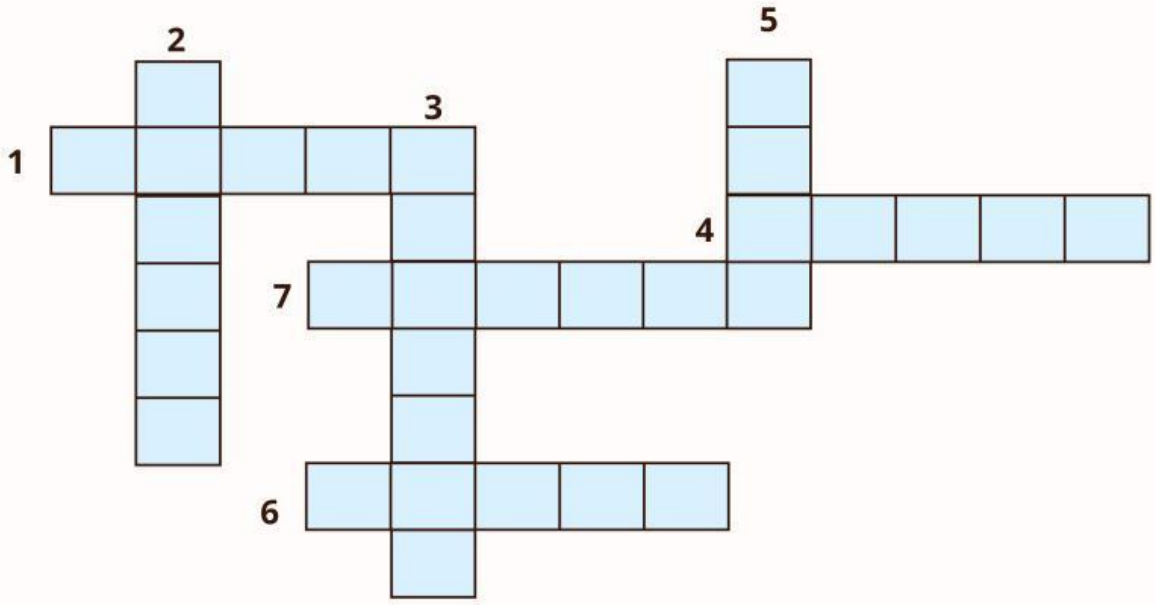

MENDATAR

1 Bangun ruang yang memiliki 12 rusuk yang tidak sama panjang

4 Bagun ruang yang memiliki alas segitiga

6 Bangun ruang yang memiliki 12 rusuk sama panjang

7 Bangun ruang yang memiliki dua bidang alas dan tutup yang sejajar dan sisi-sisinya berbentuk segi-n

MENURUN

2 Bagun ruang yang memiliki alas dan tutup lingkaran

3 Bagun ruang yang memiliki alas lingkaran dan sisi tegak berbentu segitga

5 bangun ruang yang tidak memiliki rusuk, bidang sisi, dan titik sudut

Semangat!

LIVEWORKSHEETS

Komonen Bangun Ruang

Pindahkan kotak pada tempat yang benar

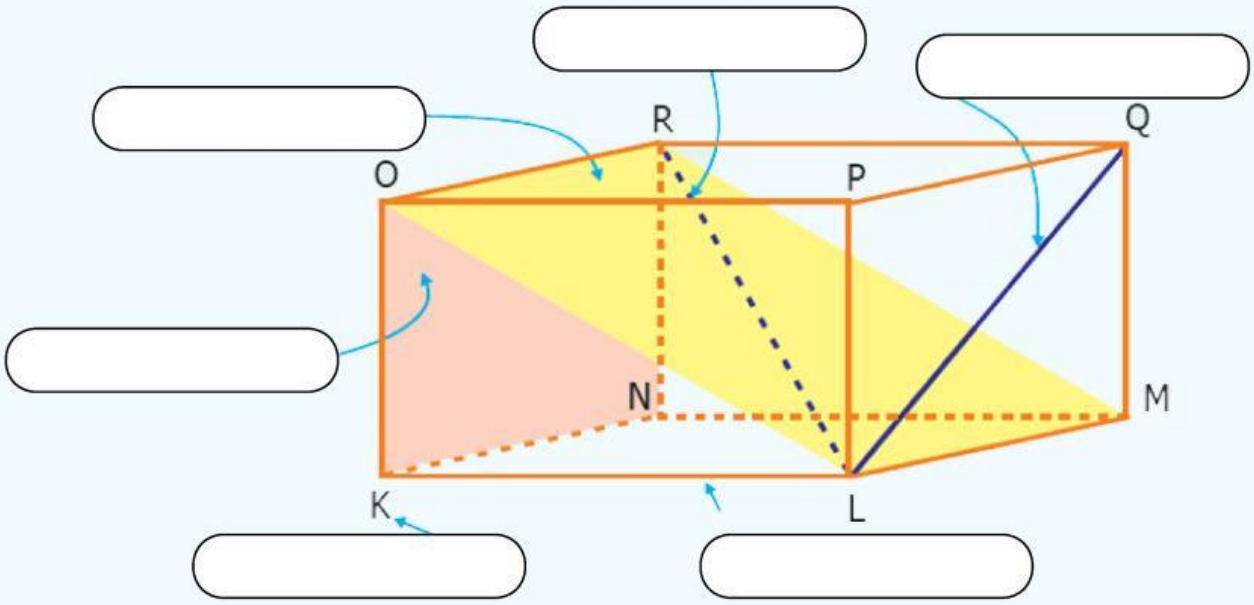

Diagonal Ruang

Bidang Diagonal

Diagonal Sisi

Sisi

Rusuk

Sudut

LIVEWORKSHEETS

Jenis Bangun Ruang

Limas

Prisma

Balok

Tabung

Bola

Kerucut

Kubus

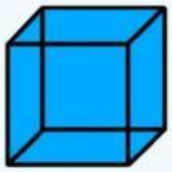



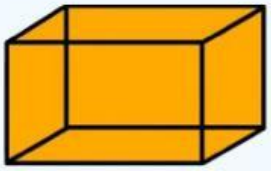

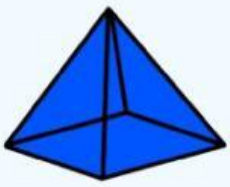

LIVEWORKSHEETS