Môn Toán

Các số 1, 2, 3

Tuần 1

Tên: .....

Thử thách 1

Em hãy khoanh vào chữ cái trước đáp án đúng nhất nhé

A. Phía trên

B. Phía dưới

Con chó đang ngồi ở đâu so với cái bàn?

A. Phía trên

B. Phía dưới

Lọ hoa đặt ở đâu so với cái bàn?

Thử thách 2

Em hãy nối theo mẫu nhé

LIVEWORKSHEETS

Môn Toán

Các số 1, 2, 3

Tuần 1

Thử thách 3

Em hãy đếm và tô màu số con vật theo số cho sẵn nhé

4

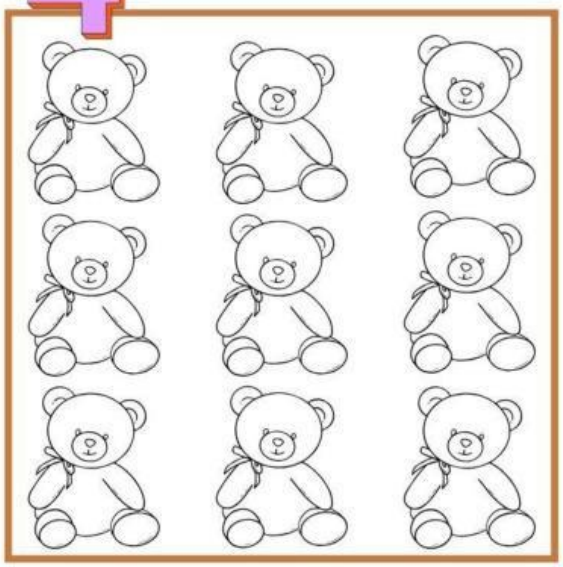

3







LIVEWORKSHEETS

Môn Tiếng Việt

Luyện Tập

Tuần 1

Thử thách 1 Em hãy ghép và viết (theo mẫu)

M:

c → a → ca

a

a

Thử thách 2 Bé hãy viết tiếng tương ứng với hình ảnh dưới đây

LIVEWORKSHEETS