ĐIỀN KẾT QUẢ TƯƠNG ỨNG Ở MỖI CÂN





LIVEWORKSHEETS

Hãy đổi những khối lượng sau đây ra đơn vị kilôgam (kg).

650 g = kg; 2,4 tạ = kg;

3,07 tấn = kg; 12 yến = kg;

12 lạng = kg.

Các thao tác dưới đây là đúng hay sai khi dùng cân đồng hồ hoặc cân điện tử?

MỆNH ĐỀ	Đúng	Sai
Đọc kết quả khi cân ổn định.		
Để vật lệch một bên trên đĩa cân.		
Đặt cân trên bề mặt không bằng phẳng.		
Đặt mắt vuông góc với mặt đồng hồ.		

Một đĩa cân thăng bằng khi ở đĩa cân bên trái có 4 gói kẹo, đĩa cân bên phải có một quả cân 100 g, một quả cân 50 g, một quả cân 20 g và 3 quả cân 10 g.

MỆNH ĐỀ	Đúng	Sai
Tổng khối lượng của các quả cân ở đĩa cân bên phải là 200 g.		
Khối lượng của một gói kẹo là 40 g.		
Có tổng cộng 6 quả cân		
Khối lượng của 6 gói kẹo là 300g		

Nói về các đơn vị đo khối lượng, điền đúng sai vào các mệnh đề sau đây/

MỆNH ĐỀ	Đúng	Sai
650 g tương đương với 0,65 kg.		
2,4 tạ tương đương với 240 kg.		
3,07 tấn tương đương với 307 kg.		
12 yến tương đương với 120 kg.		

LIVEWORKSHEETS

ĐIỀN KHỐI LƯỢNG THÍCH HỢP VÀO CHỖ TRỐNG



■ = _____

▲ = _____

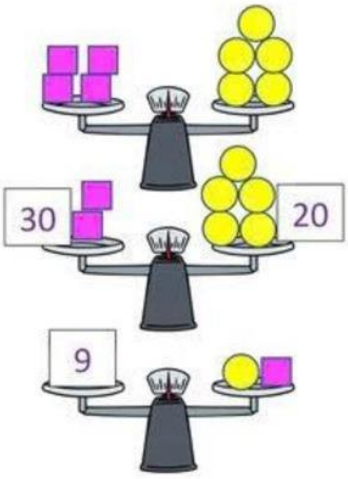

● = _____

■ = _____

1)

_____ g

2)

_____ kg

3)

_____ g

4)

_____ kg

5)

_____ g

6)

_____ kg

LIVEWORKSHEETS

Cho biết tên của từng loại cân sau

Một hộp quả cân Roberval gồm các quả cân có khối lượng 1 g, 2g, 5g, 10g, 20g, 50 g, 100 g, 200 g. Hãy xác định GHĐ và ĐCNN của cân.

GHĐ	ĐCNN

Trên một chiếc bánh nông lan có ghi "Khối lượng tịnh 250…". Em hãy tìm hiểu thực tế để xem ở chỗ để trống phải ghi đơn vị nào dưới đây?

mg	cg	g	kg

Trước một chiếc cầu có một biển báo giao thông có ghi "5T". Số 5T có ý nghĩa gì?

Số 5T chỉ dẫn rằng xe có trên 5 người ngồi thì không được đi qua cầu.	Số 5T chỉ dẫn rằng xe có khối lượng trên 5 tấn thì không được đi qua cầu.	Số 5T chỉ dẫn rằng xe có khối lượng trên 50 tấn thì không được đi qua cầu.	Số 5T chỉ dẫn rằng xe có khối lượng trên 5 tạ thì không được đi qua cầu.

LIVEWORKSHEETS