HINDELINE TÖÖLEHT 2. KLASS

1. Arvuta!

34	17	44	63	57
+43	+ 7	+ 8	+15	+23
40	51	49	39	50
- 7	- 2	- 6	-15	-14

2. Ema küpsetas 20 pannkooki. Karl ja Marta sõid ära kumbki 5 pannkooki moosiga. Mitu pannkooki jäi emale ja isale? Arvuta kirjalikult!

Vastus: _____

3. Grete joonistas sirkli ja joonlaua abil erinevaid kujundeid. Loenda kujundid ja märgi arvud tabelisse!

Kujundid	Arv
Ruudud	
Ringid	
Ristkülikud	
Kolmnurgad	



LIVEWORKSHEETS

4. Märgi tabelisse sobivad arvud.

Tahkude arv	2	4	5	6	1
Tippude arv	–	4	5	8	1
Servade arv	–	6	8	12	–

5. Kirjuta iga kujundi juurde õige nimetus.

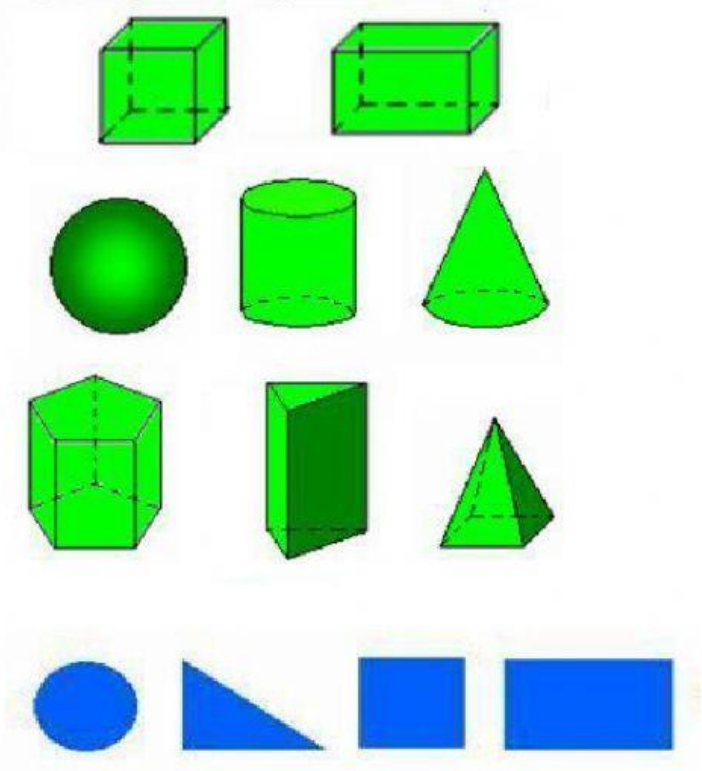

6. Loe kokku kõik kujundid ja kirjuta vastav arv.

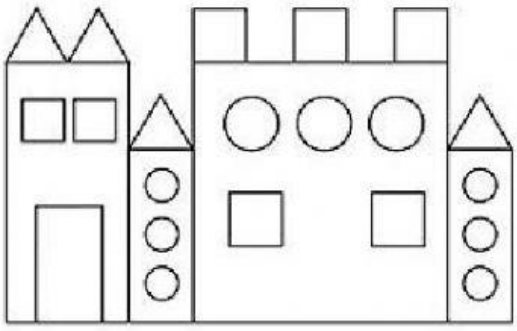

□ = ____ △ = ____

○ = ____ ▯ = ____

LIVEWORKSHEETS