S11 (8.1–8.2)

1. Pavaizduotas kūnas sudarytas iš kubelių, kurių kiekvieno briaunos ilgis yra 1 cm. Koks yra kūno tūris kubiniais centimetrais?

a)

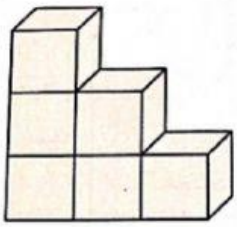

b)



c)

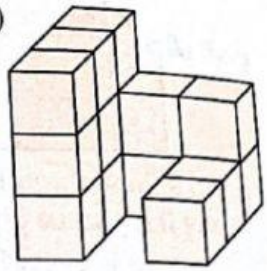

2. Iš kubelių, kurių kiekvieno tūris lygus 1 cm^3, sudėtas erdvinis kūnas, kurio tūris lygus 240 cm^3. Koks būtų kūno tūris, jei nuo sudėto erdvinio kūno nuimtume:

a) $\frac{1}{12}$ kubelių? b) $\frac{7}{8}$ kubelių? c) 35 % kubelių?

1. Pavaizduotas kūnas sudarytas iš kubelių, kurių kiekvieno briaunos ilgis yra 1 cm. Koks yra kūno tūris kubiniais centimetrais?

a)



b)



c)



2. Iš kubelių, kurių kiekvieno tūris lygus 1 cm^3, sudėtas erdvinis kūnas, kurio tūris lygus 280 cm^3. Koks būtų kūno tūris, jei nuo sudėto erdvinio kūno nuimtume:

a) $\frac{1}{14}$ kubelių? b) $\frac{5}{7}$ kubelių? c) 45 % kubelių?

LIVEWORKSHEETS