الفَصلُ (٧): الدَرْسُ (١): مُضَاعَفاتُ كُسورِ الوحْدَةِ

أَقرأُ الكَسرَ الذي تُمَثِّلُهُ الأَجزاءُ المُظَلَّلَةُ وأَكتُبُهُ:

١ 

٢ 

٣ 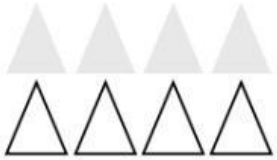

٤ 

٥ 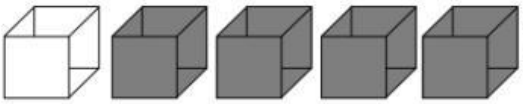

٦ 

٧

٨

٩ اشتَرى أيادُ ٧ علبِ حليبٍ تَناولَ منها ٤، ما الكَسرُ الذي تُمَثِلهُ العُلَبُ التِي تَناولَها؟

١٠ زَرَعَتْ أشواقُ ١٠ وَرْداتٍ، ٥ مِنْها مِن الرَازْقِي . ما الكَسرُ الذي تُمَثِلهُ أزهارُ الرَازقِي؟

LIVEWORKSHEETS