KORESPONDENSI SATU-SATU

Nama : _____

Kelas : _____

---

1 Perhatikan diagram panah di bawah ini.
Tentukan diagram panah yang menunjukkan korespondensi satu-satu.

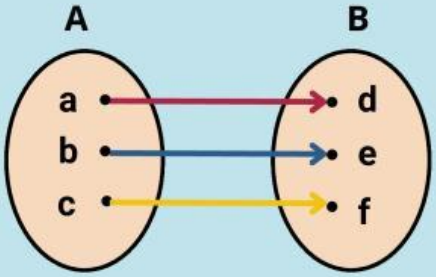

i

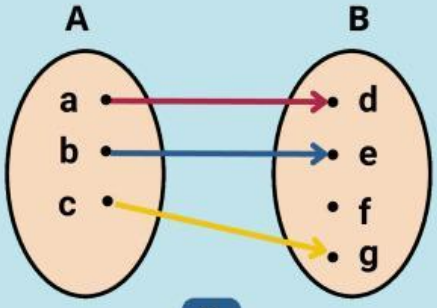

ii

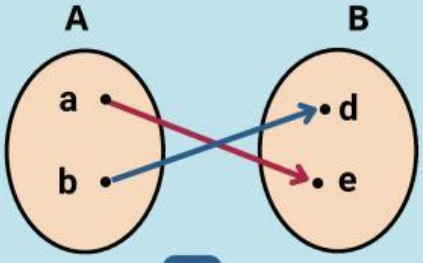

iii

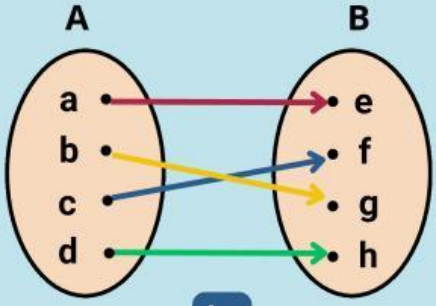

iv

2 Berikut disajikan himpunan pasangan berurutan di bawah ini.
Tentukan himpunan pasangan berurutan yang menunjukkan korespondensi satu-satu.

i {(a, x), (b, z), (a, y)}

ii {(2, 4), (3, 6), (4, 8)}

iii {(16, 4), (25, 5), (36, 6)}

LIVEWORKSHEETS

3 Banyak korespondensi satu-satu yang dapat terbentuk jika $n(A) = n(B) = 5$ adalah 120.

Pernyataan di atas bernilai ... (piih salah satu jawaban di bawah ini).

BENAR **SALAH**

4 Banyak korespondensi satu-satu yang dapat terbentuk jika $n(A) = n(B) = 6$ adalah ...

Lengkapi operasi perhitungan di bawah ini untuk menjawab pertanyaan di atas.

... ! = ... × ... × ... × ... × ... × ...

... ! = ...

Terima Kasih

LIVEWORKSHEETS