ใบงานรายวิชาเทคโนโลยี 1 (ว21103)

ใบงาน เรื่อง วงจรไฟฟ้าเบื้องต้น

ชื่อ :	ชั้น :	เลขที่ :

ให้นักเรียนเลือกสัญลักษณ์ทางไฟฟ้าของอุปกรณ์อิเล็กทรอนิกส์แต่ละชนิดให้ถูกต้อง



ให้นักเรียนตอบคำถามต่อไปนี้ให้ถูกต้อง



วงจรไฟฟ้านี้ เป็นวงจร
กรณีหลอดไฟชำรุด

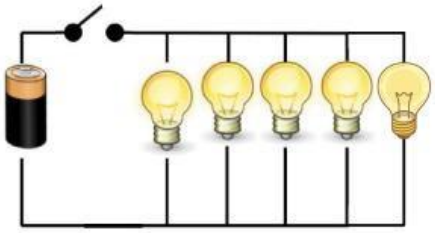

วงจรไฟฟ้านี้ เป็นวงจร
กรณีหลอดไฟชำรุด

ให้นักเรียนนำอุปกรณ์อิเล็กทรอนิกส์ต่อไปนี้ ต่อวงจรไฟฟ้าให้สามารถทำงานได้อย่างปลอดภัย

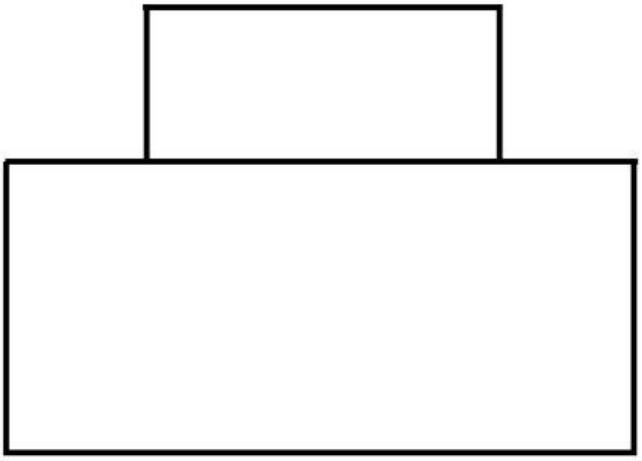

LIVEWORKSHEETS