Lembar Kerja Peserta Didik

LKPD

MENGENAL DAN MENGEKPLORASI IKATAN DAN SIMPUL

Nama :

Kelas :

LIVEWORKSHEETS

A. **Pilihlah salah satu jawaban yang kalian anggap benar!!**

1. Serat yang terbuat dari tumbuhan dan hewan adalah serat...

A Sintetis

C Alam

B Buatan

D Organik

2. Bahan utama kerajinan dengan teknik makrame adalah...

A Tali

C Gantungan kunci

B Kertas origami

D Manik-manik

3. Noken adalah kerjainan yang berasal dari...

A Badui

C Dayak

B Papua

D Sumbawa

LIVEWORKSHEETS

4. Berikut adalh sifat serat yang berasal dari tumbuh-rumbuhan....

A Bertekstur halus

B Bertekstur kasar

C Menghangat-kan

D Bertekstur lembut

5. Sebuah hasil kerajinan dikatakan memiliki nilai fungsional apabila....

A Kerajinan itu sekedar untuk mendekorasi suatu benda

B Kerajinan itu memiliki nilai pakai

C Kerajinan itu mempercantik penampilan

D Kerajinan itu untuk hiasan interior

LIVEWORKSHEETS

B. Tariklah gambar simpul sesuai dengan nama simpul!!

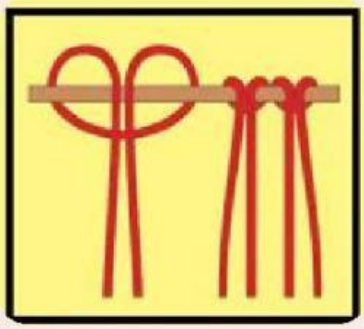

Simpul Persegi

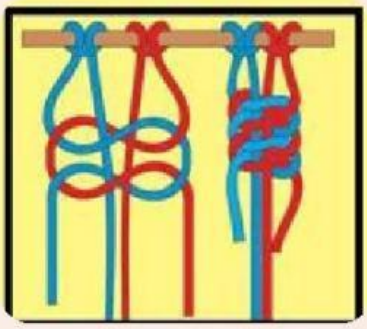

Simpul Tunggal

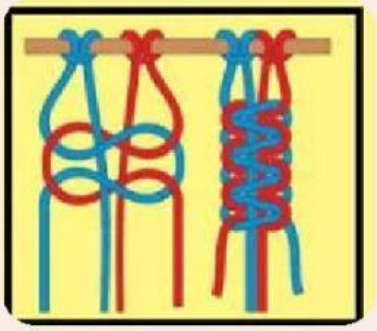

Simpul Kepala

Simpul Ganda

LIVEWORKSHEETS

C Carilah kata pada table sesuai dengan clue yang sudah disediakan!!

M	A	K	R	A	M	E	S
G	S	A	U	T	A	L	I
E	E	A	J	U	P	M	M
L	R	W	U	Y	A	K	P
A	A	E	J	A	L	P	U
N	T	T	Y	W	O	L	L
G	N	A	N	E	B	U	O

Clue

- Makrame
- Simpul
- Tali
- Benang
- Kayu
- Serat
- Gelang
- Awet
- Jujur
- Woll

LIVEWORKSHEETS

D. Dengarkan suara berikut dan tuliskan jawabannya pada kotak!!

LIVEWORKSHEETS

LIVEWORKSHEETS