Nama: Kelas:

Struktur Data dan Pengenalan Informatika

Jawablah pertanyaan-pertanyaan di bawah ini!

1. Apa yang kalian ketahui tentang Struktur Data ?

.....

.....

.....

2. Sebutkan 5 element informatika yang pernah kalian mapping !

.....

.....

.....

3. Sebutkan 2 Struktur Data yang kalian ketahui !

.....

.....

.....

4. Berikan contoh bentuk struktur data dalam kehidupan sehari - hari yang kalian ketahui !

.....

.....

5. Di dalam struktur data tree terdapat node, apa yang kalian tahu tentang node !

.....

.....

.....

LIVEWORKSHEETS

Flowchart

Pasangkan Alur diagram Flowchart dengan Kegunaannya

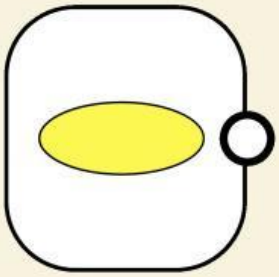

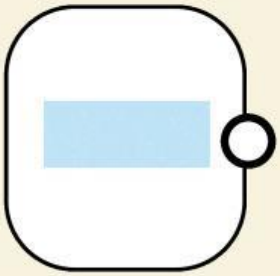

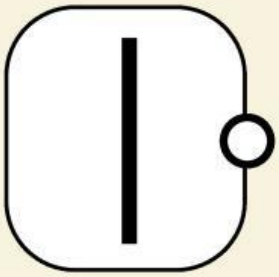

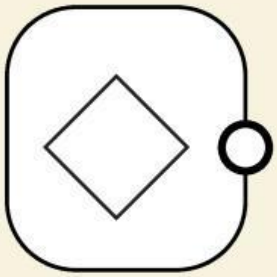

Kondisi Tertentu

Proses

Start / End

Input

Garis penghubung

LIVEWORKSHEETS

ALGORITMA

Pasangkan Alur diagram Flowchart dengan Kegunaannya

ALGORITMA DESKRIPTIF

Bacalah cerita di bawah ini, lalu buatlah algoritma deskriptif dalam membuat kopi sesuai dengan runtutan yang sistematis !

Adi baru saja membeli biji kopi segar dari pasar. Ia ingin membuat secangkir kopi untuk dirinya sendiri. Adi tahu bahwa ada beberapa langkah yang harus diikuti untuk membuat kopi yang enak. Berikut ini adalah beberapa langkah yang Adi lakukan:

1. .....
2. .....
3 .....
4 .....
5 .....
6 .....

LIVEWORKSHEETS