Matematika

Bu Isti

LIVEWORKSHEETS

LEMBAR LATIHAN

NAMA : _____

Berlatihlah menyelesaikan masalah berikut ini!

Diketahui:

Wahyu membeli beberapa bungkus gula. Setiap bungkus gula memiliki berat $\frac{3}{4}$ kg

Ditanya:

Maka berat total seluruh gula adalah ...

Pilihlah jawaban yang paling benar di bawah ini:

a. $3\frac{1}{2}$

b. $4\frac{1}{2}$

Tulislah cara menghitungnya di buku tulis ...

LIVEWORKSHEETS

Berlatihlah menyelesaikan masalah berikut ini!

Diketahui:
Satu ember dapat digunakan untuk menyiram sawah yang ditunjukkan oleh gambar di bawah ini.
Sawah yang dimaksud adalah bagian yang berwarna hijau.

Ditanya:
Tiga ember dapat digunakan untuk menyiram sawah seluas...

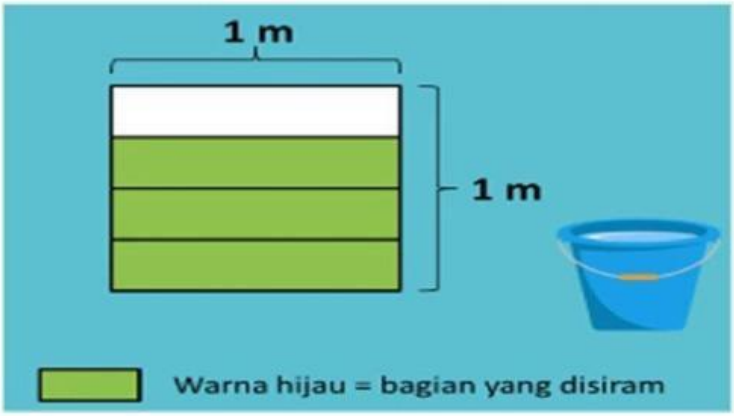

Pilihlah jawaban yang paling benar di bawah ini:

a. $2\frac{1}{4}$

b. $3\frac{1}{4}$

Tulislah cara menghitungnya di buku tulis ...

LIVEWORKSHEETS

Berlatihlah menyelesaikan masalah berikut ini!

Diketahui:
Setiap hari Linda mendapatkan jatah kue seperti yang ditunjukkan oleh gambar di bawah.

Ditanya:
Jatah kue yang didapatkan Linda selama satu minggu yaitu...

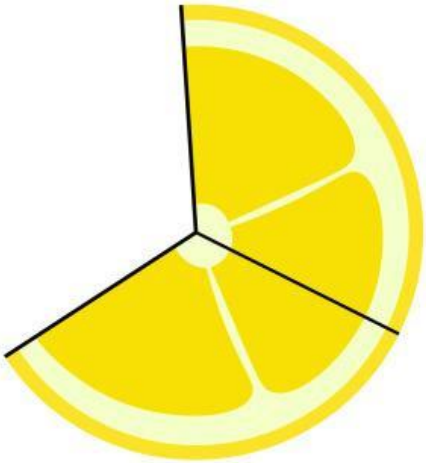

Pilihlah jawaban yang paling benar di bawah ini:

a. $6\frac{2}{3}$

b. $4\frac{2}{3}$

Tulislah cara menghitungnya di buku tulis ...

LIVEWORKSHEETS

Berlatihlah menyelesaikan masalah berikut ini!
Diketahui :

Rini membeli 6 kotak susu di toko. Setiap kotak susu memiliki volume yang sama yaitu $\frac{25}{75}$ liter

Ditanya:

Berapa liter dari semua kotak susu yang dibeli Rini adalah ...



Pilihlah jawaban yang paling benar di bawah ini:

a. 3 b. 4 c. 6

Tulislah cara menghitungnya di buku tulis ...

LIVEWORKSHEETS