PHIẾU BÀI TẬP MÔN TOÁN

TUẦN 1 - PHIẾU SỐ 1

Họ và tên: .....Lớp: .....

Phần 1: Học sinh chỉ ghi đáp án vào ô trống

STT	NỘI DUNG BÀI TOÁN	ĐÁP ÁN
1	Tìm x biết x là số tự nhiên nhỏ nhất và $x > \frac{4}{3}$.	.....
2	Rút gọn phân số $\frac{35}{140}$ thành phân số tối giản.	.....
3	Nối phân số $\frac{12}{18}$ với các phân số bằng nó (theo mẫu) 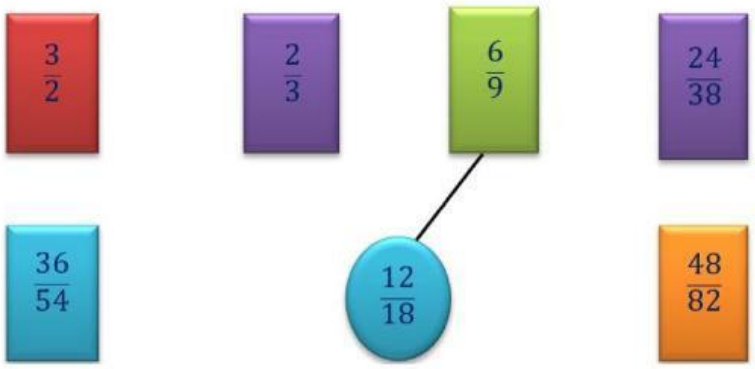 	.....

Phần 2: Học sinh trình bày bài làm.

Các bạn hãy làm theo yêu cầu bài toán nhé!

a. Viết tất cả các phân số nhỏ hơn 1 có mẫu số là 212 và tử số lớn hơn 204.

.....

.....

.....

b. Viết tất cả các phân số lớn hơn 1 có mẫu số là 315 và tử số lớn hơn 317 nhưng nhỏ hơn 320.

.....

.....

.....

LIVEWORKSHEETS

2

Doremon và Nobita đã làm được, các bạn thì sao?

Nobita có một sợi dây dài 10m, Nobita cắt lấy $\frac{1}{3}$ độ dài của nó, Nobita đưa cho Doremon phần còn lại. Nobita đề nghị Doremon hãy lấy 5m dây mà không cần dùng thước đo. Hãy giúp Doremon lấy được 5m dây.

.....
.....
.....
.....
.....
.....
.....
.....
.....

3

a, $\frac{x-5}{36} = \frac{8}{12}$

Tìm x

b, $\frac{4}{x+5} = \frac{20}{25}$

.....
.....
.....
.....

.....
.....
.....
.....

4

Tìm một phân số biết tử số lớn hơn mẫu số 8 đơn vị và sau khi rút gọn ta được phân số $\frac{5}{3}$.

.....
.....
.....
.....
.....

○ **Hoàn thành tốt** ○ **Hoàn thành** ○ **Chưa hoàn thành**

Nhận xét: .....

LIVEWORKSHEETS

PHIẾU BÀI TẬP MÔN TOÁN

TUẦN 1 - PHIẾU SỐ 2

Họ và tên: .....Lớp: .....

Phần 1: Học sinh chỉ ghi đáp án vào ô trống

STT	NỘI DUNG BÀI TOÁN	ĐÁP ÁN
1	Tìm phân số bé nhất trong các phân số: $\frac{1}{3}; \frac{3}{2}; \frac{4}{3}; \frac{2}{3}$	
2	Rút gọn: $\frac{3\times6\times22}{9\times33\times24}$	
3	Các bạn hãy sắp xếp các phân số sau rồi điền vào ô trống để thể hiện mức độ phát triển của cây.	

Các phân số			
$\frac{3}{4}; \frac{5}{12}; \frac{2}{3}$			
$\frac{5}{6}; \frac{2}{5}; \frac{11}{30}$			
$\frac{7}{8}; \frac{4}{5}; \frac{9}{10}$			
$\frac{13}{3}; \frac{17}{3}; 1$			

Phần 2: Học sinh trình bày bài làm.



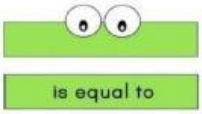

a, $\frac{9}{21}$ ..... $\frac{3}{5}$ b, $\frac{2016}{2016}$ ..... $\frac{16}{16}$ c, $\frac{10}{11}$ ..... $\frac{13}{12}$

d, $\frac{6}{7}$ ..... $\frac{7}{9}$ e, $\frac{2121}{2020}$ ..... $\frac{15}{16}$ f, $\frac{108}{109}$ ..... $\frac{109}{110}$

LIVEWORKSHEETS

2

Vân có một số bông hoa. Vân tặng Mai $\frac{1}{4}$ số bông hoa, tặng Hòa $\frac{2}{7}$ số bông hoa đó. Hỏi ai được Vân tặng nhiều hơn và nhiều hơn bao nhiêu phần số bông hoa đó?

.....

.....
.....
.....
.....
.....
.....

3

Hãy chứng tỏ rằng:

$$\frac{1}{41}+\frac{1}{42}+\frac{1}{43}+...+\frac{1}{79}+\frac{1}{80}>\frac{7}{12}$$

Các bạn giúp tớ giải bài toán này nhé!

.....
.....
.....
.....
.....
.....
.....
.....

○ **Hoàn thành tốt** ○ **Hoàn thành** ○ **Chưa hoàn thành**

Nhận xét: .....

LIVEWORKSHEETS

PHIẾU BÀI TẬP MÔN TOÁN

TUẦN 1 - PHIẾU SỐ 3

Họ và tên: .....Lớp: .....

Phần 1: Học sinh chỉ ghi đáp án vào ô trống

STT	NỘI DUNG BÀI TOÁN	ĐÁP ÁN
1	Trong các phân số: $\frac{27}{54}$; $\frac{71}{100}$; $\frac{1}{1000}$ phân số nào là phân số thập phân?	.....
2	Tìm số tự nhiên x biết: $\frac{x-1}{2} = \frac{18}{x-1}$	.....
3	Trong các phân số sau, phân số nào có thể chuyển thành phân số thập phân: $\frac{3}{4}$; $\frac{3}{5}$; $\frac{3}{8}$; $\frac{5}{6}$; $\frac{12}{25}$.	.....

Phần 2. Học sinh trình bày bài làm

1

Viết số thích hợp vào chỗ ….:

a, $\frac{13}{20} = \frac{13 \times .....}{20 \times .....} = \frac{.....}{100}$

b, $\frac{8}{25} = \frac{8 \times .....}{25 \times .....} = \frac{.....}{100}$

c, $\frac{28}{70} = \frac{28 : .....}{70 : .....} = \frac{4}{.....}$

d, $\frac{201}{250} = \frac{201 \times 4}{..... \times .....} = \frac{.....}{.....}$

2

Các bạn giúp tớ làm bài này nhé!

a. Tìm số tự nhiên x lớn nhất, biết:

$x < \frac{1}{1000}$ ..... $x < \frac{157}{100}$ .....

LIVEWORKSHEETS

b. Tìm số tự nhiên x bé nhất, biết:

$x > \frac{2019}{100000}$ ..... $x > \frac{2019}{1000}$ .....

3

Một tổ công nhân sản xuất xong một số sản phẩm trong ba ngày. Ngày thứ nhất sản xuất được $\frac{2}{5}$ số sản phẩm, ngày thứ hai sản xuất được $\frac{1}{3}$ số sản phẩm, ngày thứ ba sản xuất 40 sản phẩm thì hoàn tất. Hỏi trong ba ngày tổ công nhân sản xuất được bao nhiêu sản phẩm?

.....
.....
.....
.....
.....
.....
.....
.....
.....
.....
.....

Hoàn thành tốt Hoàn thành Chưa hoàn thành

Nhận xét: .....

LIVEWORKSHEETS