மாவட்டக் கல்வி அலுவலகம் (தொடக்கக்கல்வி), திருவள்ளூர்.
பரப்பளவு – சதுரம் மற்றும் செவ்வகம் பயிற்சித் தாள் 3

சரியான விடையை தேர்ந்தெடுக்கவும்

6.

இச்சதுரத்தின் பரப்பளவு என்ன?

அ) 225 ச.மீ. ஆ) 30 ச.மீ. இ) 60 ச.மீ.

7.

இவற்றில் எந்த செவ்வகத்தின் பரப்பளவு பெரியது?

அ) செவ்வகம் 1 ஆ) செவ்வகம் 2 இ) இரண்டின் பரப்பும் சமம்

8. 50 மீ. நீளம் மற்றும் 15 மீ. அகலம் உள்ள ஒரு பூங்காவின் பரப்பளவு என்ன?

அ) 750 ச.மீ. ஆ) 65 ச.மீ. இ) 250 ச.மீ.

9. 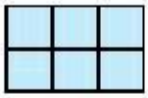
இச்செவ்வகத்தின் சமமான பரப்பளவு உடைய மற்றொரு வடிவம் எது?

அ) 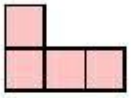
ஆ) 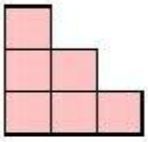
இ) 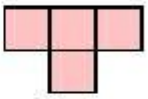

10. ஒரு பள்ளியில் 5மீ. நீளமும், 12 மீ. அகலமும் உள்ள மலர் தோட்டம் உள்ளது. ஒரு மூட்டை உரம் 5 ச.மீ. அளவுள்ள தோட்டத்திற்கு பயன்படுத்தலாம் எனில், பள்ளிக்கு எத்தனை மூட்டைகள் தேவைப்படும்?

அ) 15 மூட்டைகள் ஆ) 5 மூட்டைகள் இ) 12 மூட்டைகள்

LIVEWORKSHEETS