ACTIVITAT 8 | GOMES D'ESBORRAR

A la classe hi ha 6 capses de gomes d'esborrar. Cada capsa conté 30 gomes, 20 són de color blanc i 10 són de color verd.



26. **Quantes gomes de color blanc hi ha en total a les 6 capses?**

a. 60 gomes

b. 120 gomes

c. 180 gomes

d. 360 gomes

27. **Si 30 gomes pesen 364 grams, quin és el pes més aproximat d'una goma?**

a. 10 grams

b. 12 grams

c. 30 grams

d. 120 grams

28. **En una capsa, respecte del total, les gomes de color verd són...**

a. la meitat.

b. la tercera part.

c. la quarta part.

d. la cinquena part.

29. **Avui, a la papereria, per cada 300 gomes que comprem ens en regalen un 20 %. Si comprem 300 gomes, quantes gomes ens regalaran?**

a. 30 gomes

b. 40 gomes

c. 50 gomes

d. 60 gomes

LIVEWORKSHEETS

ACTIVITAT 8 | GOMES D'ESBORRAR

Amb les gomes, en David ha construït les figures següents:

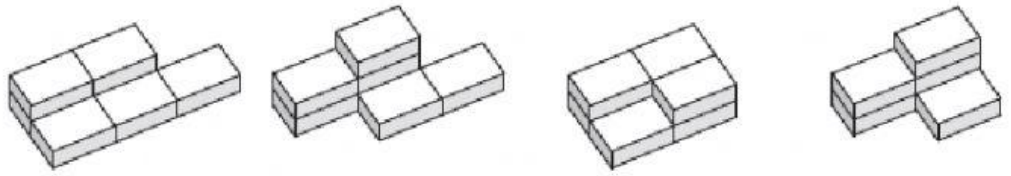

Figura 1 Figura 2 Figura 3 Figura 4

30. En quina figura ha fet servir menys gomes?

a. Figura 1

b. Figura 2

c. Figura 3

d. Figura 4

En David també ha construït aquesta figura:

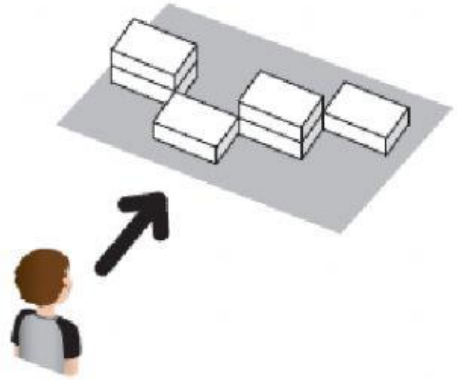

31. Si mires la imatge des de la fletxa, quina figura veus?

Figura 1 Figura 2 Figura 3 Figura 4

a. Figura 1

b. Figura 2

c. Figura 3

d. Figura 4

LIVEWORKSHEETS