LEMBAR KERJA PESERTA DIDIK

Masalah 1.

Petunjuk.
Buatlah garis ke jawaban yang benar

Pada persamaan dasar pembagian polynomial $p(x)=g(x).h(x)+s(x)$. fungsi $p(x)$, $g(x)$, $h(x)$ dan $s(x)$ berturut-turut adalah

$p(x)$	$g(x)$	$h(x)$	$s(x)$
Hasil bagi	**sisa**	**Yang dibagi**	**pembagi**

LIVEWORKSHEETS

LIVEWORKSHEETS

Petunjuk.
Drag dan drop sesuai jawaban yang benar

Masalah 2.

Diketahui polinomial, p(x)= $2x^3 - 5x + 2$, sisa pembagian p(x) dengan

a. (x-1)	b. (2x-1)	c.(x+3)

$-\frac{1}{4}$ | -1 | 37

Masalah 3.

Pilihlah setiap kotak kosong dengan jawaban yang benar

Diketahui polinomial, p(x)= $2x^4 - 3x^2 + 6x - 5$, dibagi dengan (x-2) dengan metode horner ttentukan sisa pembagiannya



Sisa

LIVEWORKSHEETS

LIVEWORKSHEETS

Masalah 4.

Petunjuk
Pilihlah setiap kotak kosong dengan jawaban yang benar

Sisa pembagian
p(x) = $2x^4 - 3x^2 - 6x - 5$, oleh
a. (x+2) b. (-x-1) c.(-2x-1)

Diketahui polinomial,
p(x) = $x^3 - 2x^2 - x + 2$, salah satu faktornya adalah (x-1), faktor lainnya adalah



Berdasarkan grafik fungsi polinomial y=$x^3 - 2x^2 - x + 2$
Akar rasinalnya adalah

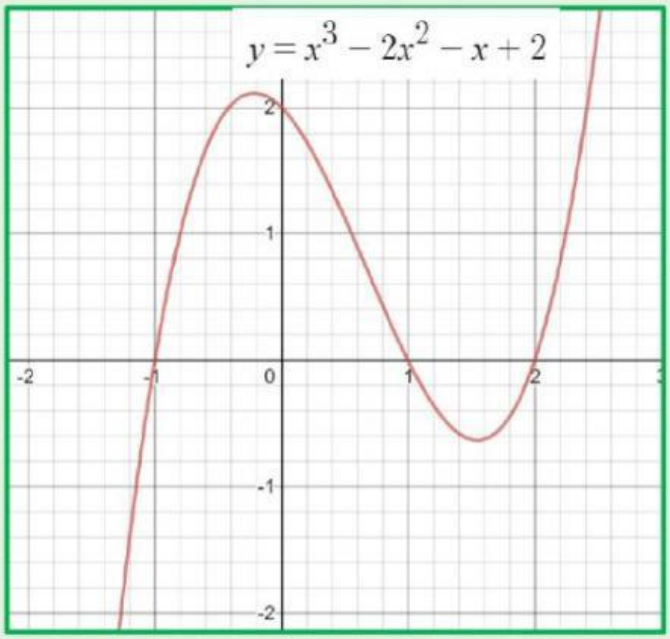

LIVEWORKSHEETS

LIVEWORKSHEETS

LIVEWORKSHEETS

LIVEWORKSHEETS