SOAL EVALUASI

Nama : _____

Kelas : _____

Petunjuk Pengerjaan

1. Bacalah setiap pertanyaan dengan seksama dan perlahan sebelum menjawabnya.
2. Kerjakan soal menggunakan bahasa sendiri yang mudah dipahami.

1

Kelompokkan lah benda-benda diatas ke dalam dua kategori dibawah ini!

KUBUS	BALOK
1.	1.
2.	2.
3.	3.
4.	4.
5.	5.

LIVEWORKSHEETS

2

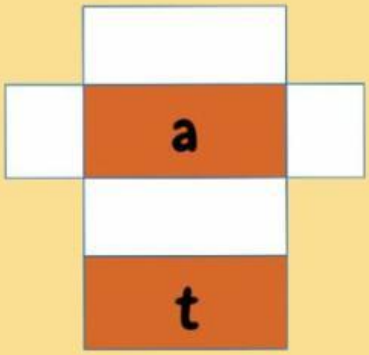

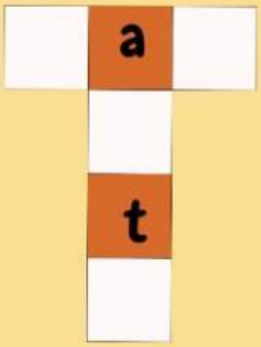

Dari gambar diatas, jelaskan perbedaan kedua jaring-jaring tersebut!

Jawab:

3

Hitunglah luas permukaan bangun ruang dibawah ini!

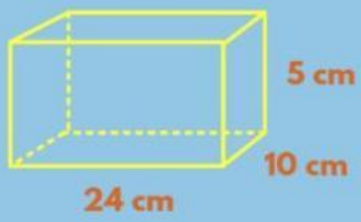

Dik : P = ☐ l = ☐ t = ☐ cm

Dit : ☐

Jawab :

L = ☐ × [(☐ × ☐) + (☐ × ☐) + (☐ × ☐)]

= ☐ × [(☐ × ☐) + ☐ × ☐) + ☐ × ☐)]

= ☐ × [☐ + ☐ + ☐]

= ☐ × ☐

= ☐ cm^2

LIVEWORKSHEETS

4

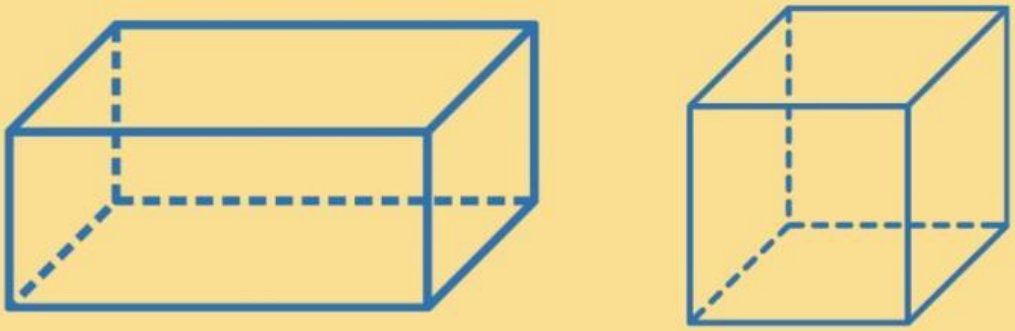

Dari gambar diatas, jelaskan persamaan dari kedua bangun ruang tersebut!

Jawab:

5

Jika kamu memilih bangun ruang untuk menyimpan kotak pensil yang paling efisien, bangunan mana yang akan kamu pilih antara balok dan kubus? Berikan penjelasan

Jawab:

~thank you~

for doing the questions well

LIVEWORKSHEETS