Tên: _____ Lớp: _____

PHIẾU ÔN TOÁN

LỚP 2 – TUẦN 23

Wow!

Chào các bạn! Mình là Darwin Watterson

Hôm nay, chúng mình cùng nhau ôn bài nhé!

Chặng 1: Thời gian của chúng ta

1. Đồng hồ chỉ mấy giờ? (Viết theo mẫu)

3 giờ rưỡi

.....

.....

.....

.....

.....

2. Nối thời gian phù hợp với từng bức tranh sau:

7:00 | 6:30 | 21:00 | 16:00

sáng

sáng

chiều

tối

LIVEWORKSHEETS

Chặng 2: Khám phá bí ẩn thời gian

3. Điền tên đất nước thích hợp vào chỗ chấm:

- ✓ **Việt Nam** đang là 7 giờ.
- ✓ **Ả - rập** *chậm hơn* **Việt Nam** 3 tiếng.
- ✓ **Trung Quốc** và **Xin–ga–po** *nhanh hơn* **Việt Nam** 1 tiếng.
- ✓ **Hàn Quốc** *nhanh hơn* **Việt Nam** 2 tiếng.

Việt Nam

.....

.....
.....

.....
.....

1.

5. Giờ hay phút?

An đánh răng trong 3.....

Nam làm bài trong 1.....

Lâm đi dạo trong 20.....

LIVEWORKSHEETS

Chặng 3: Em làm được những gì?

6. Viết phép tính thích hợp vào chỗ chấm:

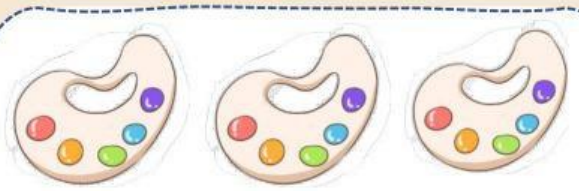

Mẫu: 5 + 5 + 5 = 15
5 x 3 = 15
15 : 5 = 3 15 : 3 = 5

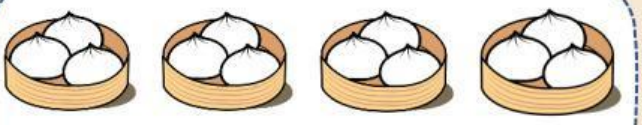

... + ... + ... + ... = ...
... x ... = ...
... : ... = ... : ... = ...

... + ... = ...
... x ... = ...
... : ... = ... : ... = ...



.....
.....
....

7. Viết phép nhân và phép chia tương ứng bằng cách sử dụng số ở cả hai chiếc giỏ sau (theo mẫu):

5 x 2 = 10 → 10 : 2 = 5; 10 : 5 = 2

... x ... = ... → ..... ; .....

... x ... = ... → ..... ; .....

... x ... = ... → ..... ; .....

LIVEWORKSHEETS

8. Viết phép tính thích hợp vào chỗ chấm:

2 x 5 = …	14 : 2 = …	2 x 8 = …	5 x 8 = …
10 : 2 = …	2 x 7 = …	16 : 2 = …	40 : 5 = …
5 x … = 10	2 x … = 18	… x 6 = 12	2 x … = 14
… : 5 = 2	18 : … = 9	12 : 6 = …	14 : 2 = …

9. Nối chú ếch với chiếc lá thích hợp:

22 + 3 - 14	45 : 5	43 – 12 – 1	2 x 8

10. Em hãy điền vào chỗ chấm để hoàn thiện bài toán rồi giải:

Một chiếc bánh pizza cắt được 6 miếng bánh, vậy 3 chiếc bánh pizza cắt được … miếng bánh. Lớp trưởng chia đều số bánh đó cho 2 tổ. Hỏi mỗi tổ được chia mấy miếng bánh pizza?

Bài giải:

Trải nghiệm hôm nay của bạn thế nào?

Hài lòng Khá hài lòng Cần cố gắng hơn

LIVEWORKSHEETS