LKPD Latihan

PELATIHAN TIK MTS KAB. SAMPANG

NAMA :

KELAS :

LIVEWORKSHEETS

Memasukkan Materi

1. Dalam bentuk video dari Youtube !

2. Dalam bentuk link (tautan) materi !

3. Dalam bentuk Sound (suara) !

LIVEWORKSHEETS

Isian Singkat (Textfield)

Jawablah pertanyaan berdasar pada cerita berikut ! Selamat mengerjakan !

KEBUN KAKEK

- Kakekku tinggal di desa Sukarame
- Kakekku adalah seorang petani
- Kakekku punya kebun yang luas
- Kebunnya ditanami sayuran
- Jika sudah libur sekolah, aku berkunjung kesana
- Disana aku membantu kakek menanam sayur

PERTANYAAN

1.Apa judul bacaan diatas ???

_____

2.Apa pekerjaan kakek ??

_____

3.Kebun kakek ditanami apa ??

_____

4.Dimana kakek tinggal ??

_____

LIVEWORKSHEETS

Single Choice

Tuliskan bagian-bagian bunga beserta fungsinya sesuai yang ditunjukkan oleh anak panah!

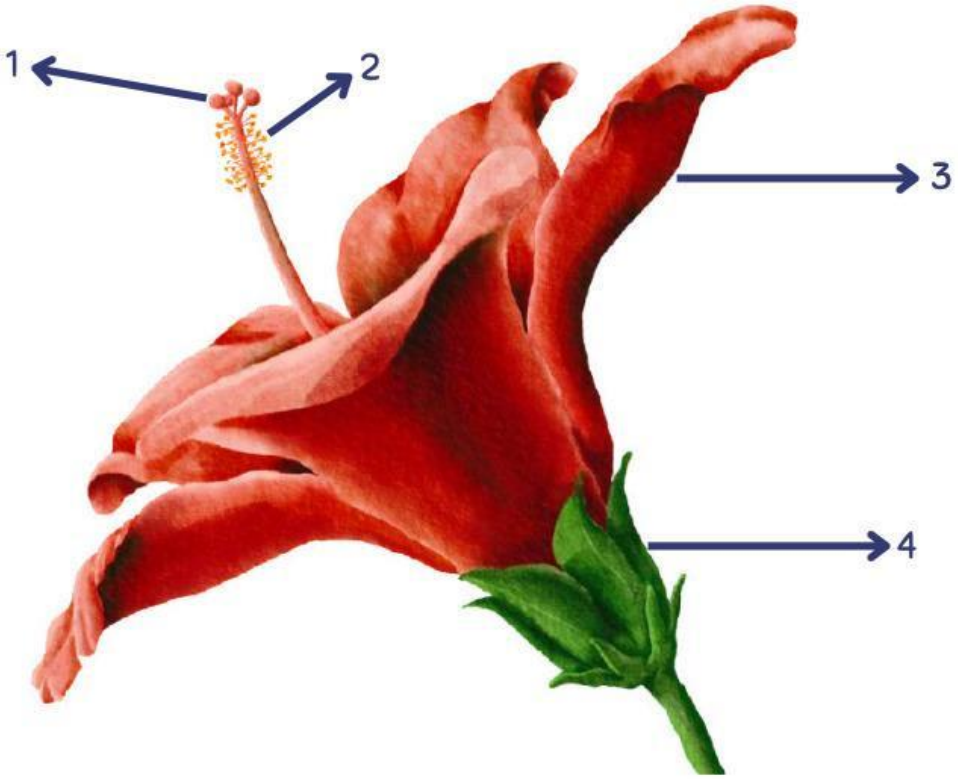

	berfungsi	Tempat penghasil sel telur (alat kelamin betina)
	berfungsi	Tempat penghasil serbuk sari (alat kelamin jantan)
	berfungsi	menarik perhatian serangga agar hinggap pada bunga
	berfungsi	melindungi bunga saat masih kuncup

LIVEWORKSHEETS

Checkboxes

- Tandai kotak yang sesuai dengan langkah-langkah yang benar dalam melakukan wudhu

  - [ ] Menggosok gigi
  - [ ] Mencuci tangan hingga siku
  - [ ] Memakai Sepatu
  - [ ] Mengusap kepala
  - [ ] Membasuh kaki hingga mata kaki

- Kabupaten/Kota yang termasuk wilayah propinsi jawa timur.

Probolinggo	Banjarnegara
Purbalingga	Pamekasan
Bojonegoro	Majalengka

Select (pilihan ganda)

- Proses fotosintesis pada tumbuhan terjadi di bagian:

A.

C.

B.

D.

- Produk utama dari proses fotosintesis adalah:

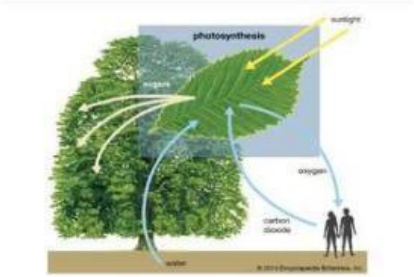

A. Protein B. Glukosa C. Lemak D. Asam amino

LIVEWORKSHEETS

Word Search

Sejarah Kerajaan di Indonesia

Temukan dan warnai kata sesuai dengan pertanyaan!

C	A	N	T	I	L	H	V	A	S	U	G	A	I	W
A	N	T	A	B	R	A	H	M	A	N	A	T	R	A
S	S	I	N	G	A	S	U	N	T	G	I	R	A	L
A	I	A	G	H	J	A	Y	A	B	A	Y	A	S	I
N	N	N	G	A	A	N	U	M	U	U	T	S	W	S
S	G	G	A	J	I	U	N	A	R	Y	U	P	A	O
E	A	R	C	A	L	D	G	U	A	R	P	A	R	N
K	S	U	A	R	A	D	A	N	A	U	I	N	K	G
E	A	S	I	I	N	I	B	D	S	S	N	A	U	O
R	R	U	N	S	D	N	I	I	A	A	G	K	T	N
T	I	N	G	K	I	T	A	B	U	D	D	H	A	T
A	R	I	G	A	J	A	H	M	A	D	A	R	I	E

1. Ajaran agama Hindu masuk ke Indonesia disebarkan oleh pendeta _____
2. Prasasti ditulis dengan menggunakan bahasa _____
3. Raja yang membawa Kerajaan Kediri meraih puncak kejayaan adalah Raja _____
4. Raja yang dijuluki "Ayam Jantan dari Timur" adalah Sultan _____
5. Candi Borobudur merupakan peninggalan kerajaan yang bercorak agama _____
6. Kerajaan yang didirikan oleh Ken Arok adalah _____
7. Panglima perang yang terkenal dari Kerajaan Majapahit adalah _____
8. Sembilan wali yang ikut menyebarkan ajaran agama Islam di Demak disebut _____
9. Prasasti Mulawarman disebut juga _____
10. Kerajaan Hindu tertua di Indonesia adalah Kerajaan _____

LIVEWORKSHEETS

Drop and Down

RANTAI MAKANAN

Amatilah gambar rantai makanan berikut dan letakkanlah kotak pada posisi yang tepat!

Produsen	Konsumen Primer	Konsumen Sekunder
Konsumen Tersier	Konsumen Final	Dekomposer

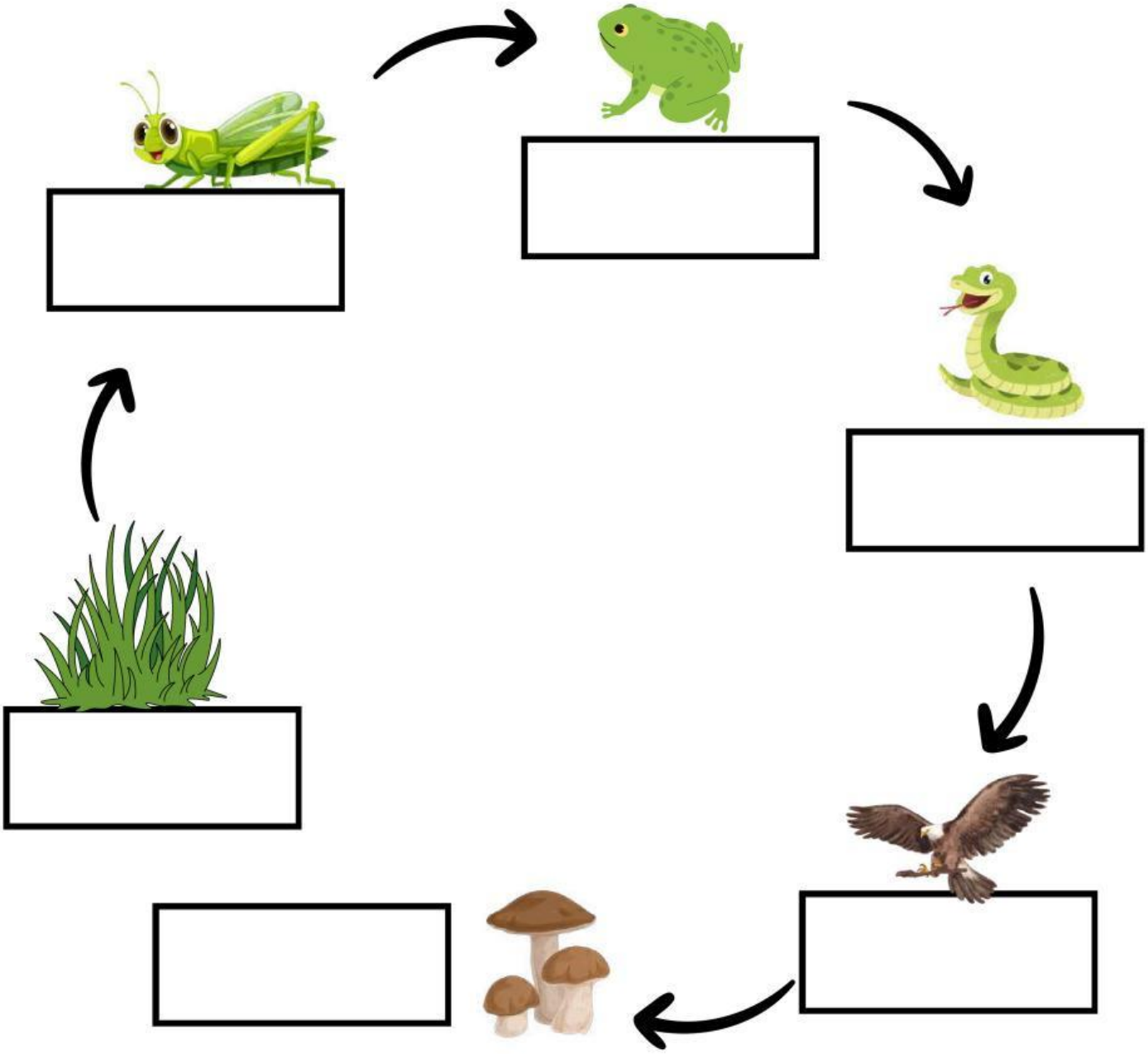

LIVEWORKSHEETS

Join

FUNGSI ORGAN TUBUH MANUSIA

Hubungkan gambar organ tubuh manusia sesuai dengan fungsinya!

Saluran pencernaan

Mengendalikan berbagai fungsi tubuh dan proses mental

Menyaring darah, menghilangkan limbah dan menghasilkan urin

Organ otot yang memompa darah ke seluruh tubuh

Organ pernapasan utama yang memungkinkan pertukaran gas

LIVEWORKSHEETS

Open Question

DATANGNYA BANGSA-BANGSA ASING KE INDONESIA

Carilah informasi berkaitan dengan datangnya bangsa-bangsa asing ke Indonesia, kemudian tulislah informasi yang kalian dapatkan dari berbagai sumber!

Bangsa dari mana saja yang datang ke Indonesia?

Apa tujuan bangsa-bangsa asing datang ke Indonesia?

Apa yang dilakukan oleh rakyat Indonesia terhadap bangsa asing tersebut?

LIVEWORKSHEETS