مملكة البحرين وزارة التربية والتعليم مدرسة أبو صبيع الابتدائية للبنين قسم الرياضيات	بطاقة تعليمية رقم ٥
العنوان: المستوى الإحداثي	الاسم : .....
نوع النشاط: تكويني (ورقة عمل)	الصف : رابع / ..... التاريخ : / / ٢٠٢١ م

١ حدّدِ الزَّوْجَ الـمُرتَّبَ الَّذي يُمثِّلُ مَوقِعَ كلٍّ من :

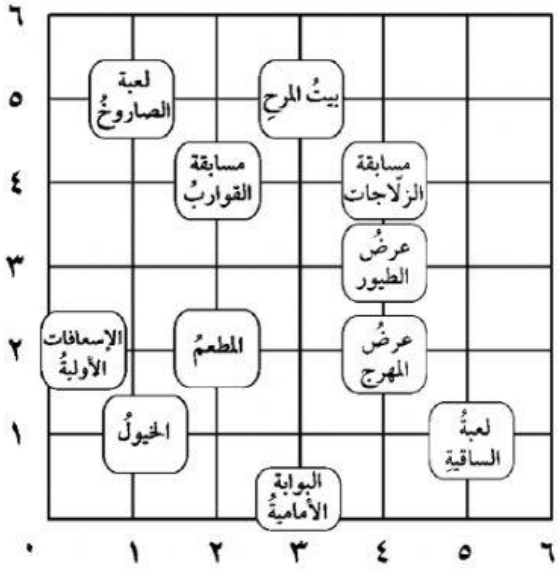

أ) مسابقة القوارب

ب) لعبة الساقية (،)

ج) لعبة الصاروخ (،)

د) المطعم (،)

هـ) البوابة الأمامية (،)

٢ اكْتُبِ الحَرفَ الَّذى يقعُ عندَ كلِّ زوجٍ مُرَتَّبٍ ممَّا يأتى :

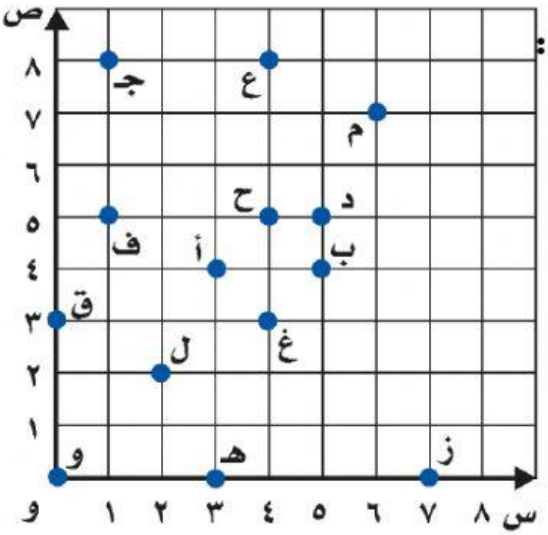

(٠،٠) : .....

(٦،٧) : .....

(٠،٣) : .....

(٢،٢) : .....

(٧،٠) : .....

(٤،٨) : .....

LIVEWORKSHEETS

٣ أعدَّ خمسةُ طلابٍ شبكةً لِمشروعٍ جماعي ، فعيَّنوا مواقعَ بيوتِهم ومدرستِهم علَى الشبكةِ .

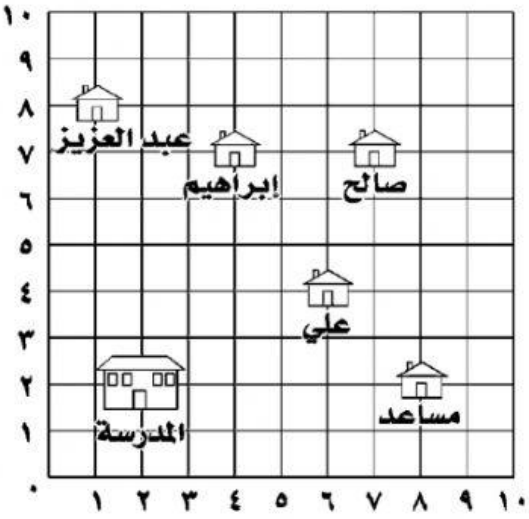

أ) صِفْ كَيفَ يَنتقِلُ صالِحٌ مِنْ بَيتِهِ إلى المَدْرَسةِ .

.....

ب) يُريدُ مساعِدٌ أنْ يَذْهبَ مِنْ بَيتِه إلى بَيْتِ عَبدِالعَزيزِ .

كَيفَ يُمكِنُه ذَلِكَ ؟

.....

٤ حدّدَ حسين نُقطةً تقعُ على بُعْدِ ٤ وحداتٍ فوقَ نُقطةِ الأصلِ و ٨ وحداتٍ إلى يَمينِ نقطةِ الأصلِ . ما الزَّوجُ المُرَتَّبُ لهذهِ النقطةِ ؟ .....

LIVEWORKSHEETS