LKPD

BANGUN DATAR

1. Perhatikan video berikut ini:

2. Perhatikan meteri presentasi berikut ini



Materi

Materi

LIVEWORKSHEETS

LKPD

BANGUN DATAR

1.**TEKSFIELD**

Bangun datar segi empat yang ke empat sisinyaa sama Panjang dan ke empat sudutnya siku-siku atau 90˚adalah.....

2. **SINGLE CHOICE**

Berikut ini yang bukan merupakan bangunan datar adalah.....

3. CHECKBOXES

Pernyataan yang benar adalah.....

Persegi memiliki 4 sisi

Lingkaran memiliki 6 sisi

Segitiga memiliki 3 sisi

LIVEWORKSHEETS

4. SELECT

Nama bangunan datar di bawah ini adalah.....

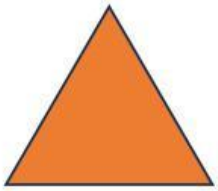

Persegi

Segitiga

Persegi Panjang

Lingkaran

LKPD

BANGUN DATAR

5. WORD SEARCH

Temukan 3 kata pada kotak di bawah ini.....

S	S	I	S	I
M	U	L	I	N
O	S	D	K	T
D	K	C	U	K
U	G	X	M	T

6. SPEAK

Sebutkan nama bangunan datar berikut dengan tepat!

LIVEWORKSHEETS

7. **LISTENING**

Dengarkan suara berikut dan tuliskan jawabannya dengan tepat!

8. DRAG & DROP

LINGKARAN

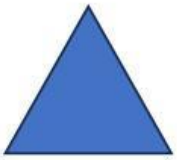

SEGITIGA

PERSEGI PANJANG

$\mathbf{L = \frac{1}{2} \times alas \times tinggi}$

$\boldsymbol{L = Panjang} \times \mathbf{Lebar}$

$\boldsymbol{L = \pi} \times \mathbf{r} \times \mathbf{r}$

LIVEWORKSHEETS

9. JOIN

Buatlah garis ke jawaban yang benar



LINGKARAN

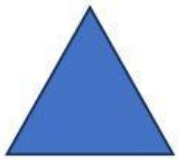

PESEGI PANJANG

SEGITIGA

LIVEWORKSHEETS