Lembar Kerja Peserta Didik

MATEMATIKA

Materi : Bangun Datar



NAMA : _____

KELAS : _____

LIVEWORKSHEETS

Nama Kelompok :

Anggota Kelompok :

Petunjuk :

kerjakan soal-soal dibawah ini dengan benar secara berkelompok !



1. Perhatikan gambar diatas. Manakah yang termasuk bangun datar persegi panjang ?
   Tambahkan sedikit teks isi

   Jawab :

2. Hitunglah keliling persegi, persegi panjang dan segitiga di bawah ini !

Jawab :

LIVEWORKSHEETS

3. Hitunglah luas persegi. Jika luasnya 128 cm dan panjangnya 16 cm, maka lebarnya adalah ?

Jawab :

4. Hitunglah luas segitiga pada gambar disamping !

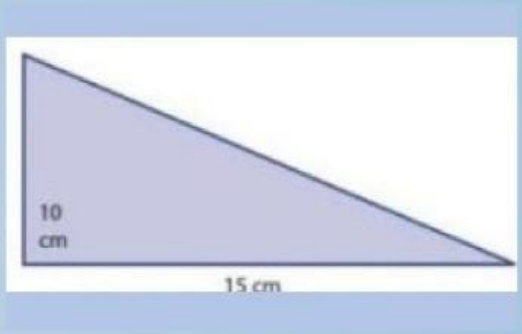

Jawab :

LIVEWORKSHEETS