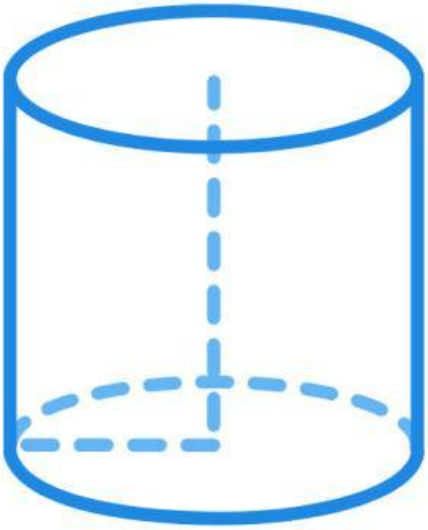

Lembar Kerja Peserta Didik

MATEMATIKA

Bangun Ruang Sisi Lengkung (Tabung)

Nama :

Kelas :

No. Absen :

LIVEWORKSHEETS

Mata pelajaran : Matematika
Kelas/Semester : VIII/2
Fase ; D
Materi Pokok : Tabung
Alokasi Waktu : 2 × 40 menit

Tujuan Pembelajaran

1. Siswa mampu memahami definisi tabung
2. Siswa mampu memahami jaring-jaring tabung
3. Siswa dapat menentukan luas permukaan tabung
4. Siswa dapat menentukan volume tabung

Petunjuk Belajar

1. Lengkapi nama, kelas, dan nomor absen terlebih dahulu
2. Pahami dan cermati dengan baik video pembelajaran yang disediakan
3. Jawablah soal Quiz di bawah dengan jawaban yang tepat dan benar
4. Jika sudah selesai, klik tombol "finish"

LIVEWORKSHEETS

Perhatikan video di bawah ini

Ayo kita menebak benda di sekitar yang berbentuk tabung !

LIVEWORKSHEETS

Ayo kita main quiz drag and drop!

Letakkan bagian-bagian dari tabung yang ada di bawah pada kotak yang sesuai di bagian tabung.

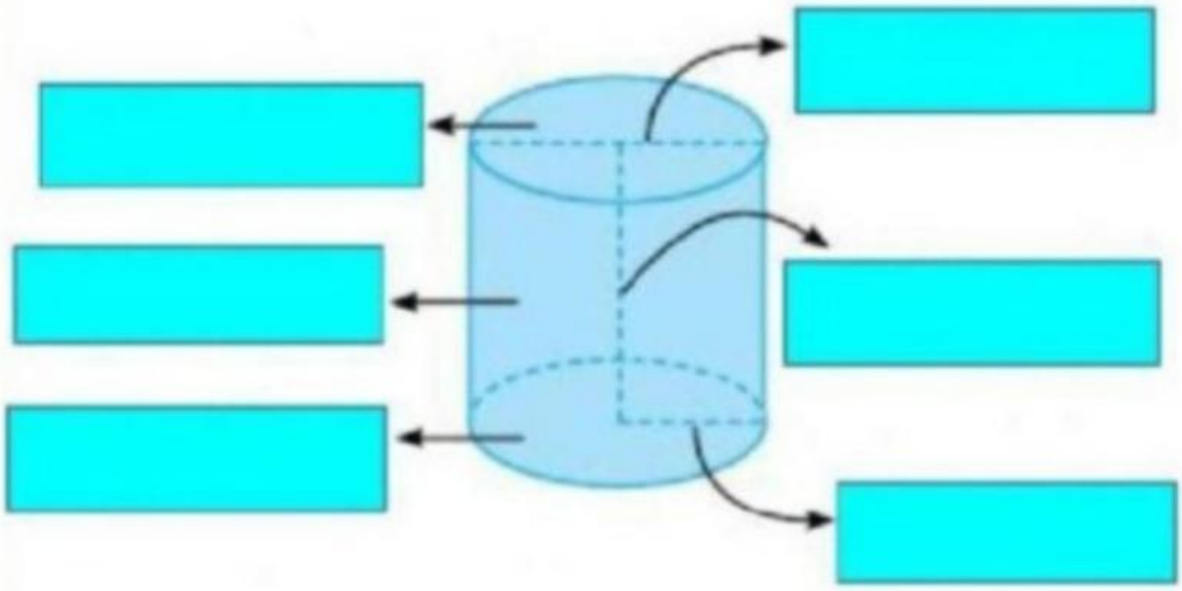

- Jari-jari
- Diameter
- Selimut tabung
- Alas tabung
- Tinggi tabung
- Tutup tabung

LIVEWORKSHEETS

Apabila sebuah kaleng berbentuk tabung dipotong, maka akan membentuk jaring-jaring tabung.
Tentukan jaring-jaring tabung yang benar!

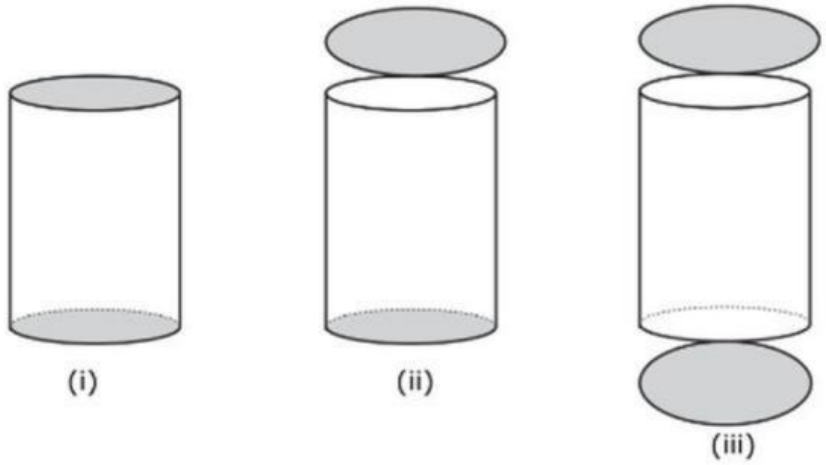

a

c

b

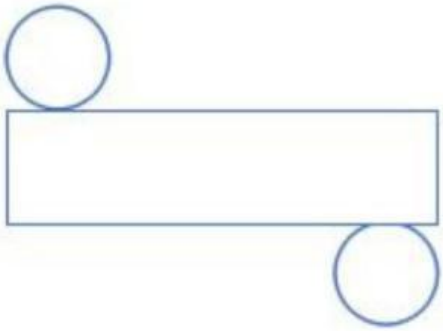

d

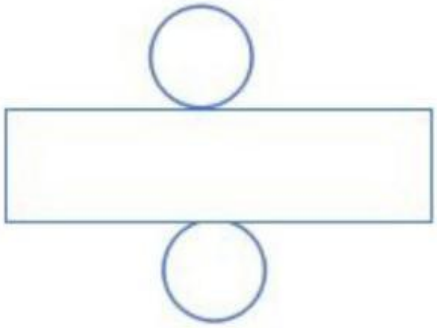

LIVEWORKSHEETS

Ayo ingat!!!

Pasangkan rumus tabung di bawah ini dengan tepat !

Rumus luas permukaan tabung	$\pi \times r^2 \times t$
Rumus alas tabung adalah...	$\pi \times r^2$
Rumus luas selimut tabung adalah...	$2 \times \pi \times r\ (r + t)$
Rumus volume tabung adalah...	$2 \times \pi \times r \times t$

LIVEWORKSHEETS

Ayo tes pemahaman!

Kerjakan soal Quiz dibawah ini agar teman-teman semakin paham dengan materi yang telah diberikan.

CLICK HERE

LIVEWORKSHEETS