LKPD 3

BANGUN RUANG SISI DATAR

Nama

Kelas

LIVEWORKSHEETS

Tujuan

- Menemukan unsur-unsur bangun ruang
- Menemukan rumus permukaan
- Menemukan rumus volume

LIVEWORKSHEETS

Simak video berikut

LIVEWORKSHEETS

Pasangkan gambar dan namanya

Gambar bangun	Nama bangun
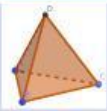	Kubus
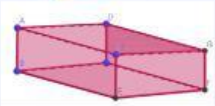	Balok
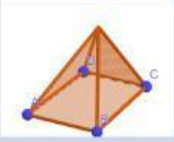	Limas segitiga
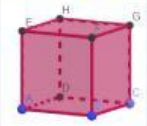	Limas segiempat

LIVEWORKSHEETS

Isilah tabel berikut

Nama bangun	Banyaknya ttitik sudut	Banyaknya rusuk	Banyaknya sisi
Prisma segitia			
Prisma segiempat			
Prisma segilima			
...			
Prisma segi-n			

LIVEWORKSHEETS

Isilah tabel berikut

Nama bangun	Banyaknya ttitik sudut	Banyaknya rusuk	Banyaknya sisi
Limas segitia			
Limas segiempat			
Limas segilima			
…			
Limas segi-n			

LIVEWORKSHEETS

Pilihlah yang benar

Manakah yang merupakan rumus persegi panjang

a. pxl
b. sxs

LIVEWORKSHEETS

Pilihlah yang benar

Manakah rumus permukaan kubus yang benar?

a. 6xsxs
b. 6xrxr

LIVEWORKSHEETS

Manakah yang termasuk prisma?

- Kubus
- Balok
- Prisma segitiga
- Limas segitiga

LIVEWORKSHEETS

Posisikan jaring-jarring pada bangun yang sesuai

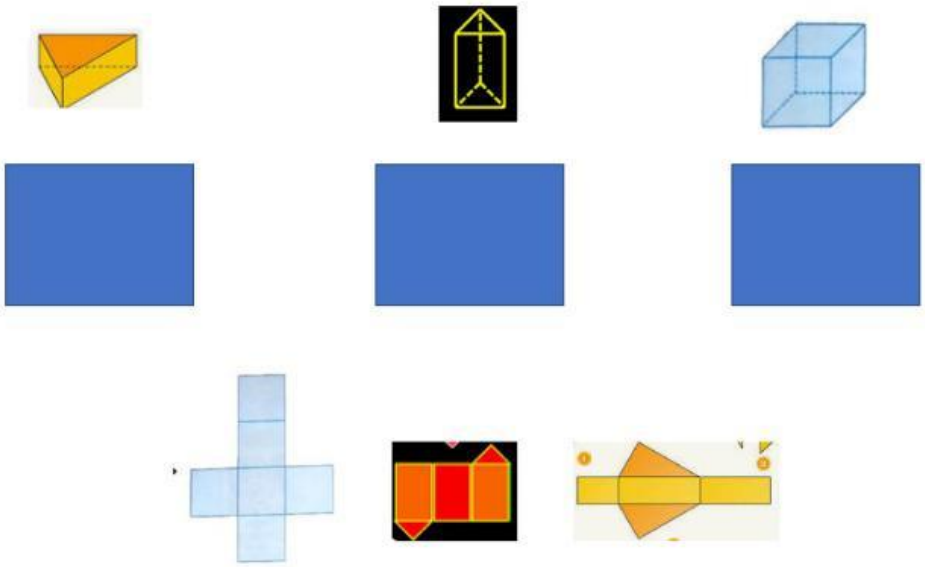

LIVEWORKSHEETS