ورقة عمل ميل المستقيم

الاسم :

اختر الاجابه الصحيحه فيما يأتي:

1- أي ميل في الشكل المقابل

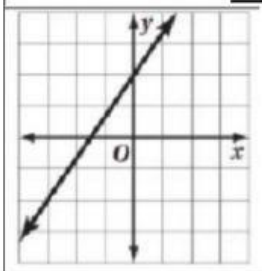

1) موجب
2) سالب
3) صفر
4) **غير معرف**

2- أي ميل في الشكل المقابل

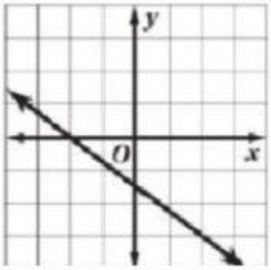

1) موجب
2) سالب
3) صفر
4) غير معرف

3- أي ميل في الشكل المقابل

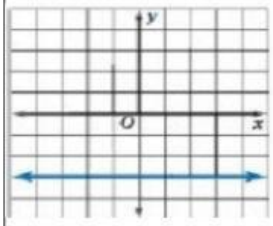

1) موجب
2) سالب
3) صفر
4) غير معروف

4- أي ميل في الشكل المقابل

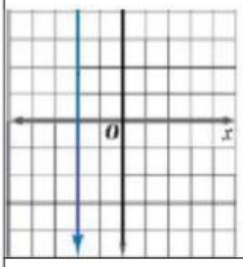

1) موجب
2) سالب
3) صفر
4) غير معرف

5) ميل المستقيم الذي معادلته y=1

1) 1 2) 2 3) -1 4) غير معرف

6) أي مستقيم افقي

1) 1 2) 0 3) -1 4)غير معرف

7)ميل المستقيم الرأسي

1) 1 2) 0 3) -1 4) غيرمعرف

LIVEWORKSHEETS