Thingking Activity

LEMBAR KERJA PESERTA DIDIK

MATERI POKOK

"Usaha"

Kelompok :

Kelas :

Nama Anggota :

Perhatikan gambar dibawah ini dan jawablah pertanyaan dengan benar!



Gambar anak mendorong tembok



Gambar anak membawa buku

LIVEWORKSHEETS

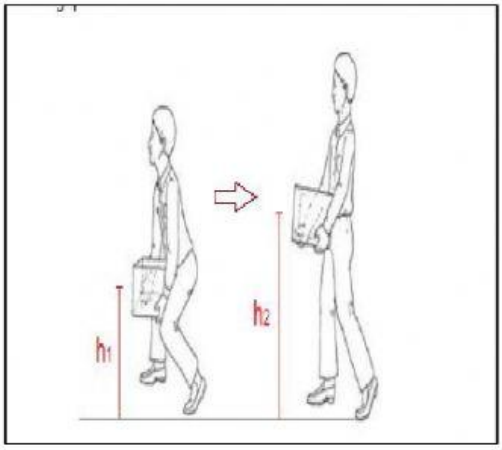

Gambar anak mengangkat beban

Gambar anak mendorong meja

1. Apakah semua aktivitas diatas dapat dikatakan melakukan usaha?Jelaskan

Jawab:

2. Manakah gambar yang menunjukkan adanya usaha menurut ilmu fisika? Jelaskan!

Jawab:

3. Manakah gambar yang tidak menunjukkan adanya usaha menurut ilmu fisika? Jelaskan!

Jawab:

LIVEWORKSHEETS

4. Kapan seseorang dikatakan tidak melakukan usaha?

Jawab:

5. Apa yang dapat kalian simpulkan dari gambar diatas terkait materi usaha yang telah kalian pelajari?

Jawab:

~SELAMAT MENGERJAKAN~

1.

LIVEWORKSHEETS