CENTRO EDUCATIVO *Jaime Torres Bodet*

Examen Segundo Trimestre, Matemáticas.

Primer Grado

Nombre del alumno(a):_____

1. Acomoda los arboles del más alto al más bajo.

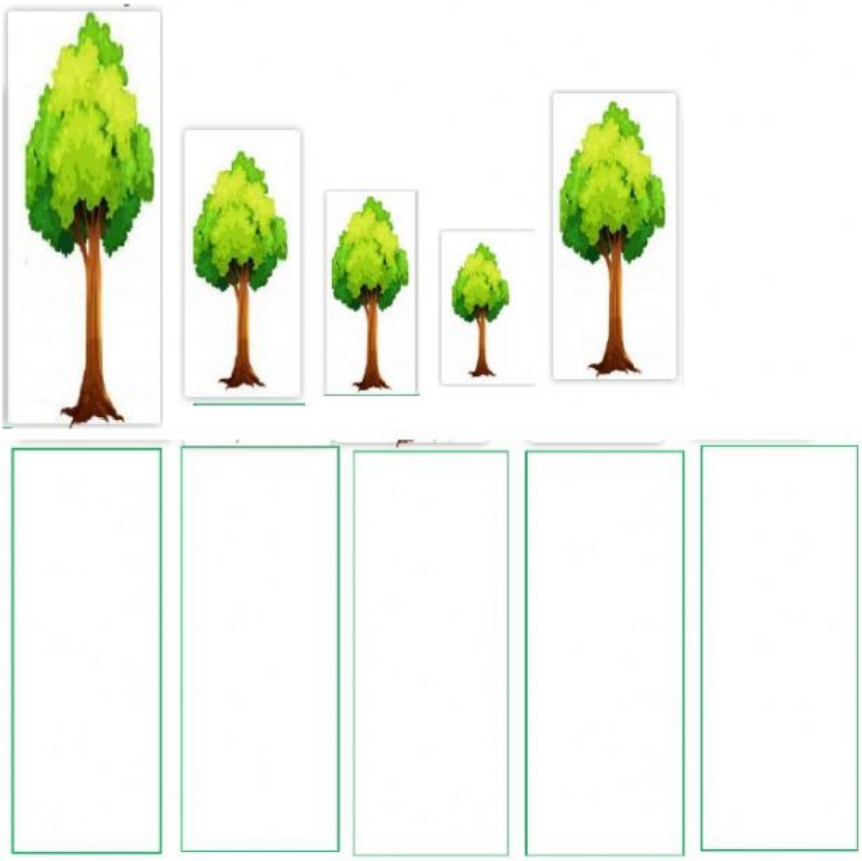

2. Acomoda los arboles del más delgado al más grueso.



LIVEWORKSHEETS

CENTRO EDUCATIVO Jaime Torres Bodet

3. Cuenta los bloques para medir cada objeto. Escribe el número en el cuadro.



4. Escribe cerca o lejos según sea el caso.

La rana esta _____ del perro.

El rinoceronte aparece_____ de la jirafa.

La rana esta _____ del rinoceronte.

LIVEWORKSHEETS

CENTRO EDUCATIVO *Jaime Torres Bodet*

5. Escribe los meses que faltan.

_____Marzo_____ _____Diciembre_____

_____Septiembre_____ _____Abril_____

6. Observa el calendario y contesta lo que se te solicita.

Mayo 2020

Lunes	Martes	Miércoles	Jueves	Viernes	Sábado	Domingo
				1	2	3
4	5	6	7	8	9	10
11	12	13	14	15	16	17
18	19	20	21	22	23	24
25	26	27	28	29	30	31

¿Cuánto días tiene Mayo?_____

Si hoy es día 5, y el cumpleaños de mi hermana es el 18¿Cuántos días faltan?_____

7.Observa las unidades y decenas, escribe cuántas decenas y unidades hay.

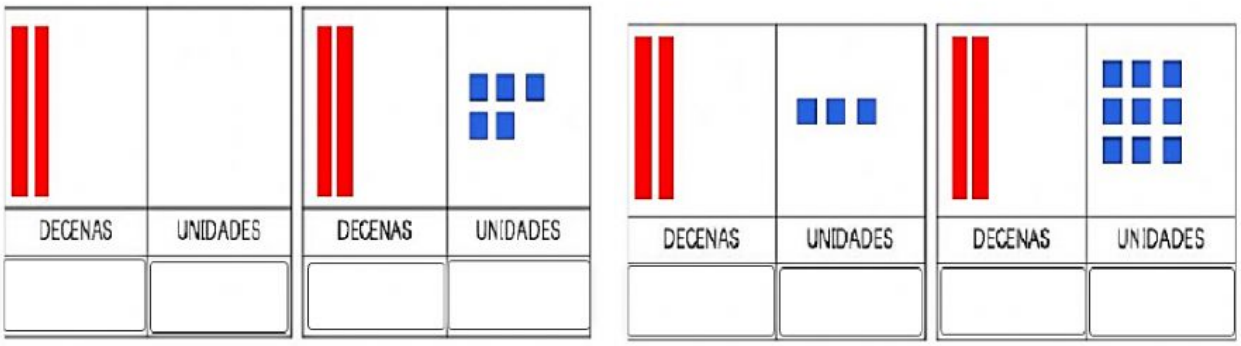

LIVEWORKSHEETS

CENTRO EDUCATIVO *Jaime Torres Bodet*

Une con una línea la cantidad que representa.

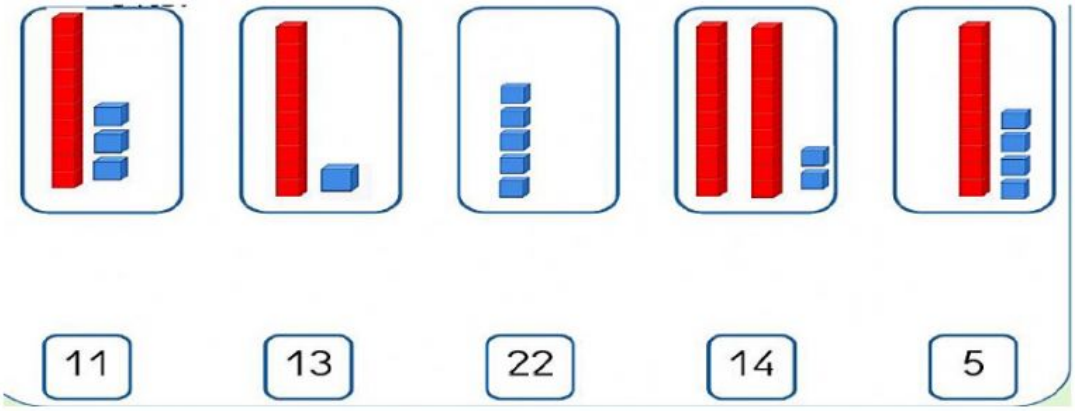

8.Relaciona cada número con la cantidad de decenas que tiene.

Número	**Decenas.**
67	**5**
96	**6**
73	**7**
56	**9**

9. Ordena los objetos del 1 al 5 del menos pesado al más pesado.

LIVEWORKSHEETS

CENTRO EDUCATIVO *Jaime Torres Bodet*

10. Relaciona cada figura con su nombre.

11. Ordena los recipientes al que le cabe menos al que le cabe más.

1	2	3	4	5

Material de Mundo ABC

LIVEWORKSHEETS