| | |
|---|---|
| ESTADO DA PARAÍBA<br>PREFEITURA MUNICIPAL DE JOÃO PESSOA<br>SECRETARIA DE EDUCAÇÃO E CULTURA<br>E. M. A.I GOVERNADOR LEONEL BRIZOLA | |
| **PROFESSOR (A):** Kyssiane de Oliveira | **SÉRIE/ TURMA:** |
| **COMPONENTE CURRICULAR:** Ciências | **DATA:** |
| **ALUNO (A):** | |
| **TEMA:** os movimentos da Terra. | |

**Para ajudar seus estudos, acesso o vídeo ao lado, através do Qr Code**

**Sobre os movimentos da Terra aos seus fenômenos astronômicos responda os quadros abaixo:**

# MOVIMENTOS DA TERRA

LIGUE CADA INFORMAÇÃO AO NOME DO MOVIMENTO QUE A TERRA FAZ:

DÁ ORIGEM AS ESTAÇÕES DO ANO

DÁ ORIGEM AO DIA E A NOITE

DURA APROXIMADAMENTE 365 DIAS

DURA 24 HORAS

ROTAÇÃO

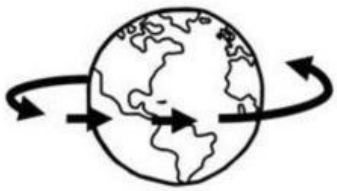

TRANSLAÇÃO



MOVIMENTO QUE A TERRA FAZ EM TORNO DO SOL

MOVIMENTO QUE A TERRA FAZ EM TORNO DE SI MESMA.

LIVEWORKSHEETS

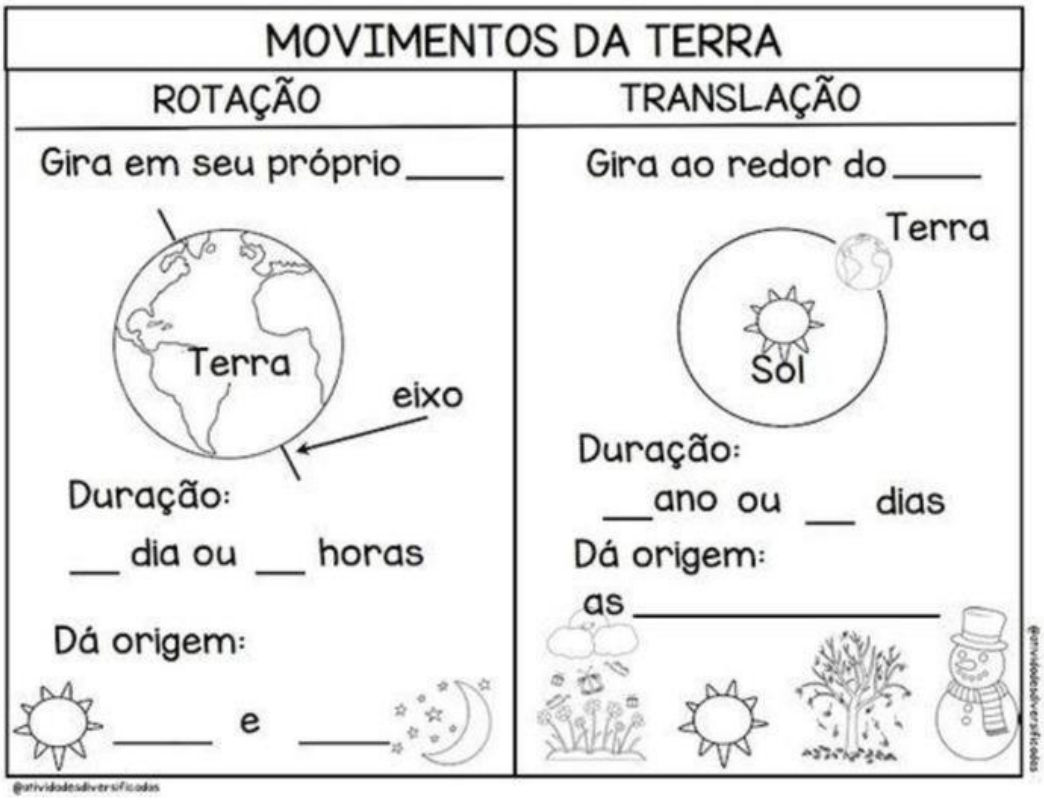


**Observe a imagem abaixo que está representando o movimento de translação da Terra e preencha corretamente os quadros com as estações do ano.**

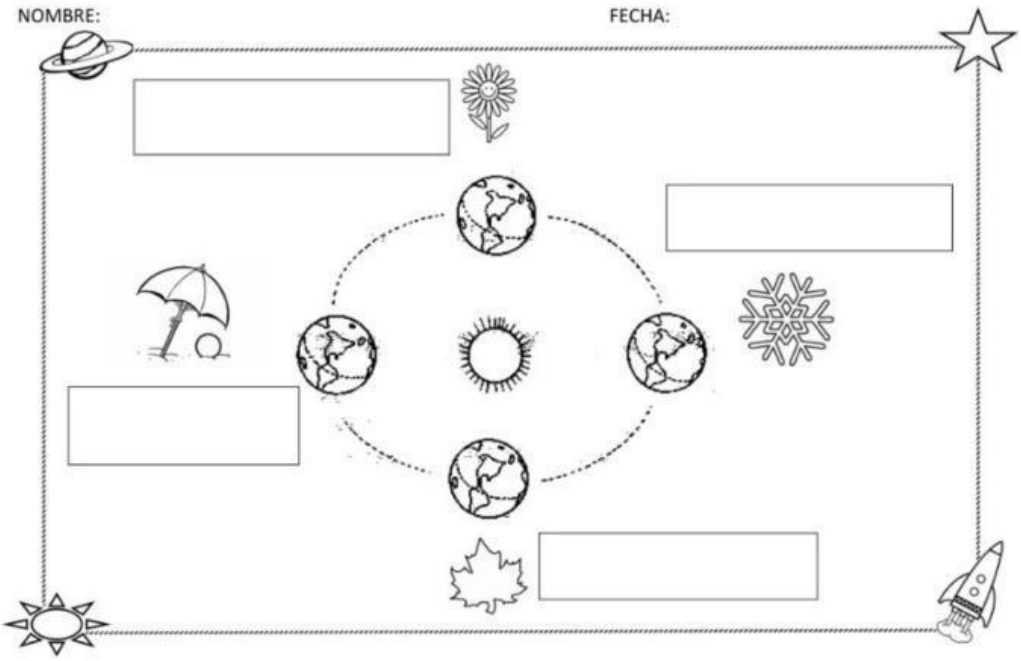


LIVEWORKSHEETS