Name: Date:

CONGRUENCE

ความเท่ากันทุกประการ

คำชี้แจง พิจารณารูปสามเหลี่ยมสองรูปที่เท่ากันทุกประการในแต่ละข้อ และเลือกข้อความจากกล่องข้อความด้านล่างที่กำหนดให้ ให้ตรงกับความสัมพันธ์ของมุมและด้านที่กำหนดให้รูปทั้งสอง

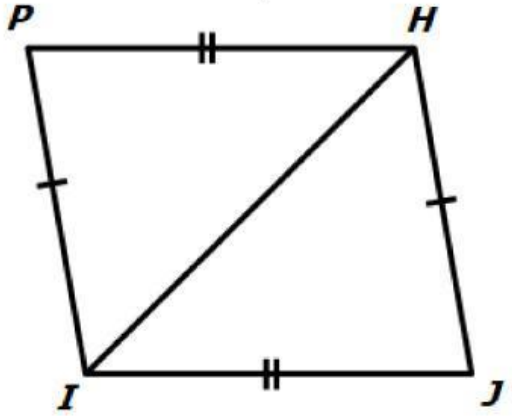

1.) .....

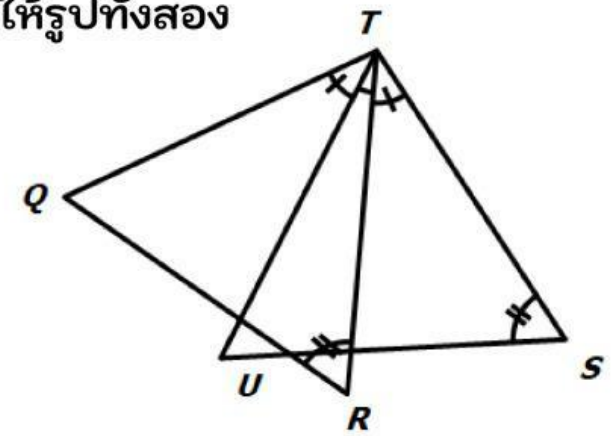

2.) .....

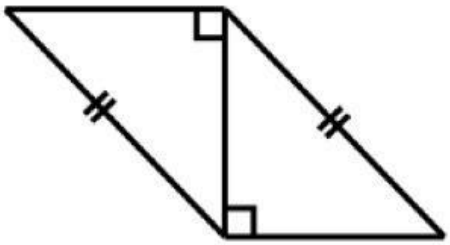

3.) .....

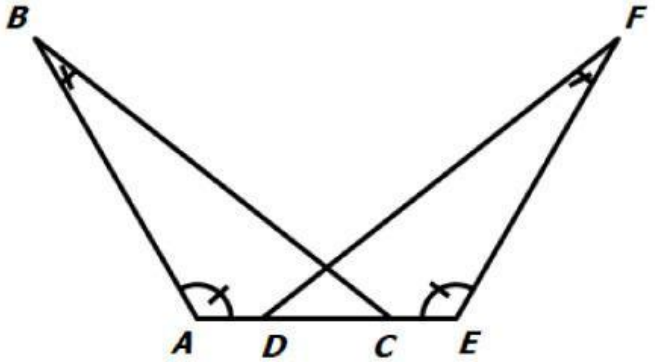

4.) .....

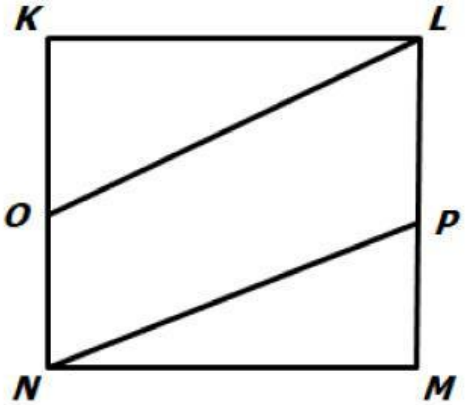

5.) .....

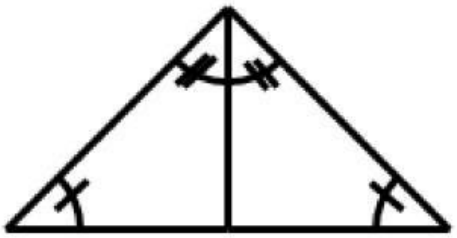

6.) .....

LIVEWORKSHEETS